ÁREA: MATEMÁTICA

A

GRADO: 3°

APRENDEMOS A MULTIPLICAR

En la granja de la familia Rojas, hay 3 gallinas. Cada una de ellas tiene 6 pollitos.

¿Cuántos pollitos hay en total en la granja?

Elige la representación que corresponde a los datos del problema.

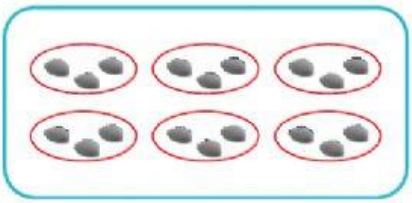



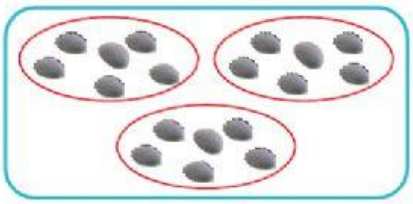

01
LIVEWORKSHEETS

En la granja de la familia Rojas, hay 3 gallinas. Cada una de ellas tiene 6 pollitos.

¿Cuántos pollitos hay en total en la granja?

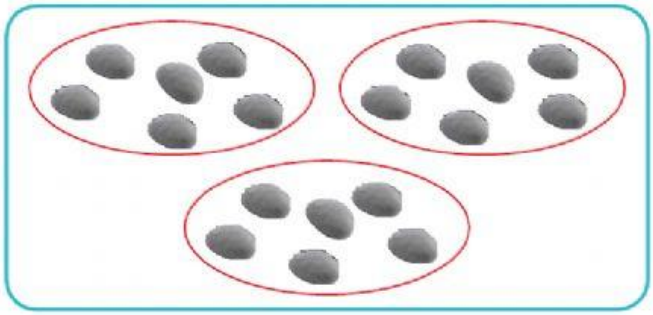

Elige la afirmación correcta según el gráfico.

Hay 3 veces 3 pollitos.

Hay 6 veces 3 pollitos.

Hay 3 veces 6 pollitos.

02
LIVEWORKSHEETS

En una granja familiar, hay 3 gallinas. Cada una de ellas tiene 6 pollitos.

¿Cuántos pollitos hay en total en la granja?

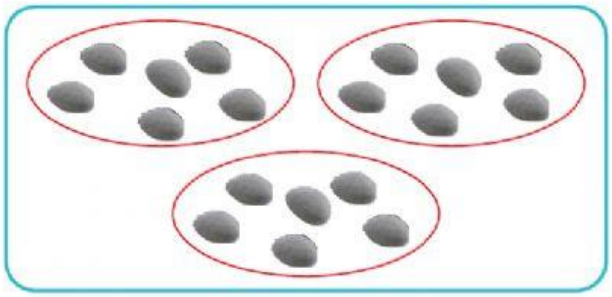

12

15

18

21

03
LIVEWORKSHEETS

En Ucayali, un grupo de estudiantes cultivan papayas en la huerta de su escuela. Hay 5 plantas con frutos maduros. Ellos cosechan 9 papayas de cada planta.

¿Cuántos grupos de papayas se han formado?

Observa la representación con regletas.



9	5
7	3

04
LIVEWORKSHEETS

En Ucayali, un grupo de estudiantes cultiva papayas en la huerta de su escuela. Hay 5 plantas con frutos maduros. Ellos cosechan 9 papayas de cada planta.

¿Cuántas papayas cosecharon en total?

Elige la afirmación correcta de acuerdo a la representación.



Hay 5 veces 9 papayas.

Hay 9 veces 5 papayas.

Hay 5 veces 5 papayas.

05
LIVEWORKSHEETS

El papá de Evangelina trabaja haciendo pasteles. Él compró 4 cajas de huevos, como la que observas. ¿Cuántos huevos compró en total?

Evangelina contó las filas de una caja.



1 vez

Elige la opción que representa el resultado del conteo.

- **3 veces 3**
- **5 veces 4**
- **3 veces 5**

06
LIVEWORKSHEETS

El papá de Evangelina trabaja haciendo pasteles. Él compró 4 cajas de huevos, como la que observas.

¿Cómo representas la cantidad de huevos con sumas reiteradas?



1 vez 15 | 2 veces 15 | 3 veces 15 | 4 veces 15

15 + ☐ + 15 + ☐ = ☐

07
LIVEWORKSHEETS

El papá de Evangelina trabaja haciendo pasteles. Él compró 4 cajas de huevos, como la que observas. ¿Cuántos huevos hay en total?

Elige la operación y responde el problema.

1 vez 15

2 veces 15

3 veces 15

4 veces 15

4 x 12 = 48

4 x 15 = 60

3 x 15 = 45

En total, hay ____ huevos.

08
LIVEWORKSHEETS

Eliana trabaja como ayudante de cocina, de lunes a sábado. Una de sus tareas es pelar 7 kilogramos de papa cada día.

¿Cuántos kilogramos de papa pela durante una semana?

Elige la alternativa que expresa la información representada en la caja Mackinder.

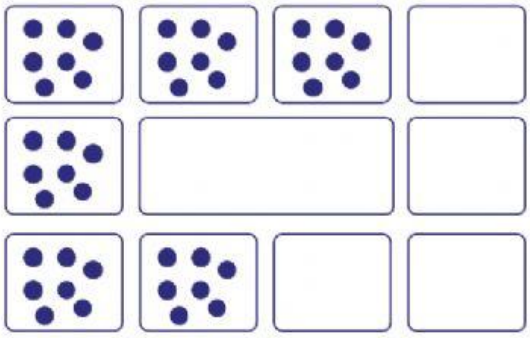

- 7 veces 6
- 6 veces 7
- 5 veces 7

09
LIVEWORKSHEETS