Setiap soalan diikuti oleh empat jawapan pilihan, A, B, C dan D.
Pilih jawapan yang betul.

UPSR APAKAH BURUJ?

1. Apakah yang dimaksudkan dengan buruj?
   A Langit yang dipenuhi bintang
   B Corak-corak yang kelihatan di langit pada waktu malam
   C Sekumpulan bintang yang membentuk corak tertentu di langit
   D Bintang-bintang yang bercahaya di langit

UPSR BURUJ DI LANGIT MALAM

2. Rajah 1 menunjukkan satu buruj.



Rajah 1

Apakah buruj ini?
A Pari B Skorpio
C Belantik D Biduk

3. Rajah 2 menunjukkan empat bintang, W, X, Y dan Z pada buruj Pari.

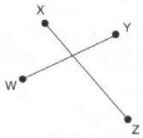

Rajah 2

Bintang yang manakah digunakan untuk menentukan arah selatan?
A W B Y
C X D Z

4. Rajah 3 menunjukkan dua buruj yang berbeza.
KSSR UPSR 2018

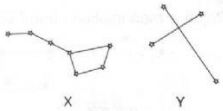

Rajah 3

Apakah arah yang ditunjukkan oleh buruj X dan buruj Y?

	Buruj X	Buruj Y
A	Utara	Utara
B	Selatan	Selatan
C	Utara	Selatan
D	Selatan	Utara

5. Maklumat berikut merujuk kepada buruj P.

- Terdiri daripada empat bintang
- Mempunyai corak seperti layang-layang

Apakah buruj P?
A Belantik B Biduk
C Skorpio D Pari

6. Buruj yang manakah boleh dilihat antara bulan Disember hingga Februari?

A
B
C 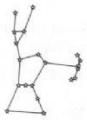
D

7. Antara objek berikut, yang manakah boleh dikaitkan dengan bentuk buruj Pari?

A
B
C
D

8. Rajah 4 menunjukkan buruj Biduk.

Rajah 4

Antara pernyataan berikut, yang manakah benar?
A Buruj itu terdiri daripada gugusan tujuh bintang yang utama.
B Bentuk buruj itu kelihatan seperti beruang.
C Buruj itu sentiasa berada di langit sebelah selatan.
D Buruj itu terdiri daripada tujuh buah planet.

9. Rajah 5 menunjukkan sejenis buruj.

Rajah 5

Dalam bulan berapakah buruj ini boleh dilihat?
A Antara bulan Jun hingga Ogos
B Antara bulan April hingga Jun
C Antara bulan Mei hingga September
D Antara bulan Disember hingga Februari

10. Menyerupai seorang pemburu dengan sebilah pedang.

Buruj yang manakah berkaitan dengan pernyataan di atas?
A Belantik B Biduk
C Skorpio D Pari

11.
- Buruj ini kelihatan seperti mempunyai kepala, badan yang panjang, berekor dan bersengat.
- Buruj ini boleh dilihat dari bulan Jun hingga Ogos.

Apakah buruj yang dihuraikan di atas?
A Biduk B Pari
C Belantik D Skorpio

UPSR KEGUNAAN BURUJ

12. Sebuah kapal layar sedang belayar pada waktu malam menuju ke arah selatan.

Jika alat penunjuk arah kapal layar itu rosak, kapten kapal itu boleh menentukan arah dengan cara...
A melihat Bulan.
B melihat buruj Pari.
C menyukat suhu air laut.
D merasa arah tiupan angin.

13. Apakah kepentingan buruj kepada manusia?
A Untuk menunjuk arah
B Untuk menentukan musim sejuk
C Untuk mengkaji kedudukan bintang
D Untuk mencari lokasi sesuatu tempat

14. Rajah 6 menunjukkan sejenis buruj.

Rajah 6

Antara objek berikut, yang manakah mempunyai fungsi yang sama seperti buruj?

A
B
C
D

LIVEWORKSHEETS