Examen de Matemáticas segundo trimestre

Nombres y apellidos: _____

1.- Escribe el número correcto en cada caso.

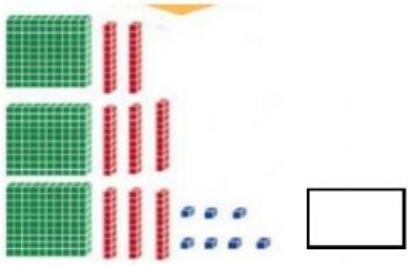

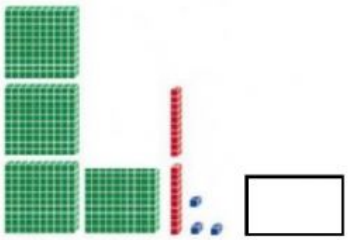

- Observa el ejemplo con atención y completa.

256 = 2C + 5D + 6U = 200 + 20 + 6

391 = ☐ + ☐ + ☐ = ☐ + ☐ + ☐

418 = ☐ + ☐ + ☐ = ☐ + ☐ + ☐

264 = ☐ + ☐ + ☐ = ☐ + ☐ + ☐

2.- Escribe en literal o numeral los siguientes:

305 ☐

374 ☐

229 ☐

Trescientos dos ☐

Doscientos setenta y siete ☐

3.- Resuelve las sumas con la prueba de la resta y luego resuelve los ejercicios de resta.

☐☐
235
\+
579
☐☐☐
\-
☐☐☐
☐☐☐

☐☐
387
\+
485
☐☐☐
\-
☐☐☐
☐☐☐

☐☐
467
\+
265
☐☐☐
\-
☐☐☐
☐☐☐

LIVEWORKSHEETS

$$\begin{array}{r} \square\square \\ 5\,2\square 4 \\ -\quad 2\,6\,9 \\ \hline \square\square\square \end{array} \qquad \begin{array}{r} \square\square \\ 6\,2\square 8 \\ -\quad 4\,3\,9 \\ \hline \square\square\square \end{array}$$

4.- Aplica la propiedad conmutativa en las adiciones.

268 + 36 = $\square$ + $\square$

$\square$ = $\square$

332 + 121 = $\square$ + $\square$

$\square$ = $\square$

465 + 234 = $\square$ + $\square$

$\square$ = $\square$

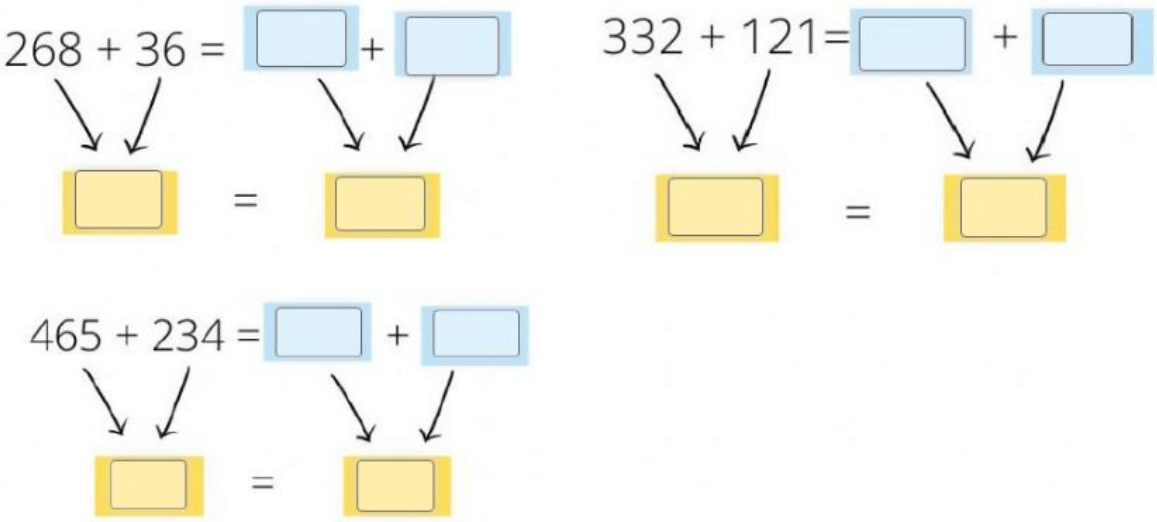

5.- Aplica la propiedad asociativa en las adiciones.

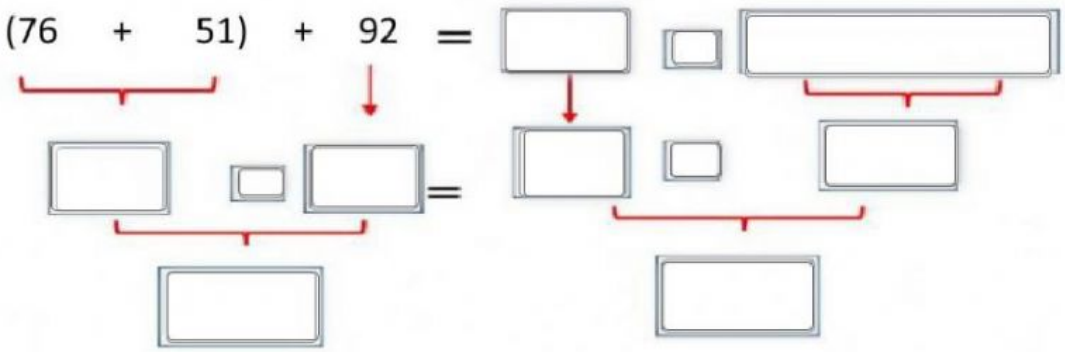

(76 + 51) + 92 = $\square$ $\square$ $\square$

$\square$ $\square$ $\square$ = $\square$ $\square$ $\square$

$\square$ $\square$

16+(4+5) = ($\square$ + $\square$) + $\square$

$\square$ + $\square$ = $\square$ + $\square$

$\square$ = $\square$

LIVEWORKSHEETS