ใบงานที่ 14
เรื่อง แรงลัพธ์และทิศทางการเคลื่อนที่ของวัตถุ

ชื่อ.....ชั้น.....เลขที่.....

คำชี้แจง : ให้นักเรียนหาแรงลัพธ์ที่กระทำต่อวัตถุและบอกทิศทางการเคลื่อนที่ของวัตถุให้ถูกต้อง

ทิศทางของแรงลัพธ์ .....

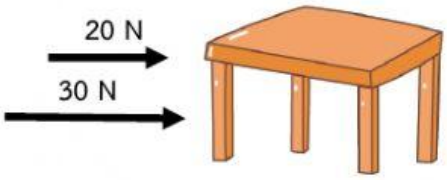

แรงลัพธ์เท่ากับ .....

วัตถุเคลื่อนที่ .....

ทิศทางของแรงลัพธ์ .....

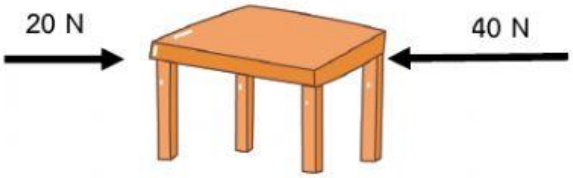

แรงลัพธ์เท่ากับ .....

วัตถุเคลื่อนที่ .....

ทิศทางของแรงลัพธ์ .....

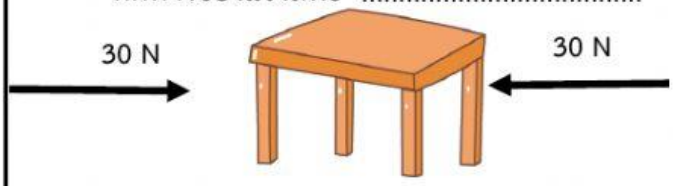

แรงลัพธ์เท่ากับ .....

วัตถุเคลื่อนที่ .....

ทิศทางของแรงลัพธ์ .....

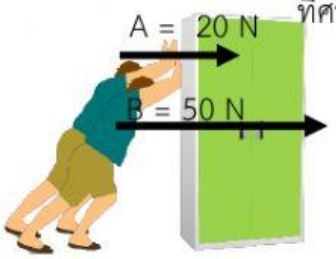

แรงลัพธ์เท่ากับ .....

วัตถุเคลื่อนที่ .....

ทิศทางของแรงลัพธ์ .....

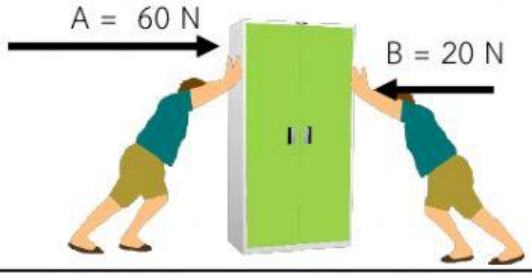

แรงลัพธ์เท่ากับ .....

วัตถุเคลื่อนที่ .....

LIVEWORKSHEETS