EZRA TAFT BENSON

LECCIÓN : MATEMÁTICA 3° PARCIAL

FECHA: 30/08/2021

1. Escribe qué cuerpo geométrico es.

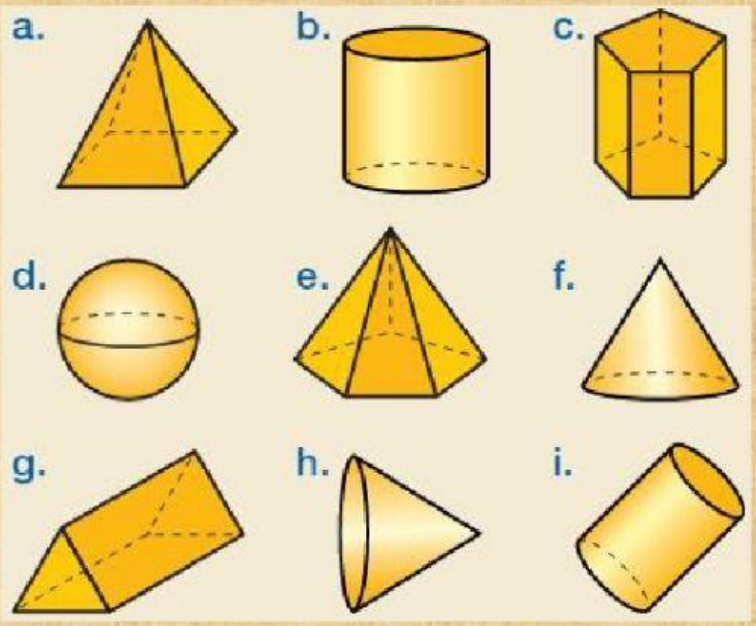

a.

b.

c.

d.

e.

f.

g.

h.

i.

¿Cuáles son poliedros? a. b. c. d. e. f. g. h. i.

¿Cuáles son cuerpos redondos? a. b. c. d. e. f. g. h. i.

2. Observa y completa la ficha de la imagen.

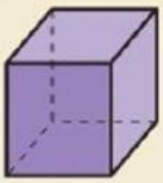

Nombre ▸ …

Polígono de la base o las bases ▸ …

Número de caras laterales ▸ …

Número de vértices ▸ …

Número de aristas ▸ …

LIVEWORKSHEETS
LIVEWORKSHEETS

3. Elige y coloca para cada figura las opciones adecuadas.

POLIEDRO	CUERPO REDONDO	CARAS LATERALES PLANES	SUPERFICIE LATERAL CURVA
UNA BASE	DOS BASES	SU BASE ES UN CÍRCULO	SU BASE ES UN TRIÁNGULO

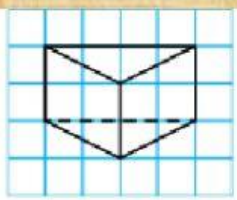

Tipo de figura:

Número de bases:

Forma de sus bases:

Caras laterales:

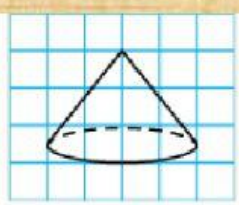

Tipo de figura:

Número de bases:

Forma de sus bases:

Caras laterales:

4. ¿Qué cuerpo geométrico es? Lee cada descripción y escribe.

LIVEWORKSHEETS
LIVEWORKSHEETS

- Sus dos bases son círculos iguales.
- Todas sus caras son cuadrados.
- No tiene bases.
- Su única base es un pentágono.
- Solo tiene un vértice.
- Sus bases son triángulos y sus caras laterales son cuadriláteros.

5. Observa y contesta.

El ayuntamiento quiere colocar bloques de piedra como estos en una plaza.

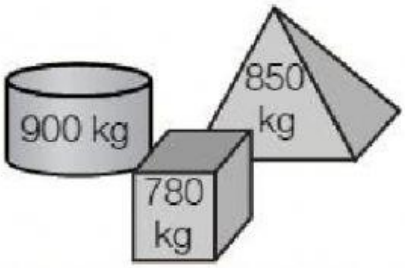

- ¿Qué forma tiene el bloque que pesa más?
  ¿Y el que pesa menos?
- ¿Es fácil hacer una escultura colocando la pirámide encima del cilindro?
  ¿Y el prisma encima de la pirámide?

6.-Observa y selecciona sólo los prismas

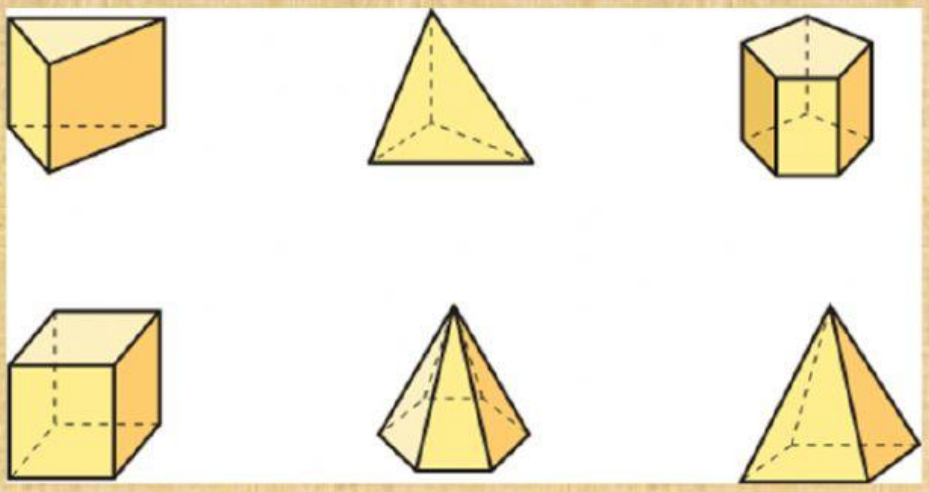

Docente Diana Solórzano

LIVEWORKSHEETS
LIVEWORKSHEETS