UNIDAD EDUCATIVA PARTICULAR BILINGÜE LICEO PANAMERICANO
EVALUACIÒN SUMATIVA: PRIMER PARCIAL PRIMER QUIMESTRE
ASIGNATURA: Matemática DOCENTE: Karen Andrade, María O´Brien, Noemí Vélez, Raquel Rubio
PRUEBA N°:
GRADO O CURSO: 2DO PARALELO: A – B – C - D
PERÍODO LECTIVO: 2021- 2022

Calificación

Nombre del Estudiante…….. Fecha: ……

1.- Realice las siguientes sumas verticales. (0,25c/u 2 pts.)

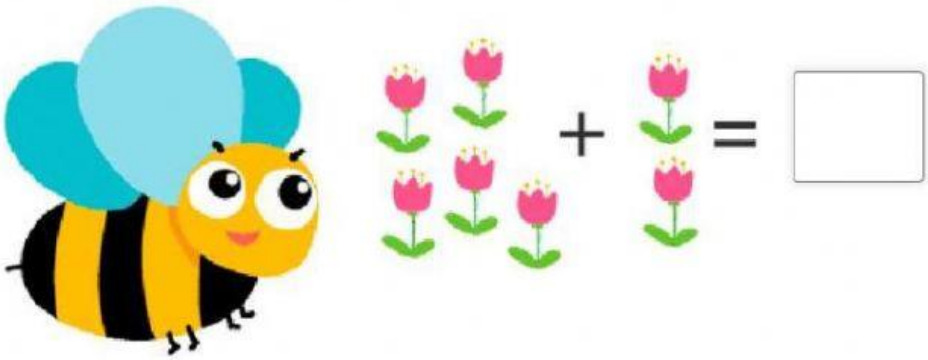

8	3	1	3
+ 1	+ 5	+ 4	+ 4

3	4	2	1
+ 6	+ 4	+ 3	+ 7

LIVEWORKSHEETS

2.- Escriba el signo que corresponda > mayor que, < menor que, = igual. (0,25 c/u 1,75pts)

menor que	10		12
mayor que	20		18
menor que	25		30
igual que	34		34
menor que	5		8
mayor que	29		26
igual que	12		12

3.- Compare y arrastre los signos que correspondan (0,25 c/u 1,75 pts)

> > < < = =

2U		1D + 1U	1D + 6U		13
1D + 7U		1D + 4U	1D + 8U		1D + 9U
1D + 8U		10 + 8	1D + 3U		1D + 3U

LIVEWORKSHEETS

4.- Dictado de números. (0,25 c/u 2,50pts)

4.- Escriba los números que representan la regleta matemática, luego coloca el signo mayor que, menor que(0,25 c/u 2pts)

> > < <

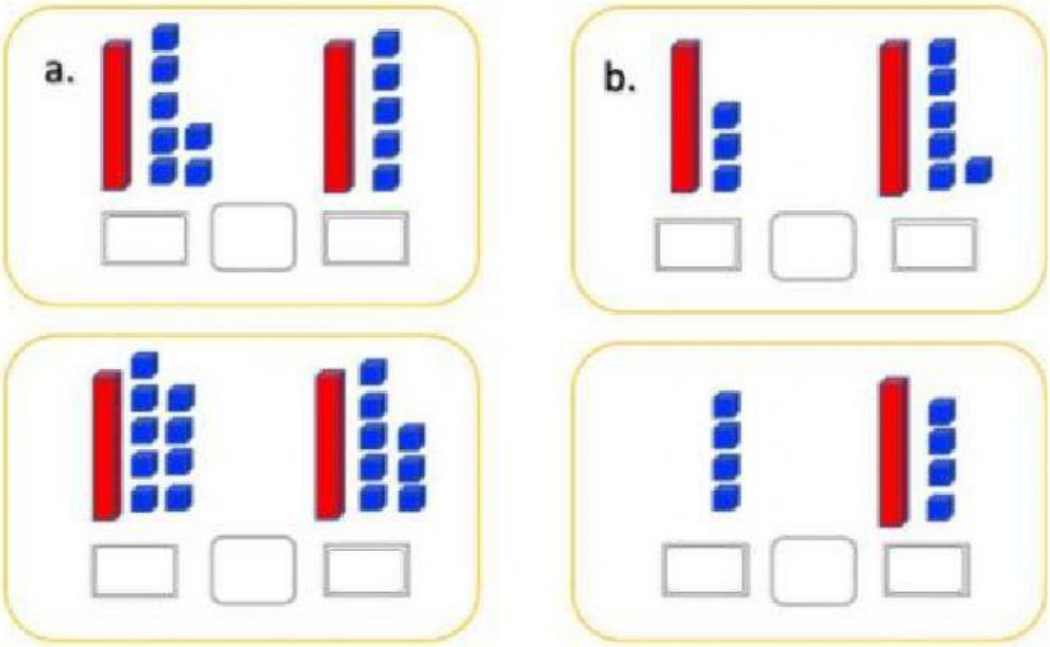

4.- Ubique correctamente el valor posicional de los siguientes números (0,25 c/u 0,50pts)

38, 9

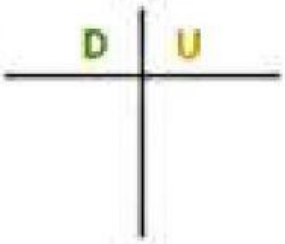

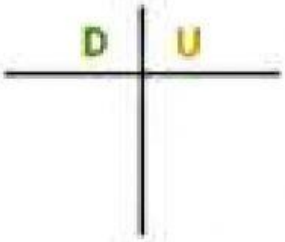

LIVEWORKSHEETS