1. Cuenta cuántos elementos hay en cada recuadro y escribe la respuesta.



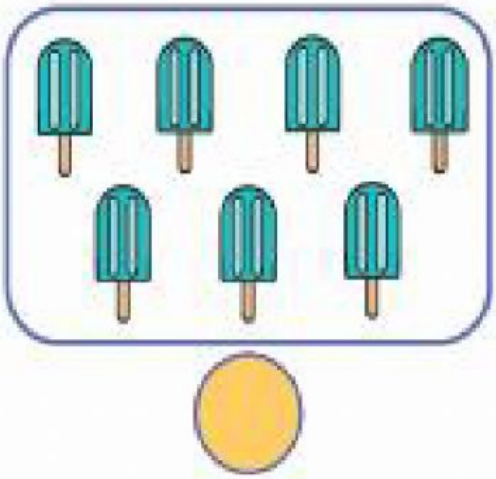

2. **Elige el recuadro donde hay más.**

3. **Elige el recuadro donde haya menos peces.**

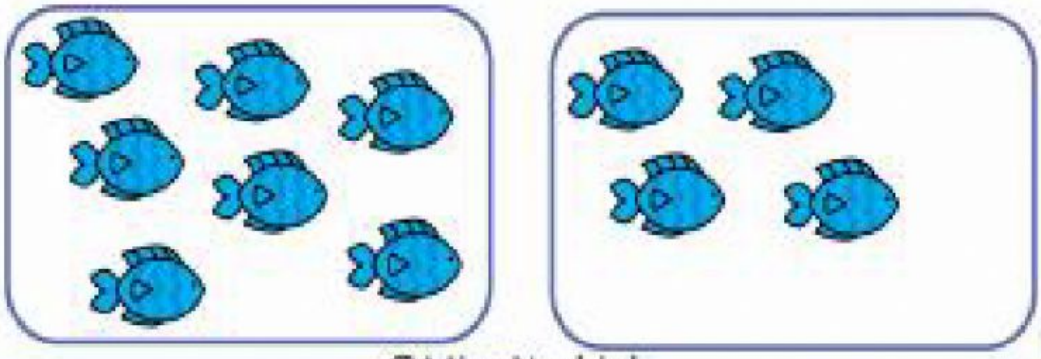

©Miss Norbiel

LIVEWORKSHEETS

4. **Une cada instrucción con el objeto correspondiente.**

a) Coloca una X a lo que está delante del árbol.
b) Coloca una ✓ a lo que está detrás del árbol.
c) Encierra lo que está debajo de la banca.

5. **Elige el objeto más largo.**

6. **Elige el objeto más corto.**

©Miss Norbiel

LIVEWORKSHEETS

Observa la gráfica y contesta.

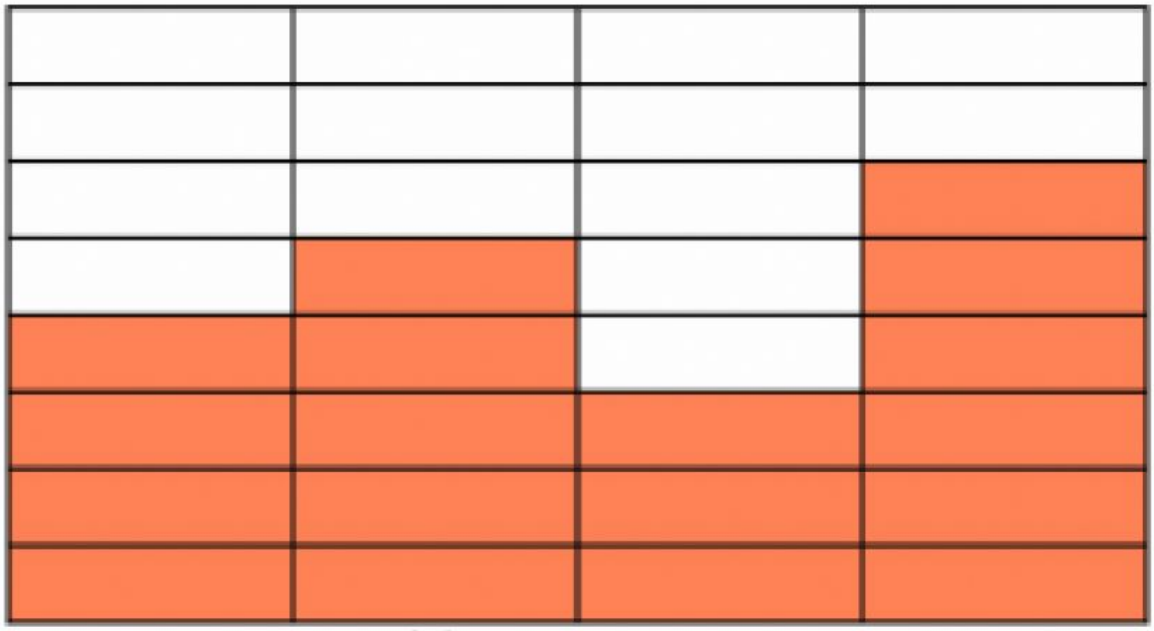

7. ¿Cuál es la fruta favorita? _____

8. ¿Cuál es la fruta menos preferida? _____

10. ¿Cuántos votos hay entre las cerezas y piñas? _____

11. **Elige el objeto triangular.**

©Miss Norbiel

LIVEWORKSHEETS