1. 什么是可更新的能源？

A 容易获得的能源
B 不可再补充和再生的能源
C 可以再补充和再生的能源
D 使用时会排出大量废气的能源

2. 哪些能源会产生可更新的能？

J

K

L

M

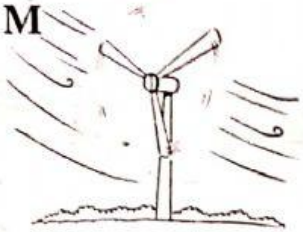

A J 和 K
B J 和 M
C K 和 L
D L 和 M

3. 以下是使用可更新的能源的好处，**除了**

I 节省开销
II 减少温室效应
III 加速全球暖化
IV 能源更快枯竭

A I 和 II　　**B** I 和 III
C II 和 IV　　**D** III 和 IV

4. 以下哪项是节省能源的方法？

I 搭乘交通工具
II 响应共乘车计划
III 无时无刻开冷气
IV 启动汽车引擎，并坐在车内等人

A I 和 II　　**B** I 和 III
C II 和 III　　**D** III 和 IV

5. 图 1 显示一种能源。



图 1

使用上述能源会带来什么影响？

A 污染环境
B 保护自然生态
C 节省更多能源
D 不断补充和再生

6. 图 2 显示能源的分类图。

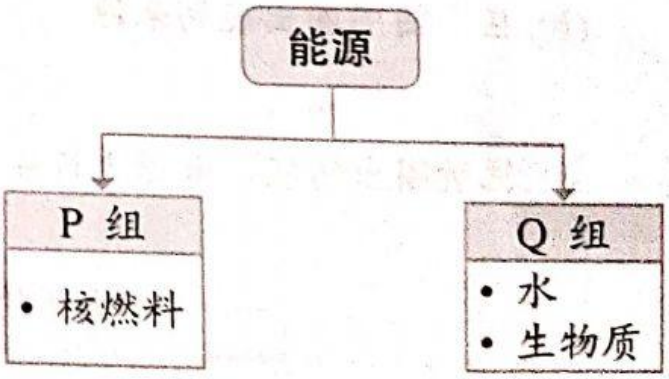

图 2

以下哪项可归类为 P 组的能源？

A 风
B 太阳
C 食物
D 天然气

LIVEWORKSHEETS