แบบทดสอบ

โรงเรียนเพ็ญพัฒนา | ชั้นประถมศึกษาปีที่ 6
กลุ่มสาระการเรียนรู้คณิตสาสตร์ | เรื่อง รูปหลายเหลี่ยม
โดยคุณครูภัทธารี ศรีสาคร และ คุณครูหัสยา สลุงโครพ | 10 คะแนน

---

ชื่อ – สกุล ..... ชั้น ป. 6 / ..... เลขที่ .....

**คำชี้แจง** ให้นักเรียนนำคำตอบเติมคำตอบให้ถูกต้อง

| | | | | |
|---|---|---|---|---|
| 540 | 48 | 180 | 280 | 63 |

| | | | | |
|---|---|---|---|---|
| 34 | 54 | รูปสามเหลี่ยม | 120 | รูปแปดเหลี่ยม |

1. รูปหลายเหลี่ยมที่มีจำนวนด้านน้อยที่สุด เป็นรูปหลายเหลี่ยมชนิดใด .....
2. รูปหลายเหลี่ยมที่มี่จุดยอดมุมแปดจุด เป็นรูปหลายเหลี่ยมชนิดใด .....
3. ผลรวมขนาดของมุมภายในของรูปห้าเหลี่ยมเป็นเท่าไร ..... องศา
4. มุมภายในแต่ละมุมของรูปหกเหลี่ยมด้านเท่ามีขนาดเท่าไร ..... องศา
5. ขนาดของมุมภายในของรูปสามเหลี่ยมรวมกันได้กี่องศา ..... องศา
6. 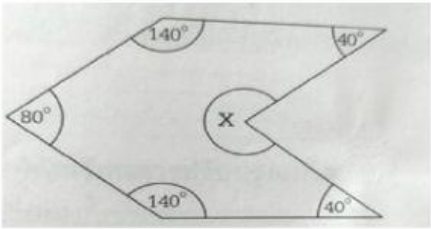

ขนาดของมุม X มีขนาดของมุม เท่าไร..... องศา

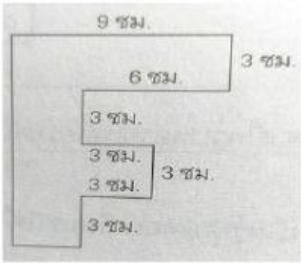


7. ความยาวรอบรูป ..... เซนติเมตร
8. พื้นที่รูปหลายเหลี่ยม ..... ตารางเซนติเมตร

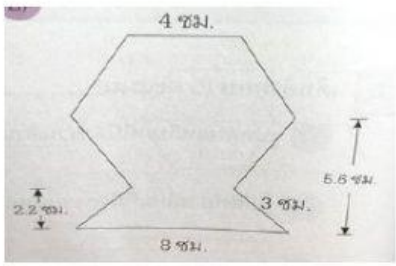


9. ความยาวรอบรูป ..... เซนติเมตร
10. พื้นที่รูปหลายเหลี่ยม ..... ตารางเซนติเมตร

LIVEWORKSHEETS

LIVEWORKSHEETS