REFUERZA TU APRENDIZAJE ¡TÙ PUEDES!

CLASIFICACIÒN DE LOS TRIÀNGULOS
DE ACUERSO A SUS LADOS Y AMPLITUD DE SUS ÀNGULOS

1. **Ubica en el recuadro la información correspondiente a la clasificaciòn de los triàngulos por la longitud de sus lados**

Triàngulo Equilàtero	Triàngulo Isòsceles	Triàngulo Escaleno

Tiene los dos lados iguales	Tiene los tres lados iguales	Tiene los tres lados iguales desiguales

2. **Ubica en el recuadro la infromacion correspondiente a la clasificaciòn de los triàngulos por la amplitud de sus lados**

Triàngulo obtusàngulo	Triàngulo Rectàngulo	Triàngulo Acutàngulo

Tiene un àngulo recto	Tiene un àngulo obtuso	Tiene tres àngulos agudos

3. **Escoja el nombre correcto de cada triangulo y coloca en el recuadro**

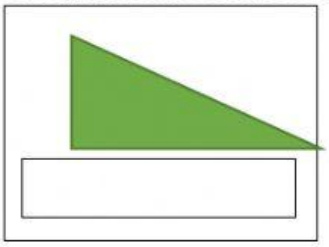

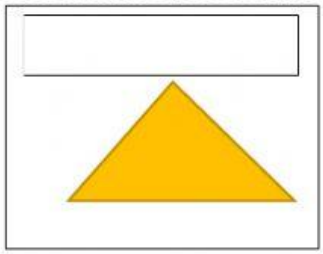

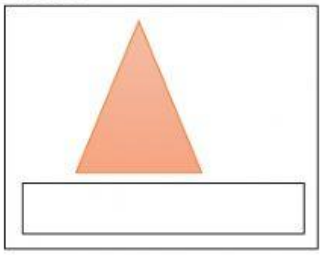

Triàngulo Equilàtero	Triàngulo Isòsceles	Triàngulo Escaleno

4. **Escoja el nombre correcto de cada triangulo y coloca en el recuadro**

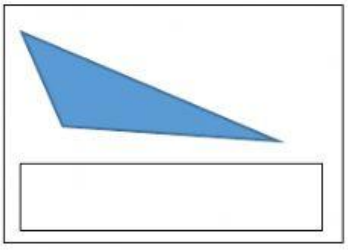

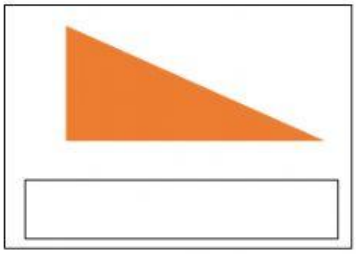

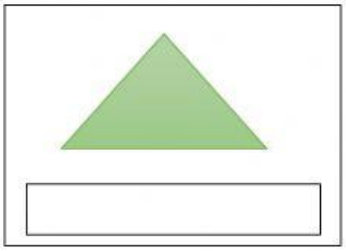

Triàngulo Obtusàngulo	Triàngulo Rectàngulo	Triàngulo Acutàngulo

LIVEWORKSHEETS