PENILAIAN HARIAN SEMESTER I
SEKOLAH DASAR KATOLIK SANG TIMUR
KARANG TENGAH, TANGERANG, BANTEN
TAHUN PELAJARAN 2021/2022

Tema 1 Sub 4 : Aku Istimewa
Kelas : I (Satu)
Hari, tanggal : Senin 16 Agt 2021

Nama	: …… ……	
Kelas/No.	: 1 …… / …….	
KD	: Muatan Pelajaran	NIlai
	PKN	3.2
	Bahasa Indonesia	3.11
	Matematika	3.4
3.4	SBDP	3.4

PETUNJUK :
1. Tuliskan namamu di sudut kanan atas.
2. Tulisan harus jelas, rapi, dan bersih.
3. Periksalah dahulu pekerjaanmu sebelum diserahkan kepada Bapak/Ibu Guru.

I. BERILAH TANDA SILANG PADA HURUF A, B, ATAU C DI DEPAN JAWABAN YANG BENAR!

1. Setiap orang memiliki kelebihan dan kekurangan yang berasal dari … . C
   A. orang tua
   B. diri sendiri
   C. Tuhan

2. Ciri yang terlihat pada gambar di bawah ini adalah menunjukkan adanya perbedaan … . B

   A. fisik
   B. suku bangsa
   C. kegemaran

3. Jika memiliki teman yang berbeda agama, suku bangsa sebaiknya kita saling … . A
   A. menghargai
   B. mengejek
   C. memusuhi

4. Kelebihan dan kekurangan merupakan ciri khusus yang kita miliki dan wajib kita … . C

A. biarkan
B. sesali
C. syukuri

5 Contoh kegemaran ibuku adalah … . A

A memasak
B periang
C Jawa

6 Puisi Aku Sayang Ibu merupakan ungkapan … . C

A kecewa kepada Ibu
B marah kepada Ibu
C sayang kepada Ibu

7 Saat membaca puisi disampaikan dengan … . A

A. penuh perasaan
B. rasa penasaran
C. berteriak

8 Puisi adalah … . B

A. kumpulan huruf yang indah
B. kumpulan kata yang indah
C. kumpulan cerita yang indah

9. Saat aku sedih Ibu … . A

A. menghiburku
B. merawatku
C. menertawakanku

10. Kasih sayang ibu seperti luasnya … . C

A. halaman
B. buku
C. samudera

11. Siti membawa 4 es krim dan Dayu membawa 3 es krim. C
Jumlah seluruh es krim ada … buah.

A. 4
B. 6
C. 7

12.

Allesa mempunyai pohon apel. Di atas pohon ada 6 apel dan di rumput masih ada 4 apel. Penjumlahan yang paling benar berdasarkan pernyataan di atas adalah … . A

A. 6 + 4 = 10
B. 5 + 5 = 10
C. 8 + 2 = 10

13 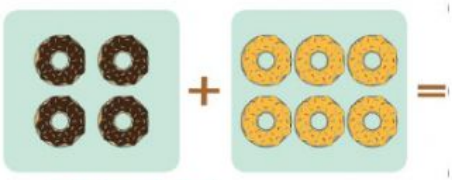 C

A.

B. 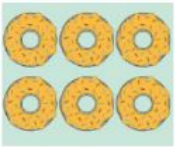

C. 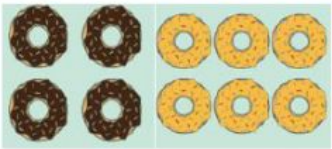

14 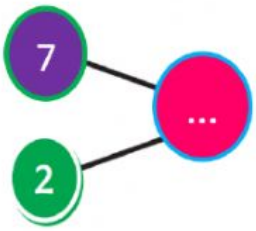

A

A. 9
B. 8
C. 7

15 

B

A. 3
B. 5
C. 6

21 Hasil karya yang terbuat dari kulit jagung adalah . . . C

A.

B.

C.

22 B

Gambar di samping bagian yang dapat digunakan untuk membuat hasil karya gantungan kunci adalah ..

A. batang
B. kulit
C. biji

23 Agar menjadi sebuah hasil karya yang menarik kulit jagung . . . . A

A diberi warna
B dibakar
C diberi nama

24 B

Bahan yang digunakan untuk membuat hasil karya di sampaing adalah . . .

A biji jagung, gunting, lem, dan spidol
B kulit jagung, gunting, lem, dan spidol
C kulit jagung, gunting, penggaris, dan spidol

25 Supaya rekat kulit jagung ditempel menggunakan C

A spidol
B pewarna
C lem

II. ISILAH TITIK-TITIK DENGAN JAWABAN SINGKAT!

1.	Setiap orang memiliki kekurangan dan kelebihan yang … .		berbeda
2.	Perbedaan fisik dari gambar anak di bawah ini!		a. keriting dan lurus b. laki-laki dan perempuan
	A.	Rambutnya … dan … .	
	B.	Edo anak … dan Dayu anak … .	
3.	Kepada siapa saja kita dapat mengungkapkan perasaan kasih sayang?		A. Orang tua B. Teman, dll
	A.	…	
	B.	…	
4.	Ibu membelikan 5 permen untukku, kakak memberiku 1 permen. Bentuk penjumlahan dan hasilnya adalah … + … = …		5 + 1 = 6
5			4
6		4 Bahan yang disiapkan untuk membuat boneka dari kulit jagung adalah _____, _____, _____, dan _____	a. kulit jagung b. gunting c. lem d. spidol