SECRETARIA DE ESTADO DE EDUCAÇÃO
ESCOLA CLASSE 401 DO RECANTO DAS EMAS
3901-3649

Aluno (a):_____ Data: 11/08/21

Professor (a): _____ Ano/Turma: 4º ano

SEMANA 19

QUARTA- FEIRA:

* LÍNGUA PORTUGUESA
* MATEMÁTICA
* HISTÓRIA

Língua portuguesa:

VAMOS RELEMBRAR O GRAU DO SUBSTANTIVO?

Os substantivos possuem três graus: **o aumentativo, o diminutivo e o normal.**

Grau é a propriedade que o substantivo tem de exprimir as variações do tamanho do ser.

Exemplo: livro (tamanho normal), livrinho (tamanho diminuído), livrão (tamanho aumentado).

1) Escreva o diminutivo e o aumentativo dos seguintes substantivos. Eles foram retirados da história: "O grande sábio do alto da montanha", do autor Simão de Miranda. Observe e siga o modelo:

animal- animalzinho e animalão

a) homem:_____

b) macaco: _____

c) formiga: _____

d) amigo:_____

e) floresta: _____

f) onça: _____

LIVEWORKSHEETS

2) As palavras estão misturadas. Agora é a sua vez de colocar cada uma delas no seu devido lugar!



fogo- bicharrão - murinho- cabeçorra- narizinho- copo- muralha – fogaréu- bicho- foguinho-cabeça nariz- narigão- copázio- muro- cabecinha- copinho-bichinho

Diminutivo	Normal	Aumentativo

Matemática: Situações- problema envolvendo o Reino Animal

O livro "O grande sábio do alto da montanha", descreve o mundo animal de uma forma muito divertida! Em Brasília há alguns animais que vivem no Zoológico, você pode visitar e apreciar a beleza desses bichos!

1) Agora vamos ajudar os funcionários do Zoológico a resolver alguns problemas:

   a) O setor de alimentação animal preparou, em 4 dias, 152 refeições para os leões, 104 para as onças e 41 para os macacos. Quantas refeições foram preparadas para alimentar todos esses animais?

Cálculo | Resposta

LIVEWORKSHEETS

b) O Zoológico recebeu 4 animais. Uma zebra de 457 quilos, um leão com 197 quilos e uma onça com 123 quilos e um filhote de elefante com 3.395 quilos. Desses animais qual deles pesa mais? Quantos quilos a mais que a onça?

Cálculo

Resposta

Quanto tempo vivem os animais?

A turma de Daniela também se interessou pelo tempo médio de vida dos animais. Veja o que eles descobriram com um dos funcionários:

- O animal que é muito vagaroso vive, em média, 150 anos.
- O "rei dos animais" vive, em média, 20 anos.
- O elefante africano vive, em média, 30 anos mais que o leão e o mesmo tempo que o rinoceronte.
- O tigre vive, em média, 5 anos a mais que o tamanduá-bandeira e 10 anos a menos que a zebra, que vive, em média, 30 anos.

2) Com essas informações, prencha a tabela a seguir:

TEMPO MÉDIO DA VIDA DOS ANIMAIS

animal	tempo médio de vida
elefante africano	
leão	
rinoceronte	
tamanduá-bandeira	
tartaruga	
tigre	
zebra	



LIVEWORKSHEETS

História: Os principais tipos de relevo

O relevo deve ser entendido como as formas adquiridas pela crosta terrestre. Essas formas são montanhas, planaltos, planícies e depressões, classificadas por suas estruturas (formatos) e pelas altitudes que apresentam, ou seja, suas alturas em relação ao nível do mar.

A superfície terrestre, também conhecida como crosta terrestre, é bem dinâmica e apresenta quatro tipos de relevo: montanhas, planaltos, planícies e depressões. Cada uma dessas estruturas apresenta formatos distintos, capazes de ser classificados por seu desenho na natureza e sua altitude.

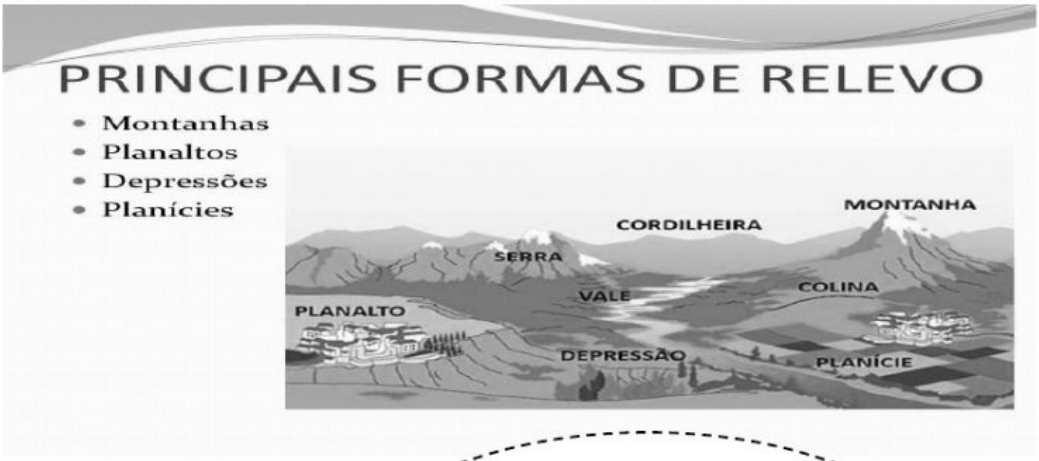

DESAFIO

Você sabe qual é o tipo de relevo que aparece na história que estamos trabalhando essa semana?

_____

1) Separe o livro Interdisciplinar de História e Geografia; faça a leitura das páginas 30 e 31, em seguida responda a página 32.

Quanto mais conhecimento você tem, mais iluminado será o seu caminho.

LIVEWORKSHEETS