Gimnasio Reino de Castilla Antes Gimnasio Castillo Campestre 1988

Quiz matemáticas

Nombre: _____ **Grado:** _____

1. **Escucho con atención y sigo el dictado de números.**

_____ _____

_____ _____

_____ _____

_____ _____

_____ _____

2. **Realizo la descomposición aditiva de las siguientes cantidades.**

a. 6. 852

_____ + _____ + _____ + _____

b. 2. 617

_____ + _____ + _____ + _____

c. 8. 340

_____ + _____ + _____ + _____

3. **Organizo las cifras según corresponda y formo el número.**

4c, 6um, 0 u, 9 d = _____

4um, 7u, 2d, 3c = _____

8c, 1u, 5 d, 4 um = _____
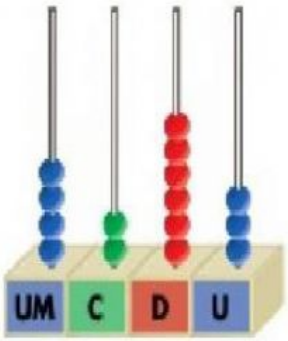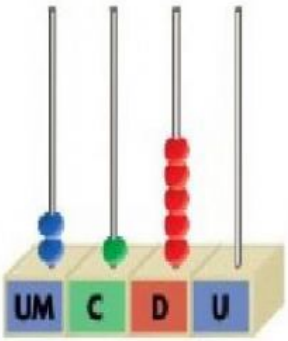
4. **Escribo el número que representa cada ábaco.**