COLEGIO DIEGO THOMSON

Evaluación Trimestral

Grado: 1ro	Curso: Razonamiento Matemático	Profesor: Miss Patty

Apellidos y nombres:

1-Resuelve las siguientes pirámides matemáticas

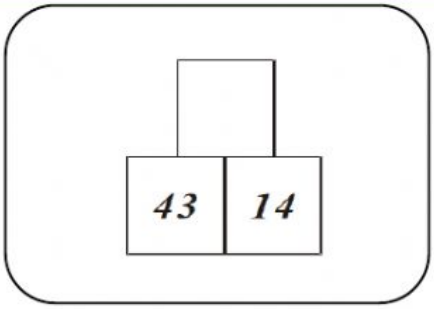

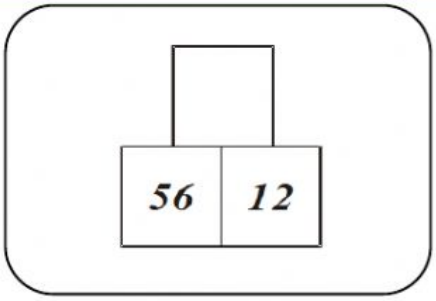

2- Resuelve las siguientes sumas y restas incompletas

$$\begin{array}{cc} \square & 2 \\ 5 & \square \\ \hline 9 & 8 \end{array} \quad +$$

$$\begin{array}{cc} 5 & \square \\ 4 & 6 \\ \hline 9 & 9 \end{array} \quad +$$

$$\begin{array}{cc} 7 & \square \\ \square & 4 \\ \hline 5 & 2 \end{array} \quad -$$

$$\begin{array}{cc} 8 & \square \\ \square & 2 \\ \hline 5 & 5 \end{array} \quad -$$

LIVEWORKSHEETS

3- Resuelve las siguientes series numéricas

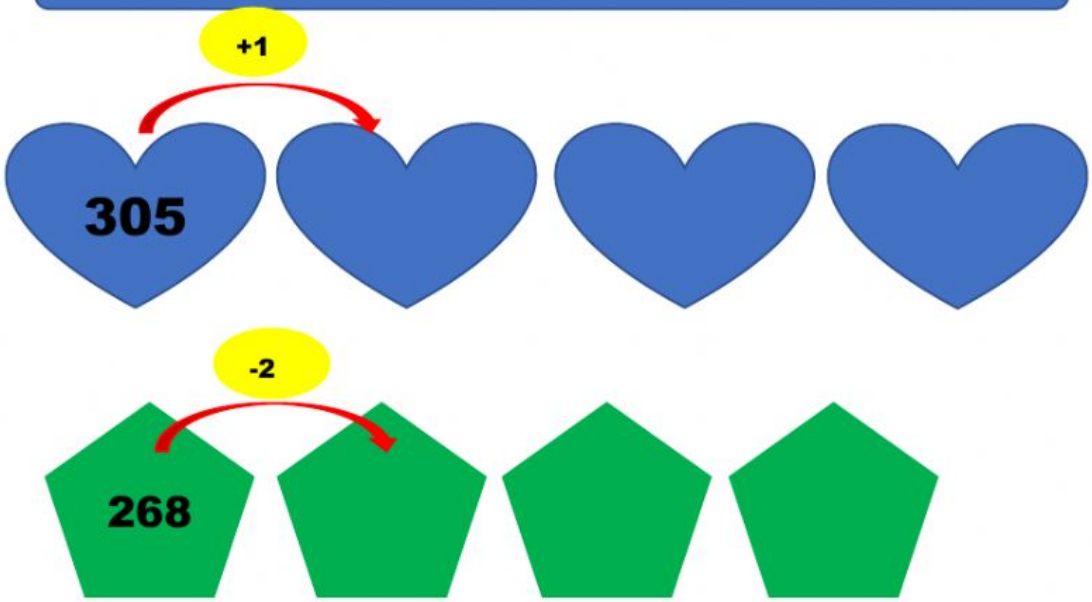

COLEGIO DIEGO THOMSON

LIVEWORKSHEETS