4. Hányad része színes? Írd a rajz alá a példa szerint! Minden alakzat 1 egész!

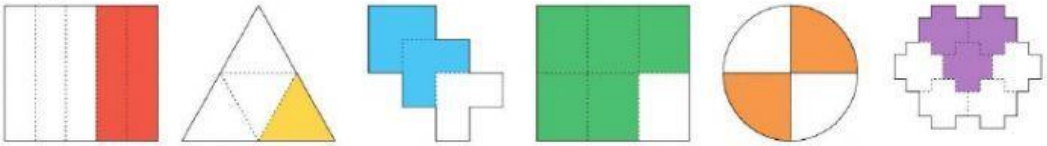

2 ötöd

2. Kösd össze az összetartozókat!

1 harmad | 3 ötöd | 2 ketted | 4 hatod | 2 negyed

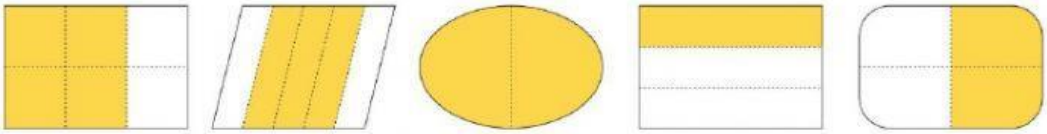

$\frac{2}{2}$ $\frac{4}{6}$ $\frac{1}{3}$ $\frac{2}{4}$ $\frac{3}{5}$

3. Hányad része színes (sz) és hányad része fehér (f)? Írd le törtszámmal! Melyik a nagyobb? Tedd ki a megfelelő relációjelet!

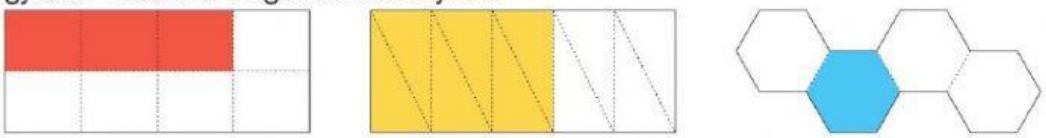

sz: ___/___ ☐ f: ___/___ sz: ___/___ ☐ f: ___/___ sz: ___/___ ☐ f: ___/___

4 *a)* Hányad része színes? Írd mellé törtszámmal!

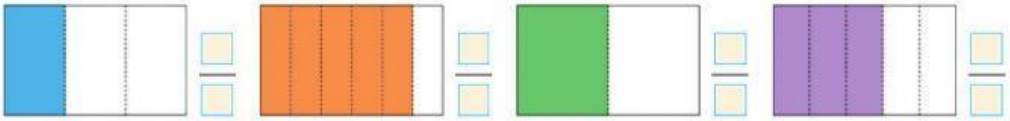

F	I	T	C	D	O	N	J	T	T
N	H	H	Z	G	Y	E	K	T	Ö
X	E	J	L	Y	V	V	W	O	R
Ö	H	G	Z	Z	B	E	Q	L	T
G	T	A	Y	Q	H	Z	E	K	V
L	I	Ö	R	E	H	Ő	G	G	O
B	Q	C	D	M	D	T	É	P	N
J	O	U	O	B	A	C	S	L	A
T	Q	F	É	L	U	D	Z	A	L
S	Z	Á	M	L	Á	L	Ó	J	O

Keress a törtekhez kapcsolódó kifejezéseket a betűhalmazban!
Keresési irányok: → ↓ ↘

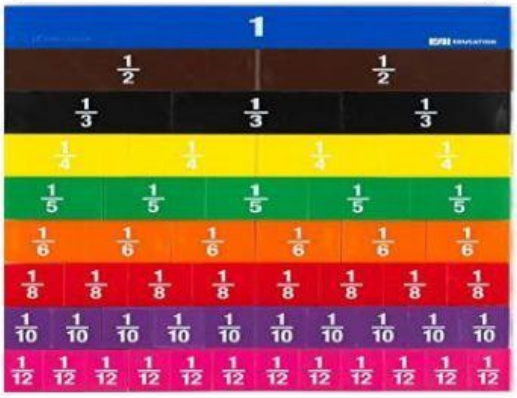

LIVEWORKSHEETS