Centro Educacional Ernesto Yáñez Rivera
RBD 16879-3
Asignatura Historia, Geografía y Cs. Sociales – Prof. Juan Figueroa H.

Evaluación de historia "Los planos"

Nombre:	Curso: 1°básico	Fecha: /08/2021
Puntaje total: 7		
Objetivos de aprendizaje	N°8: Reconocer que los mapas y planos son formas de representar lugares..	
Instrucciones	- En esta evaluación pondrás aprueba tus conocimientos sobre los planos - Escucha con atención cada una de las preguntas que leerá tu profeso. - Al finalizar, presiona TERMINAR. Luego espera en silencio que el resto de los compañeros terminen.	

1.- Lo que observas es un dibujo que representa un lugar como si lo miráramos de arriba. Así puedes representar lugares como tu pieza, tu casa, el colegio o tu barrio (1pts.)

Este tipo de representación recibe el nombre de:

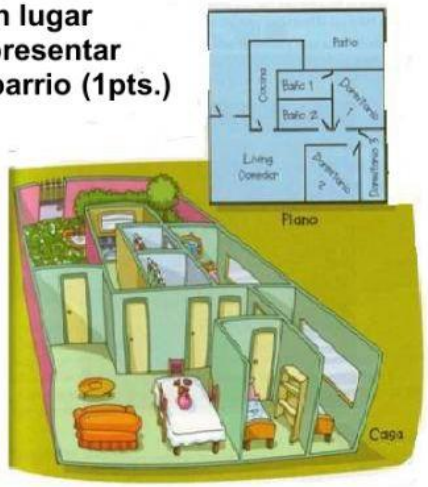

a) Mapa

b) Paisaje

c) Plano

2.- ¿Cuál de las imágenes que observas son formas de representar lugares? (1pts.)

A) B) C)

3.- Un plano es la representación de un lugar visto desde: (1pts.)

a) Visto de arriba

b) Visto de abajo

c) Visto desde al lado.

4.- Para llegar <u>desde</u> <u>tu casa al colegio</u> lo que más te podría servir es: (1pts.)

a) Un avión

b) Un plano

c) Un mapa

LIVEWORKSHEETS

5.-Observa y selecciona SOLO la imagen que corresponda a un plano: (1pts.)

A



B

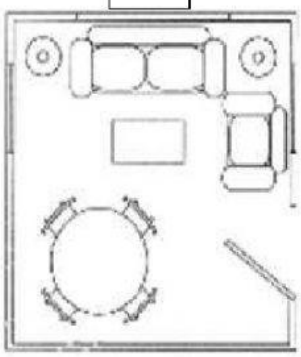

6.- Cristina y Marco irán a visitar el Museo de Ciencias, ¿Qué instrumento es más útil para ubicarse dentro del Museo? (1pts.)

A) Un plano.

B) Un mapa.

C) Un planisferio.

7.- La siguiente imagen corresponde a: (1pts.)

A) Mapa mundi

B) Plano de una casa

C) Plano de una ciudad

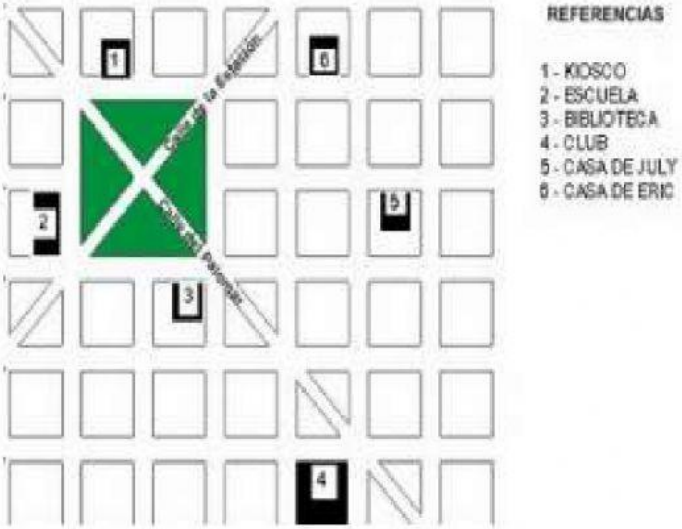

LIVEWORKSHEETS