LKPD
MATEMATIKA
KELAS 3

LIVEWORKSHEETS

NAMA / KELAS

.....

Ananda Shalih shalihah,,

Setelah membaca modul dan menyimak video tentang Garis Bilangan, sekarang waktunya menguji pemahaman kalian yaa...

Sudah siap yaa??

Let's Go!!!

LIVEWORKSHEETS

Ayo shalih shalihah, selesaikan soal berikut yaa...

Caranya, pindahkan gambar garis bilangan yang sesuai dengan penjumlahan berikut!

Pindahkan pula bilangan yang merupakan hasilnya pada kotak yang disediakan!

$3 + 5 = \square$

$6 + 3 = \square$

$3 + 4 = \square$

$5 + 5 = \square$

10

9

8

7

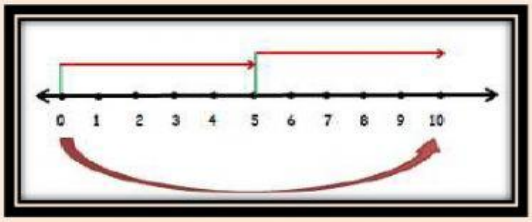

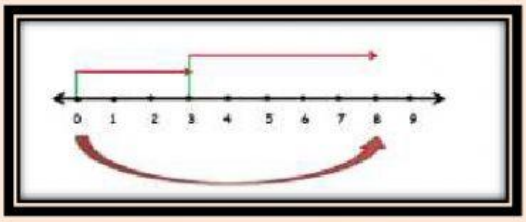

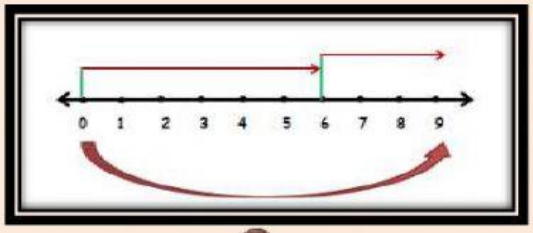

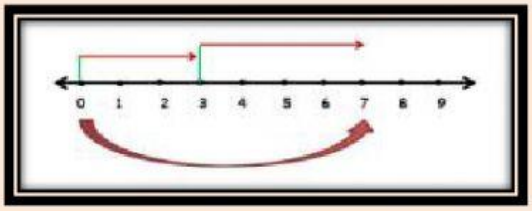

Alhamdulillaah... Kamu memang anak hebat!

LIVEWORKSHEETS