Penilaian Harian I

Hari / Tanggal	:	Nama Siswa	: .....
Tema	: 1. Diriku	Kelas	: 1 - ...
Muatan Pelajaran	: Matematika	No Absen	: ....

I. Pilihan Ganda!

KD 3.1

1. Perhatikan gambar berikut ini!



Banyaknya jeruk di atas adalah ....

a. tiga

b. empat

c. lima

2. Perhatikan gambar berikut ini!

Banyaknya pensil di atas adalah ....

a. 5

b. 6

c. 7

LIVEWORKSHEETS

3. Aqeela memiliki delapan donat.

Gambar yang tepat adalah ....

a.

b.

c.

KD 3.2

4. mata

Banyaknya huruf pada kata di atas adalah ....

a. 2

b. 4

c. 6

5.

Jari yang tegak ada ....

a. tiga

b. empat

LIVEWORKSHEETS

c. lima

KD 3.3

6. 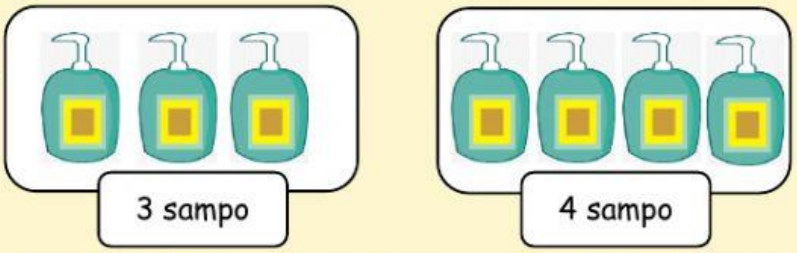

Perbandingan yang tepat untuk gambar di atas adalah ....

a. kurang dari

b. sama dengan

c. lebih dari

7. 8 _____ 5

Perbandingan yang tepat untuk bilangan di atas adalah ....

a. kurang dari

b. sama dengan

c. lebih dari

8. Perhatikan bilangan-bilangan berikut ini!

4, 5, ..., 7, ...

Bilangan yang tepat untuk mengisi bagian yang kosong adalah ....

a. 4 dan 6

b. 6 dan 8

c. 7 dan 8

LIVEWORKSHEETS

KD 3.4

9. 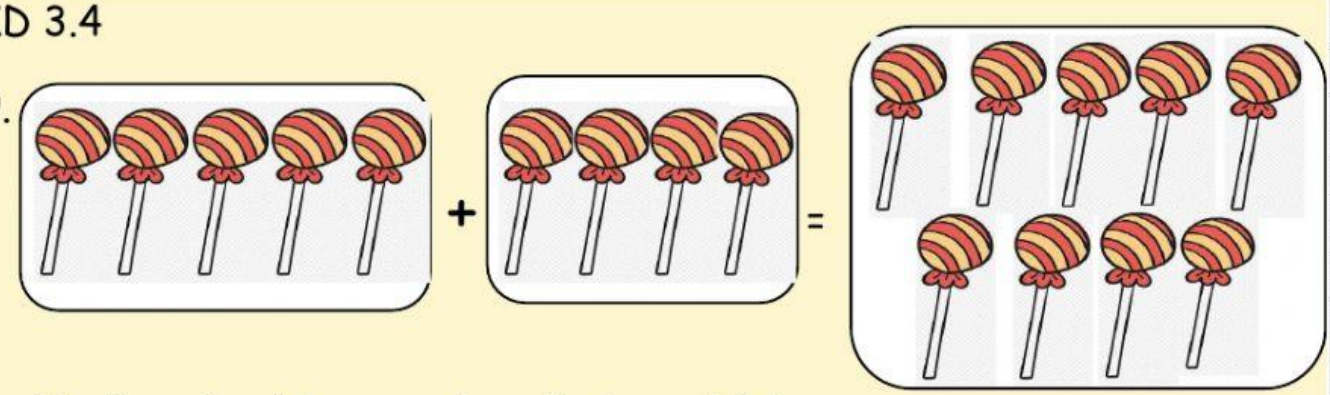

Hasil penjumlahan gambar di atas adalah ....

a. 7

b. 8

c. 9

10. 4 + 1 = ...

Hasil penjumlahan di atas adalah ....

a. 4

b. 5

c. 6

LIVEWORKSHEETS