Instituto Salesiano de Valdivia
Área Académica /
Profesores: C. Arancibia – C. Lagos – M. Solano

EVALUACIÓN MATEMÁTICA PRIMEROS BÁSICOS
"Nos mueve la esperanza"

Objetivo de Aprendizaje	OA 01 Contar Números del 0 al 20 OA 04 Comparar y ordenar números del 0 al 20 de menor a mayor y/o viceversa OA 08 Determinar las unidades y decenas en números del al 20, agrupando de a 10 de manera concreta, pictórica y simbólica. OA 09 Demostrar que comprenden la adición y la sustracción de números del 0 al 10

1.- Completar la serie con los números que faltan: **6 Puntos.**

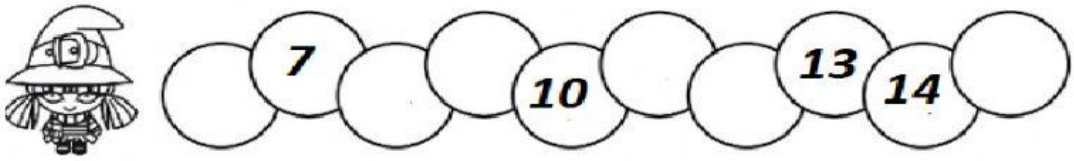

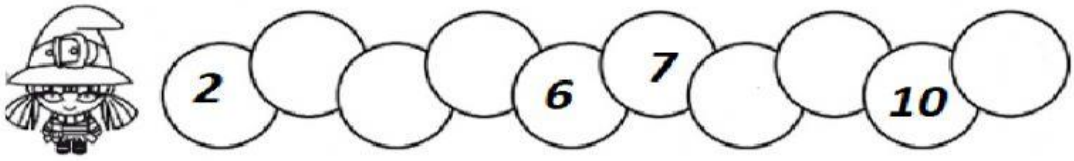

2.- Escribir el número representado. **4 Puntos.**

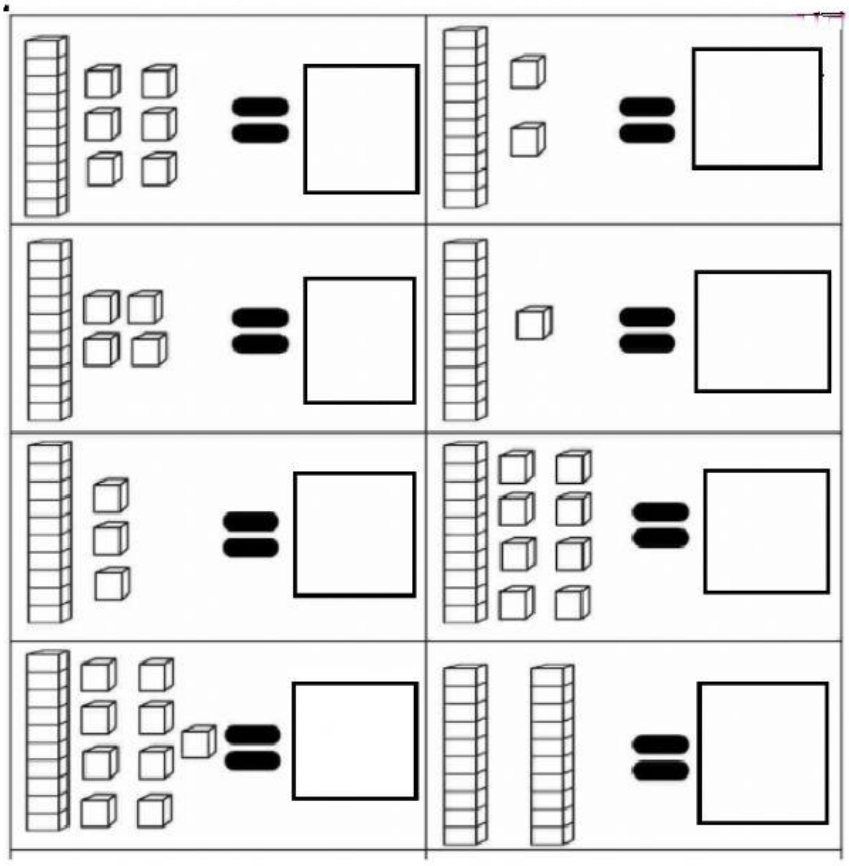

LIVEWORKSHEETS

3.- Escribir >, < O =, según corresponda. **6 Puntos.**

Clave: > : 1 < : 2 = : 3

4 ____ 8 3 ____ 3 7 ____ 2

0 ____ 5 6 ____ 9 6 ____ 6

4.- Desarrollar las siguientes adiciones. (horizontal y vertical) **7 Puntos.**

9 + 1 = _____ 3 + 3 = _____ 5 + 4 = _____

7	4	6	7
+ 2	+ 2	+ 2	+ 3

5.- Desarrollar las siguientes sustracciones. (horizontal y vertical) **7 Puntos.**

9 - 1 = _____ 7 - 3 = _____ 5 - 2 = _____

6	8	4	7
- 2	- 2	- 1	- 1

5.- Escribir el antecesor y sucesor del número presentado. (antes y después) 9 Puntos.

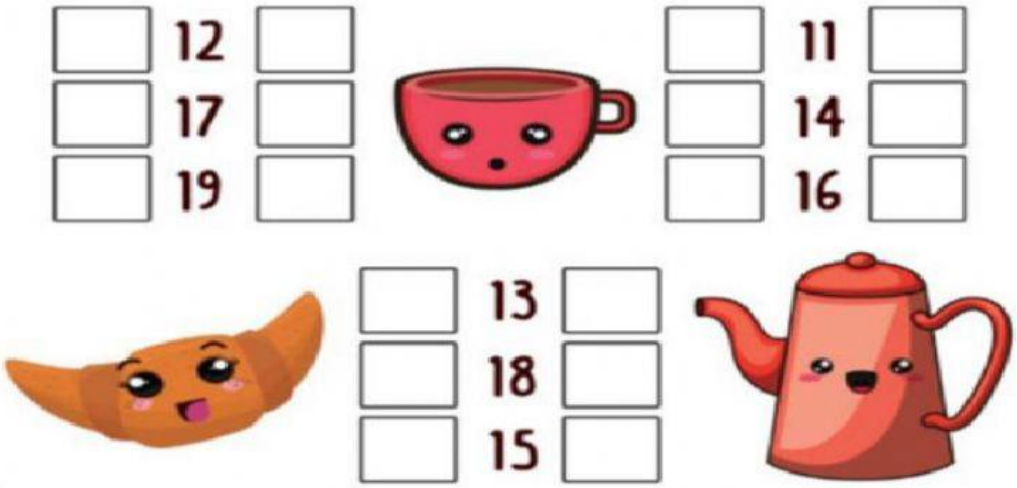

LIVEWORKSHEETS

6.- Resolver los siguientes problemas. **12 Puntos.**

a)

* En el parque hay 5 niños jugando y llegan 4 más. ¿Cuántos niños hay en total?

Datos

Hay ____ niños jugando.

Llegan ____ niños más.

Operaciones

D	U

Resultado

Hay ____ niños jugando en el parque.

b)

* Beatriz tiene 5 caramelos, si se come 3 caramelos ¿Cuántos caramelos le queda a Beatriz?

Datos

Beatriz tiene ____ caramelos

Se come ____ caramelos

Operaciones

D	U

Resultado

A Beatriz le quedan ____ caramelos por comer.

c)

* Sergio tiene 4 coches y Ana tiene 2 coches ¿ Cuántos coches tienen entre los dos?

Datos

Sergio tiene ____ coches

Ana tiene ____ coches

Operaciones

D	U

Resultado

Entre los dos tienen ____ coches

LIVEWORKSHEETS