UPSR TERBIODEGRADASIKAN ATAU TIDAK?; HARGAI BUMI KITA

2. Rajah 2.1 menunjukkan dua keadaan di mana bahan-bahan buangan dibuang secara tidak berhemah.



Aktiviti P



Aktiviti Q

Rajah 2.1

(a) Apakah kesan aktiviti P dan aktiviti Q ke atas alam sekitar?

Aktiviti P: _____

Aktiviti Q: _____

[2 *markah*]

(b) Apakah jenis bahan buangan bagi sisa toksik?

_____

[1 *markah*]

(c) Rajah 2.2 menunjukkan keadaan longkang yang tersumbat dengan sampah-sarap.



Rajah 2.2

Nyatakan **dua** kesan buruk daripada keadaan di atas.

1. _____

2. _____

[2 *markah*]

LIVEWORKSHEETS