26 图 17 显示在草原生活的生物所组成的食物网。 3.4.6

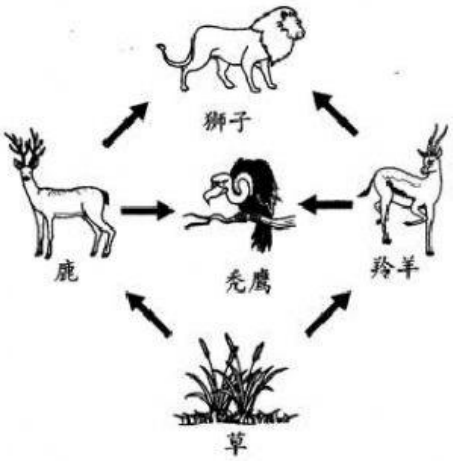

图 17

根据上述的食物网，哪项说明是正确的？

A 草是初级消费者
B 狮子是草食动物
C 水牛吃草，也吃肉
D 秃鹰会和狮子竞争食物

27 哪些事件的发生会导致食物网会失去平衡，影响全部物种的生存？ 3.4.8

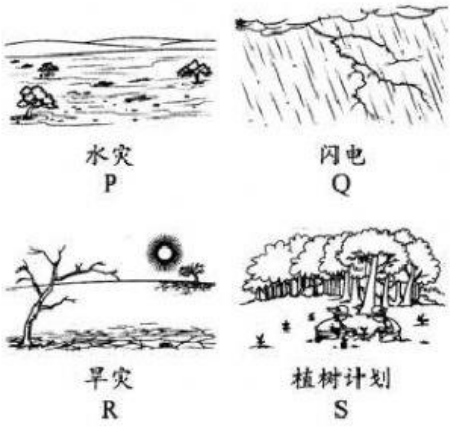

A P 和 Q　　**B** P 和 R
C Q 和 S　　**D** R 和 S

28 图 18 显示两种植物，U 和 V。 4.1.1

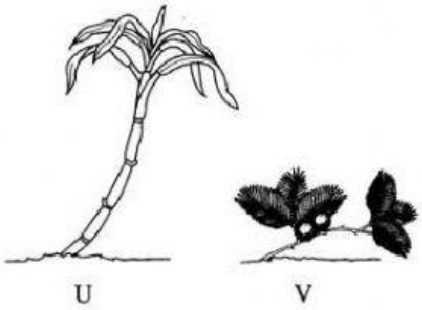

图 18

哪项是图 18 两棵植物用来自卫的特征？

	U	V
A	胶乳	毒素
B	细毛	尖刺
C	毒素	臭味
D	臭味	尖刺

29 KBAT 图 19 显示一棵仙人掌。 4.1.2



图 19

建强将仙人掌的茎切开，他发现茎内有许多水分。

针对建强的观察，哪项说明是正确的？

A 沙漠刚下了一场豪雨
B 茎有水分以提供游牧民族水源
C 茎有水分可避免受到动物的侵害
D 茎储存大量水分以适应炎热干燥的天气

LIVEWORKSHEETS