姓名：

第七课：生活中的磁铁 【SP 7.1.1】、磁铁所吸引的物体 【SP 7.1.3】、磁铁的相吸相斥 【SP 7.1.4】

选择有应用磁铁的物品。 Pilih benda yang menggunakan magnet.

LIVEWORKSHEETS

（点击）选出会被磁铁吸引的物体。

(Klik) Pilih benda yang boleh ditarik oleh magnet.

（点击）选出比较强的磁铁。然后选出正确的答案。

(Klik) Pilih magnet yang kuat. Kemudian, pilih jawapan yang betul.

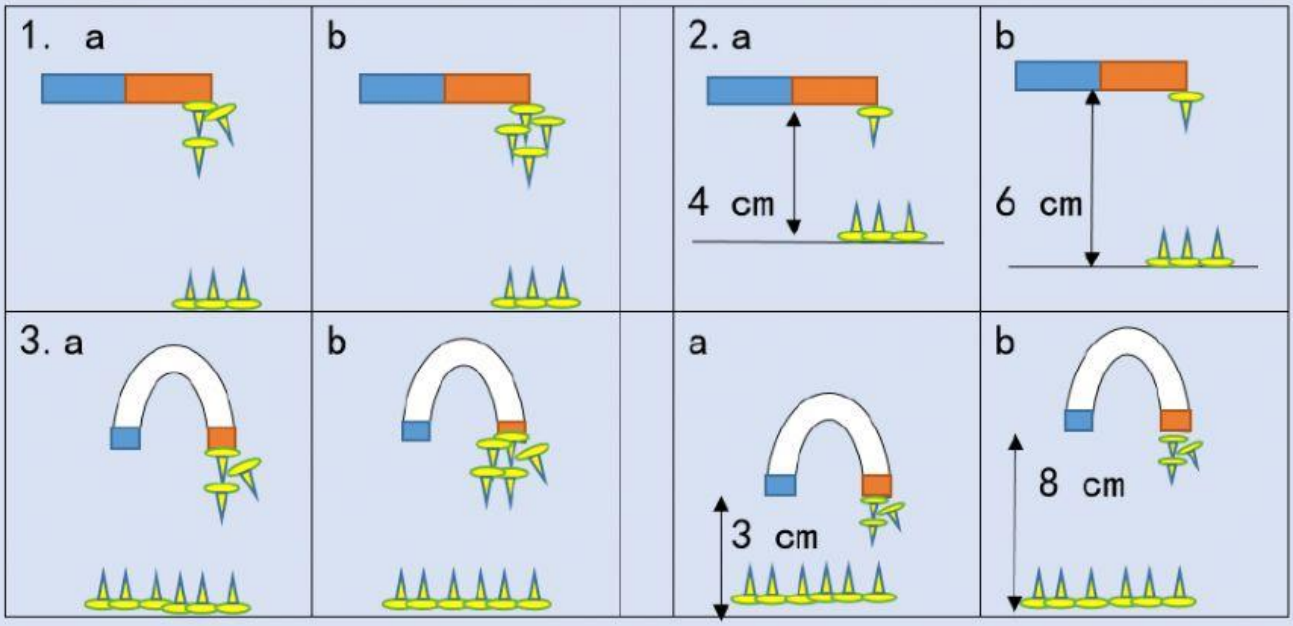

5. 强的磁铁能吸（ 比较多 / 比较少 ） 图钉。

6. 弱的磁铁能吸（ 比较多 / 比较少 ） 图钉。

LIVEWORKSHEETS

数一数各磁铁所吸引的铁钉数量。

然后从磁力最强的磁铁开始，排列各磁铁。

Kira jumlah paku yang telah ditarik, isi magnet yang paling kuat hingga magnet yang lemah di tempat yang kosong.

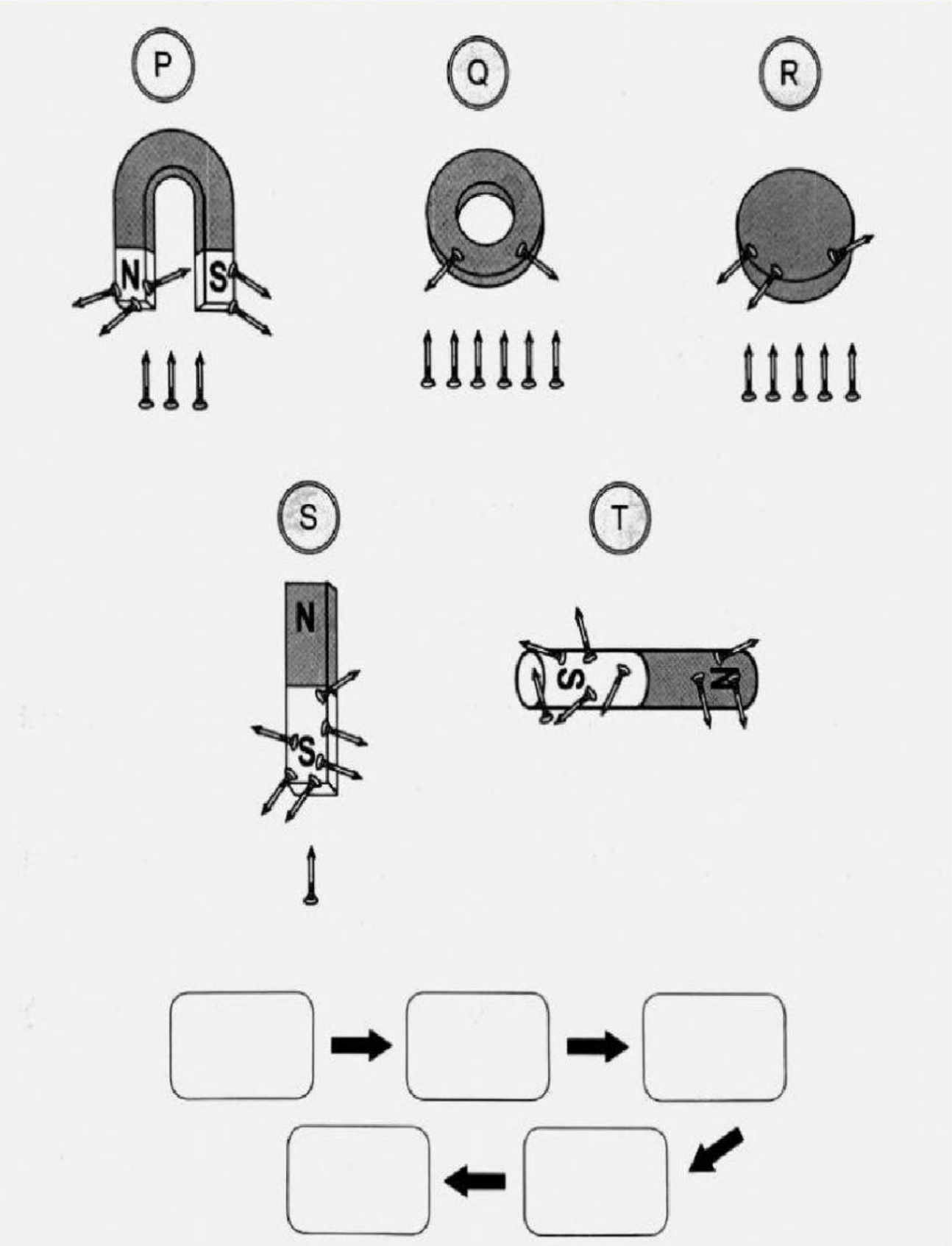

LIVEWORKSHEETS

丽丽利用磁铁有创意地排成一个屋子地形状。根据她的排法，在空格里填写 N 或 S。Lili ingin mereka sebuah rumah dengan magnet. Sila isikan kutub magnet samaada N atau S.

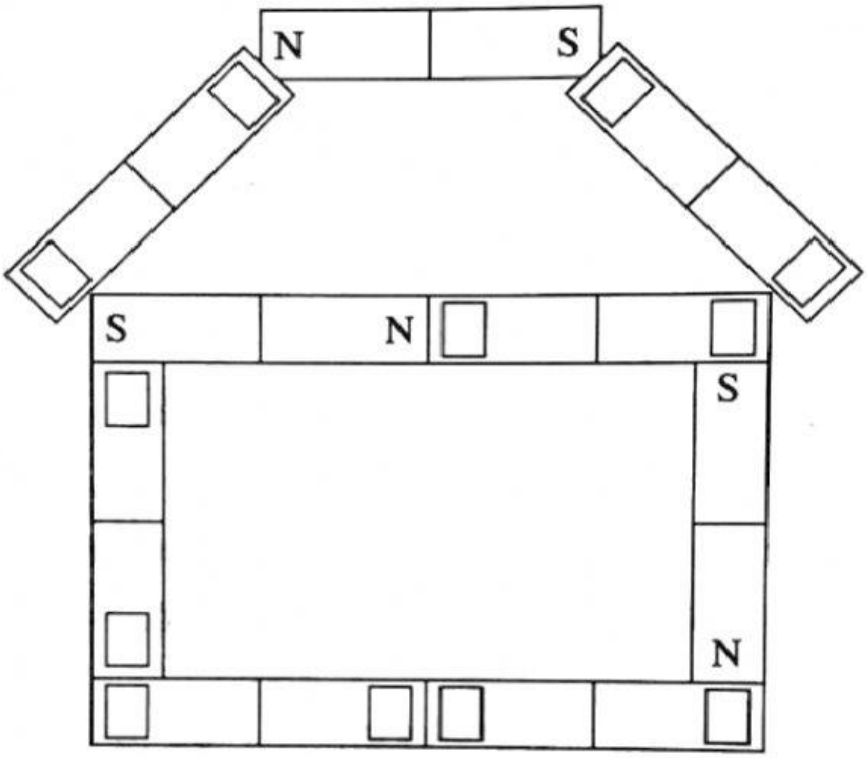

观察以下的磁铁，并选择“相吸（tarik）”与“相斥（tolak）”
Perhatikan susunan magnet di bawah, pilih magnet yang Tarik atau Tolak.

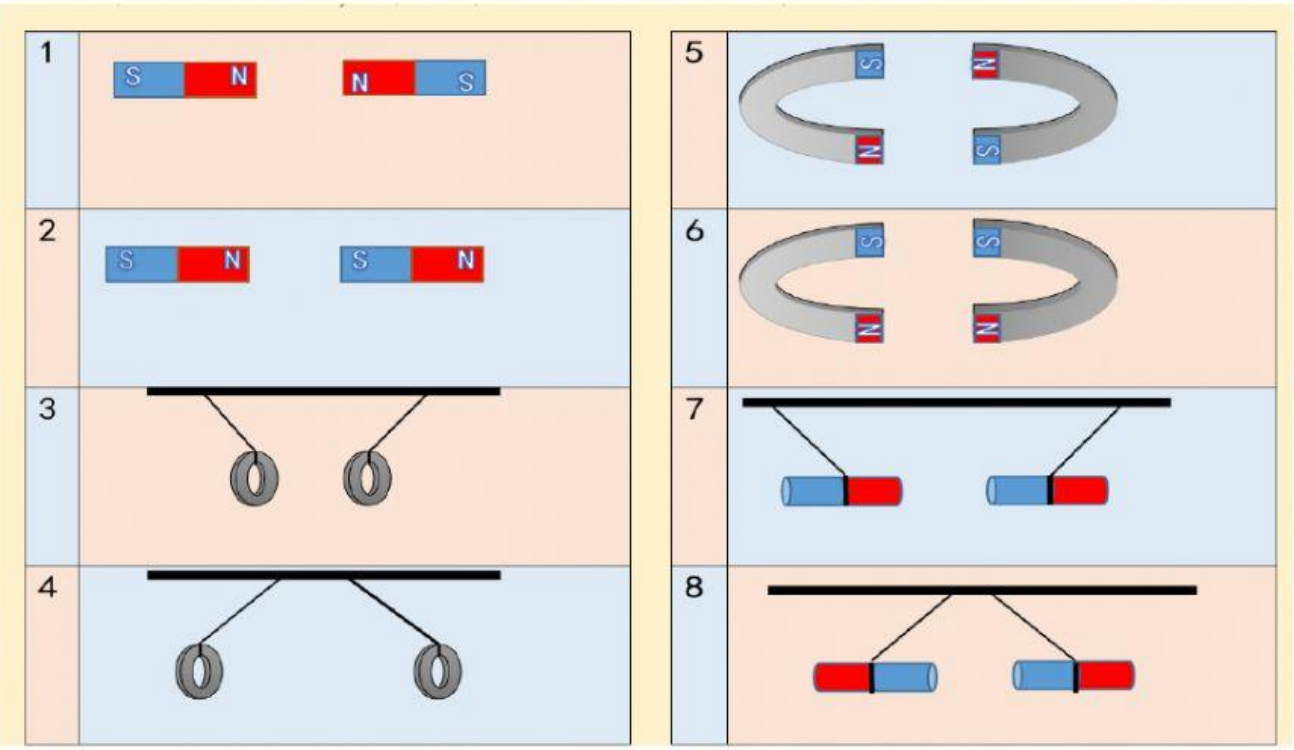

LIVEWORKSHEETS

选出磁铁的磁极和磁铁的形状。Pilih kutub magnet dan bentuk magnet.

1.

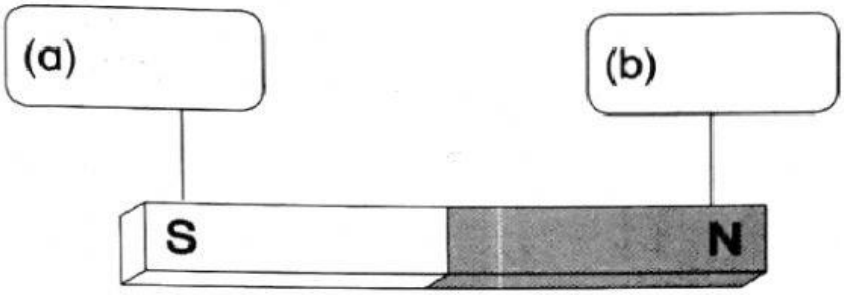

名称: _____

2.



名称: _____

3.



名称: _____

LIVEWORKSHEETS