Teacher: DC - PS
Subject: MATH
Grade: 2º Básico

TEST MATH

My name is: _____

Grade:_____**Date:**_____/_____/_____. **Score:**_____/50 pts

Objetivos de aprendizaje:
- OA1, OA3, OA7, OA9.

INSTRUCCIONES

- Para responderlas, usa lápiz grafito.
- Si te equivocas, puedes borrar y volver a marcar.

Si tienes una duda, en silencio, levanta la mano para preguntarle a tu profesora.

I. Escribe sí es **mayor, menor o igual que**, en el espacio blanco.
(4 puntos)

25		67	55		31
>	=	<	>	=	<
78		54	93		93
>	=	<	>	=	<

II. Escribe los números de **2 en 2. (0,5 c/u = 9 pts.)**

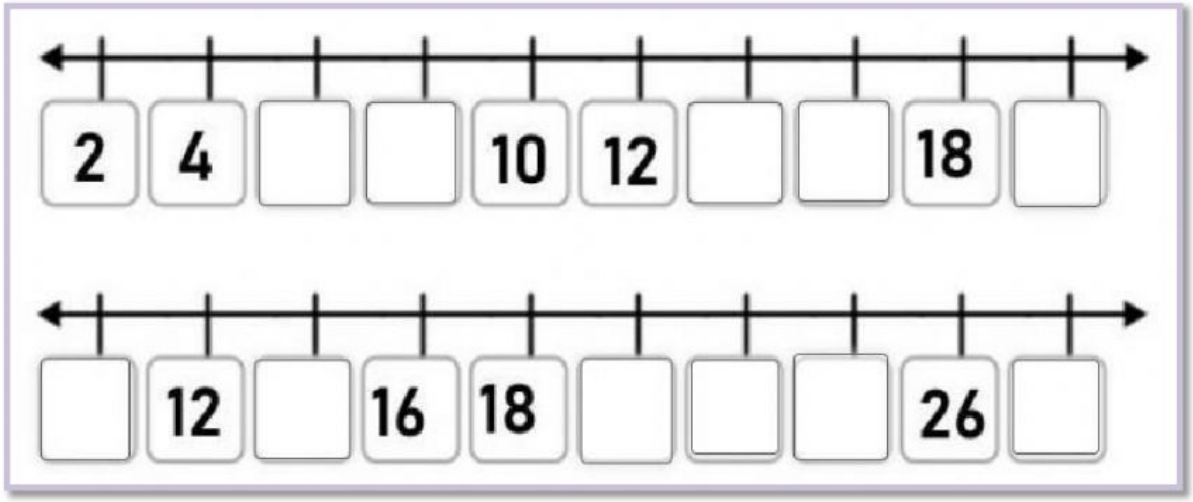

III. Ordena de **mayor a menor. (6 pts.)**

VI. **Completa** con los **números** que faltan. **(o,5 c/u = 5 pts.)**

0	1	2		4	5	6	7	8	9
10	11	12	13		15	16	17	18	19
	21	22	23	24	25	26	27	28	29
30	31	32	33	34		36	37	38	39
40	41	42	43	44	45		47	48	49
50	51	52	53	54	55	56	57	58	
	61	62	63	64	65	66	67		69
70		72	73	74	75	76	77	78	79
80	81	82		84	85	86	87	88	89
90	91		93	94	95	96	97	98	99
100									

V. Ordena de **menor a mayor (6 pts.)**

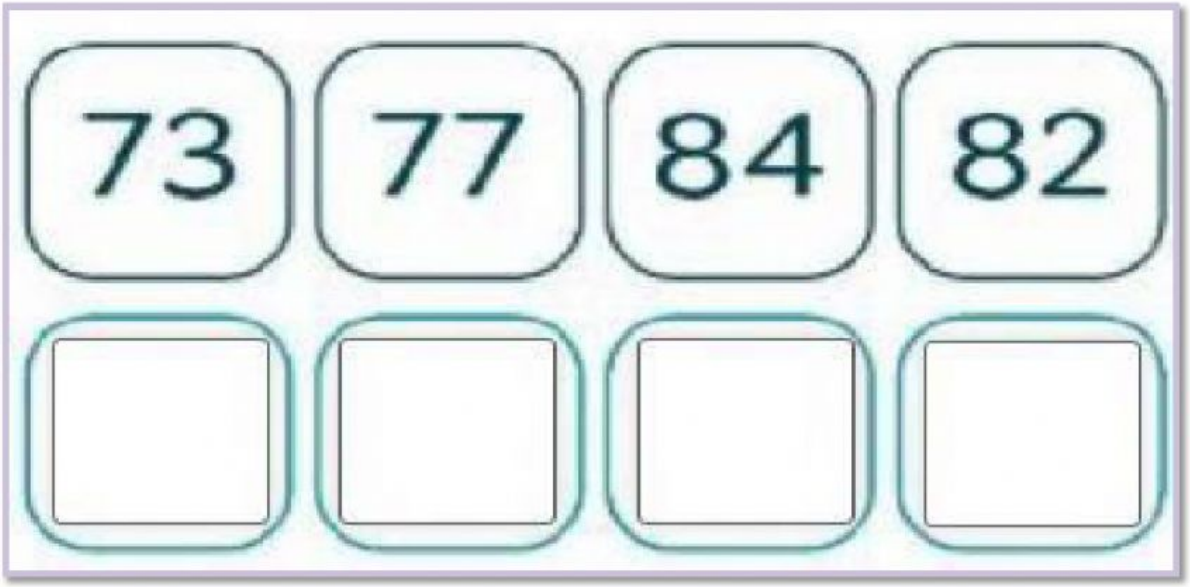

VI. Resuelve las siguientes **sumas (6 puntos)**

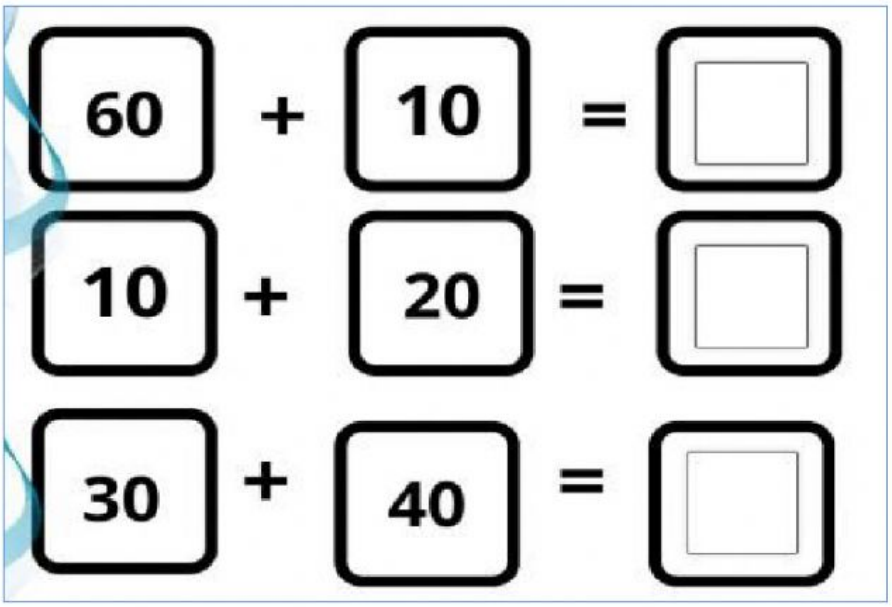

VII. ¿Qué hora es? Escribe la hora con palabras. (2 puntos)

VIII. Resuelve los siguientes problemas matemáticos utilizando la suma vertical. (6 pts.)

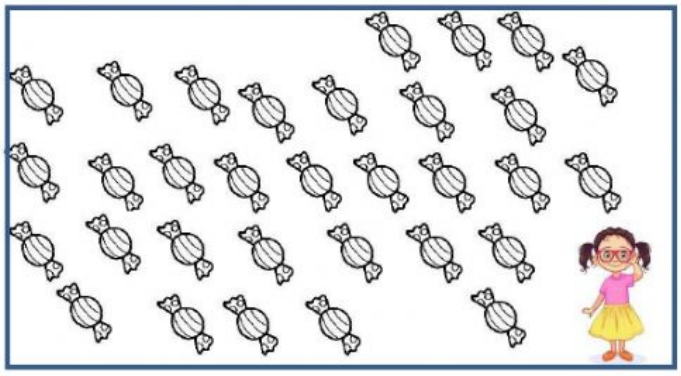

1. Claudia compra 32 dulces y su abuela le regala 15 dulces más. ¿Cuántos dulces tiene ahora?

Respuesta:

Operación:

	d	u

XI. Escribe la **DECENA y UNIDAD** de cada número. **(0,5 c/u = 6 pts.)**

34 = ☐ D ☐ U

21 = ☐ D ☐ U

17 = ☐ D ☐ U

88 = ☐ D ☐ U