9 Completa la ecuación.

Agua + ***+ luz y energía solar +*** ***= comida +***

10 Averigua a qué palabra se refiere cada oración.

- Hacen la comida durante la fotosíntesis
- Las raíces lo absorben
- Los minerales y el agua viajan a través de él
- Se mezcla con agua, minerales y luz solar para hacer comida

11 Mira las hojas e identifica cuál está haciendo la **fotosíntesis** y cuál está haciendo el proceso de **respiración**. Luego, explica cómo lo has sabido.

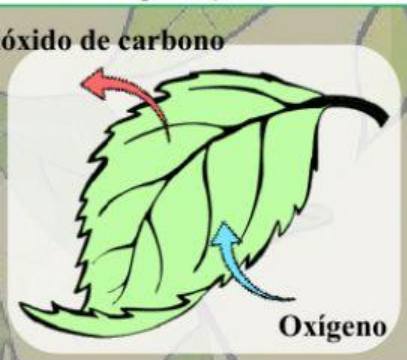

Durante el día / En la noche

¿Cómo lo sabes?

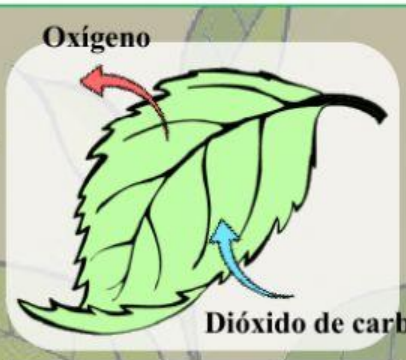

Durante el día / En la noche

¿Cómo lo sabes?

12 Completa el diagrama sobre el proceso de respiración y fotosíntesis.

¡Arrastra y une!

Fotosíntesis

Respiración

Respiración

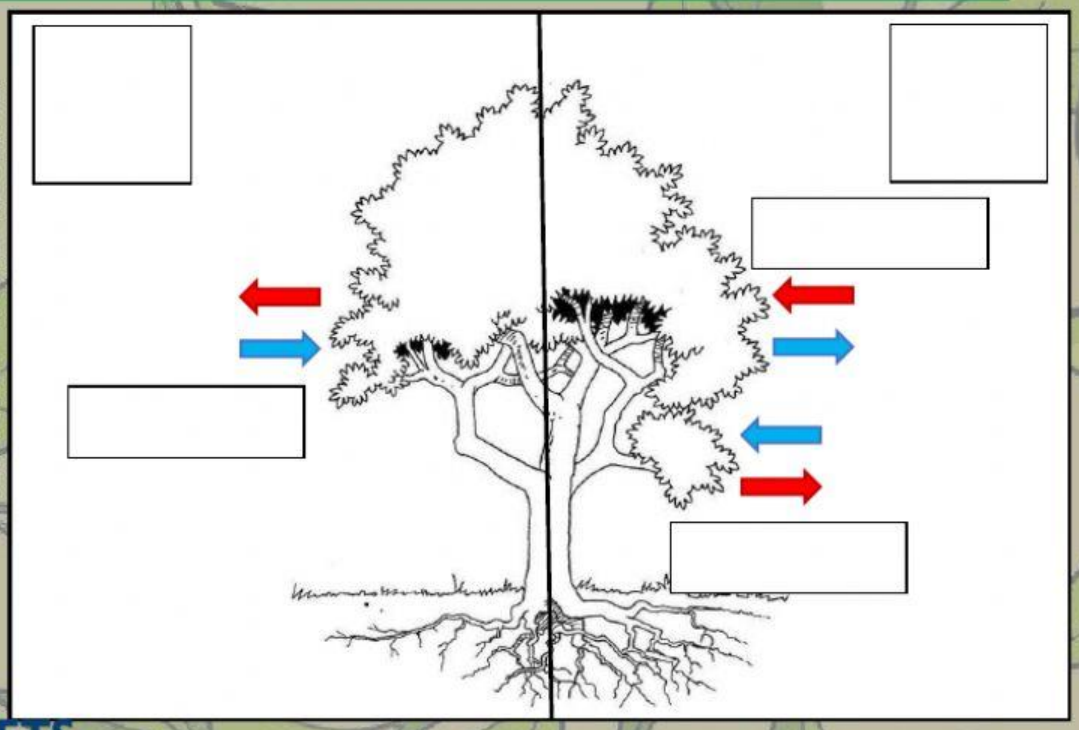

LIVEWORKSHEETS

13 Nombra las diferentes partes de la flor.

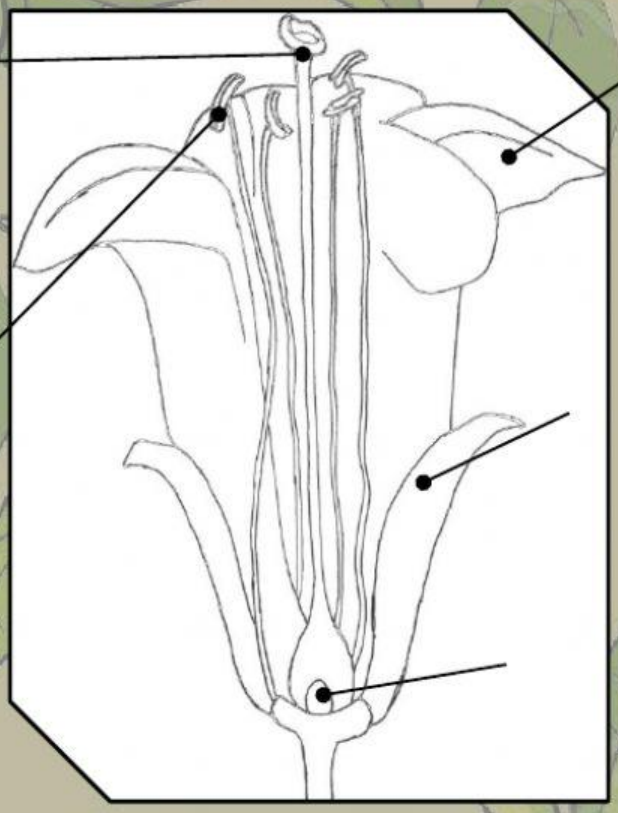

14 Une las partes de las flores con la función que hacen.

Estigma	Pequeñas hojas verdes que protegen la flor.
Estambres	Crece formando un fruto con semillas.
Pétalos	Producen polen.
Sépalos	Reciben el polen de otras flores.
Ovario	Atraen insectos a las flores.

15 Mira las imágenes sobre la polinización y escribe en el hueco **animal** o **viento**.

LIVEWORKSHEETS

16 Arrastra y suelta correctamente las imágenes para formar el ciclo vital de una planta.

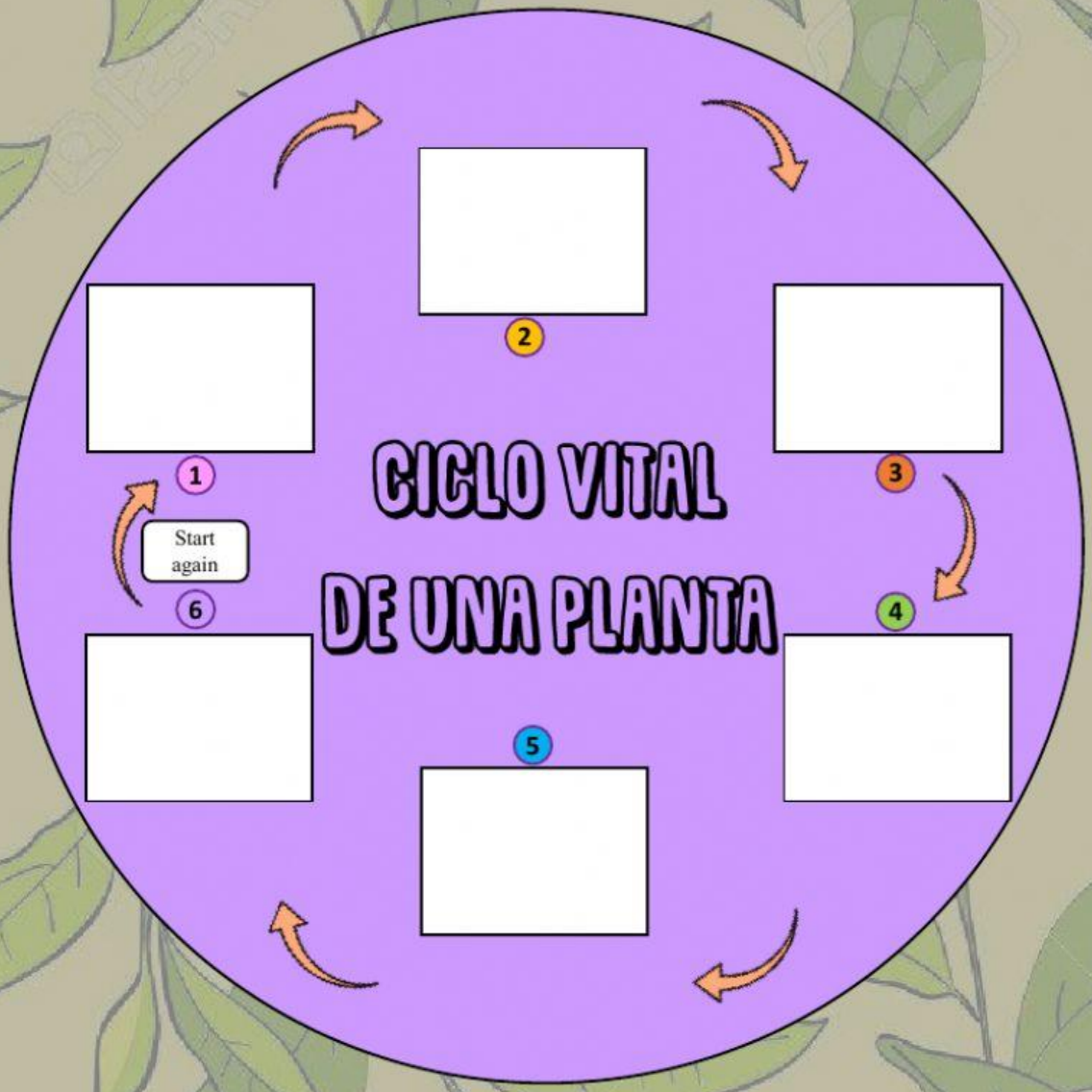



17 Mira la actividad anterior y numera lo que pasa en cada parta del ciclo vital de una planta.

El ovario toma la forma de un fruto y los pétalos se caen.

La semilla germina y una nueva planta crece.

El polen de otras plantas llega al estima y viaja al interior de la flor.

El fruto crece y cae. Cuando está en el suelo, se abre y deja salir las semillas fuera.

Una semilla se desarrolla dentro del ovario.

La nueva planta produce flores y el ciclo comienza de nuevo.

LIVEWORKSHEETS