MATHWORKSHEETS



แบบทดสอบ เรื่อง อสมการเชิงเส้นตัวแปรเดียว

ชื่อ: _____

ชั้น: _____

เลขที่: _____

คำชี้แจง ให้นักเรียนลากคำตอบลงในช่องว่าง

$<$ $\leq$ $\neq$ $>$ $\geq$

1. สัญลักษณ์ ☐ แทนความสัมพันธ์ น้อยกว่า

2. สัญลักษณ์ ☐ แทนความสัมพันธ์ มากกว่า

3. สัญลักษณ์ ☐ แทนความสัมพันธ์ไม่เท่ากับ

4. สัญลักษณ์ ☐ แทนความสัมพันธ์ น้อยกว่าหรือเท่ากับ

5. สัญลักษณ์ ☐ แทนความสัมพันธ์ มากกว่าหรือเท่ากับ

2 จากการแพร่ระบาดของโรค COVID-19 ควรจัดให้จำนวนนักเรียนในห้องเรียนไม่เกิน 25 คน

$<$ $\leq$ $\neq$ $>$ $\geq$

ให้ x แทน.....ประโยคสัญลักษณ์ คือ x ☐ 25

3 จำนวนจำนวนหนึ่งน้อยกว่าสิบเท้า

$<$ $\leq$ $\neq$ $>$ $\geq$

ให้ x แทน.....ประโยคสัญลักษณ์ คือ x ☐ 19

LIVEWORKSHEETS



4 $x \geqslant -3$ ____

5 $m \neq -6$ ____

6 $-5 < x \leqslant 1$ ____

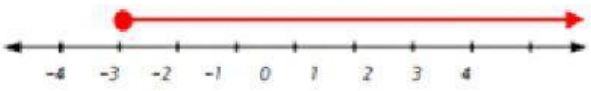
7 $b \leqslant 50$ ____

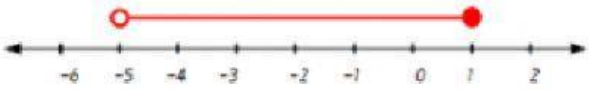
8 $k > -2$ ____

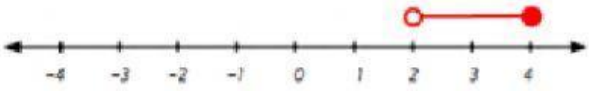
9 จำนวนจำนวนหนึ่งมีค่ามากกว่า 2 แต่ไม่เกิน 4 ____

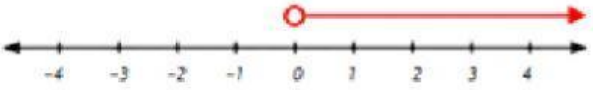
10 จำนวนจำนวนหนึ่งมีค่าอย่างน้อย 0 ____

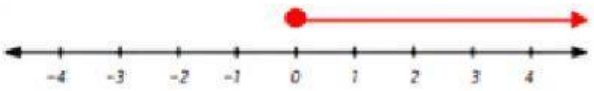


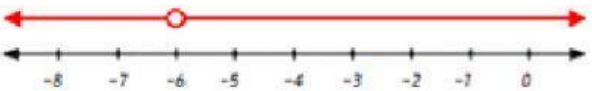
A.


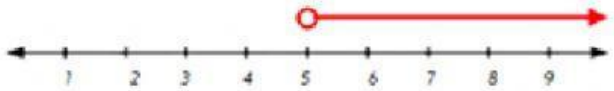
B.


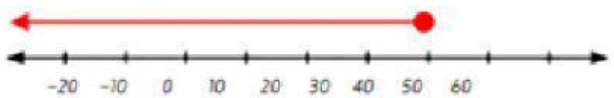
C.


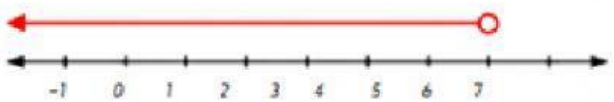
D.


E.


F.


G.


H.


I.


J.
