QUIZ DE ESTADISTICA 1° TERCER PERIODO

Combinaciones

1. **En la celebracion del cumpleaños de Laura, los niños deben escoger una opcion de comida y una de bebida ¿Cuáles son las opciones que tienen los niños? Escribe las bebidas en las casillas.**



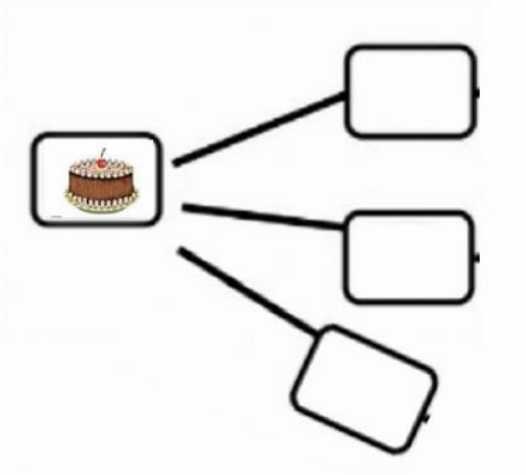

2. **Según el punto anterior ¿Cuántas posibilidades tienen los niños?**

Los niños tienen _____ opciones

LIVEWORKSHEETS

3. **Observa el siguiente cuadro y contesta siguiendo el ejemplo ¿Cuántas son las posibles combinaciones que se pueden formar entre el conjunto F y el conjunto B?**

F \ B			
	Manzana y leche		

4. **Según el punto anterior ¿Cuántas posibilidades tienen los niños?**

Los niños tienen _____ opciones

5. **Laura tiene hambre y para ello fue a la taquería "El güero" y puede comprar tacos con los siguientes guisados: pollo, bistec y champiñones. Puede beber: refresco, jugo o agua. ¿Cuántas combinaciones de alimentos puede realizar Laura?**

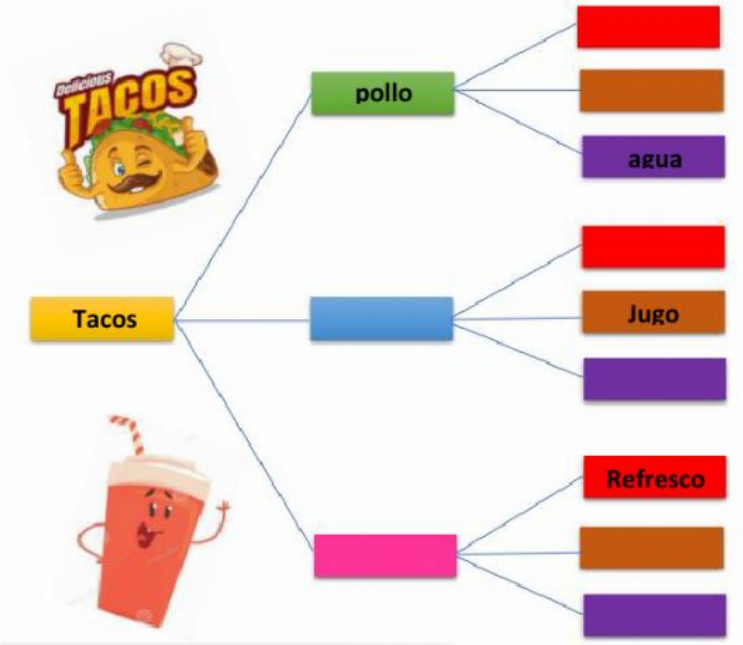

Laura tiene _____ opciones

Completa las opciones que faltan

LIVEWORKSHEETS