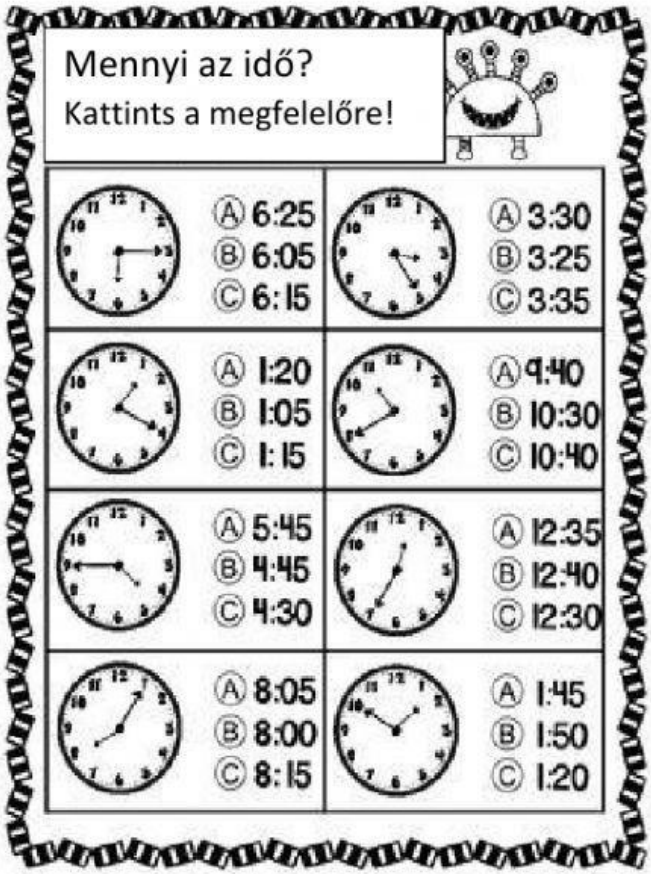

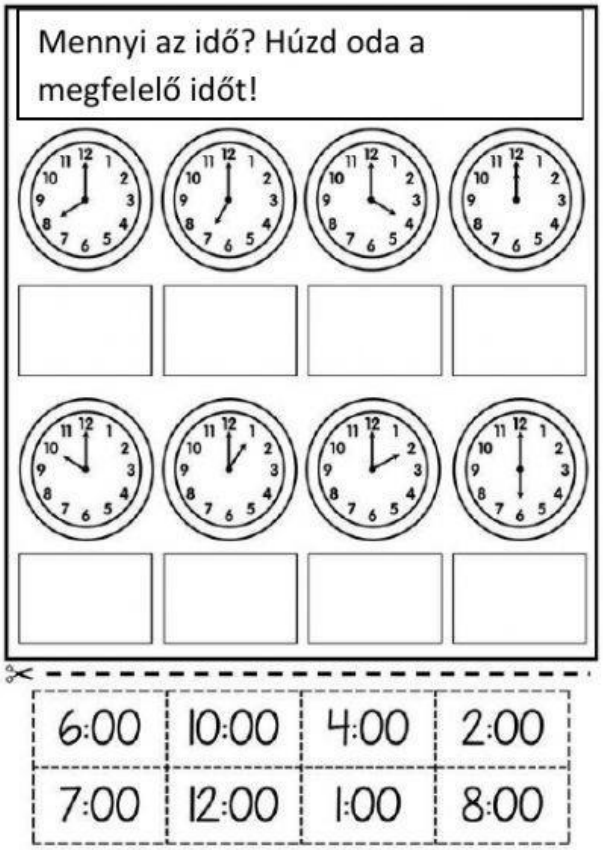

a) Kösd az órát a megfelelő kártyához!
b) Jegyezd le az óraállást a napszakoknak megfelelően!

fél 4 | negyed 12 | háromnegyed 8 | fél 3 | fél 5 múlt 5 perccel

délelőtt	__ __ : __ __	__ __ : __ __	__ __ : __ __	__ __ : __ __	__ __ : __ __
délután	__ __ : __ __	__ __ : __ __	__ __ : __ __	__ __ : __ __	__ __ : __ __

Építs számpiramist! Két téglalap fölé írd a számok szorzatát!

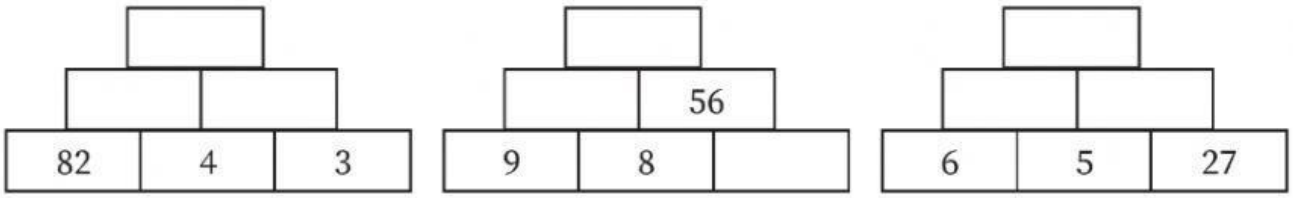

LIVEWORKSHEETS