Hoy vamos a repasar GEOMETRÍA utilizando el tangram que hicimos hace unas semanas.



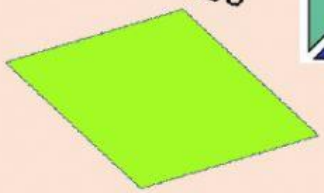

Ten a mano tu tangram y contesta las preguntas con letra minúscula.

Todas las figuras del tangram colocadas como en la imagen de arriba forman un gran _____.

Hay _____ triángulos. Según sus lados, todos ellos son triángulos _____ y según sus ángulos son_____.

Hay un_____ y también hay un_____, que son polígonos _____ y _____.

LIVEWORKSHEETS

¿Se puede formar un cuadrado con todos los triángulos del tangram?

Sí No

¿Se puede formar un triángulo con todos los triángulos del tangram?

Sí No

¿Se pueden formar dos cuadrados de diferentes tamaños con algunos triángulos del tangram?

Sí No

¿Se pueden formar dos romboides con dos triángulos iguales?

Sí No

¿Se pueden formar dos rombos de diferentes tamaños con cuatro triángulos?

Sí No

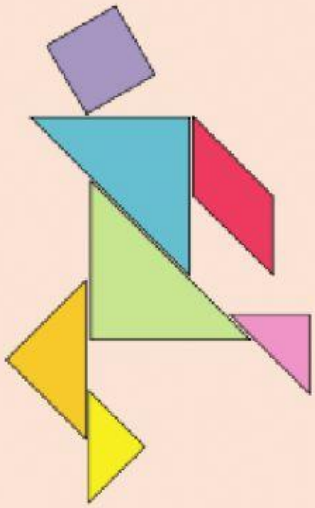

LIVEWORKSHEETS

De repaso:

Los _____ de los paralelogramos son _____ dos a dos.

Los _____ solo tienen _____ lados paralelos.

Los _____ no tienen ningún lado paralelo a otro.

Une cada imagen con la palabra que le corresponde.

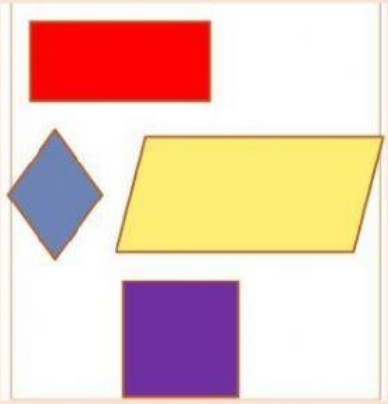

TRAPEZOIDES



PARALELOGRAMOS



TRAPECIOS

LIVEWORKSHEETS