PENILAIAN

Tema : 1. Pertumbuhan dan Perkembangan Mahluk Hidup
Subtema : 3 Pertumbuhan Hewan
Kelas : 3 Sekolah Dasar
Muatan : Bahasa Indonesia

A. Kliklah salah satu jawaban yang tepat dengan memberi tanda silang (x) pada huruf a, b, c atau d!

1. Pertumbuhan pada hewan contohnya adalah ....
   a. Awalnya diam menjadi bersuara
   b. Awalnya buta menjadi bisa melihat
   c. Awalnya lambat menjadi cepat
   d. Awalnya kecil menjadi besar

2. Salah satu faktor yang sangat mempengaruhi pertumbuhan hewan adalah ....
   a. Makanan
   b. Jenis kelamin
   c. Jenis bulu
   d. Jumlah kaki

3. Pertumbuhan pada burung merpati dimulai dari ....
   a. Kepompong
   b. Berudu
   c. Telur
   d. Ulat

4. Berikut ini adalah hewan yang berkembangbiak dengan cara bertelur, kecuali ....
   a. Bebek
   b. Elang
   c. Marmut
   d. Nyamuk

5. Ayam berkembang biak dengan cara .....
   a. Beranak
   b. Melahirkan
   c. Tunas
   d. Bertelur

6. Hewan yang memiliki badan dan tenaga yang kuat adalah .....
   a. Kuda
   b. Ayam
   c. Ikan
   d. Kucing

7. Daur hidup kupu-kupu setelah menjadi ulat adalah .....
   a. Ulat
   b. Kepompong
   c. Kupu-kupu
   d. Telur

8. Tahapan kedua pada perkembangbiakan pada katak adalah .....
   a. Katak dewasa
   b. Kepompong
   c. Berudu
   d. Telur

9. Hewan yang bernafas dengan insang adalah .....
   a. Ikan
   b. Kuda
   c. Kucing
   d. Kupu-kupu

10. Salah satu penyakit yang di akibatkan oleh nyamuk adalah .....
   a. Demam berdarah
   b. Flu
   c. Pusing
   d. Sakit gigi

LIVEWORKSHEETS

11. Salah satu penyebab berkembangnya nyamuk adalah .....
    a. Lingkungan yang bersih
    b. Air yang mengalir
    c. Banyaknya Genangan air
    d. Tanah yang banyak

12. Fase ketiga metamorfosis katak adalah . . . .
    a. telur
    b. berudu
    c. katak dewasa
    d. katak muda

13. Siklus hidup kupu-kupu disebut juga dengan . . . .
    a. metamorfosis
    b. trakhea
    c. insang
    d. fotosintesis

14. Urutan siklus perkembangan ayam adalah . . . .
    a. ayam dewasa - telur - anak ayam
    b. telur - anak ayam - ayam remaja
    c. ayam remaja - anak ayam - telur
    d. anak ayam - telur - ayam dewasa

15. Hewan yang berkembang biak seperti kucing adalah ....
    a. kambing
    b. burung
    c. ayam
    d. ikan

B. Isilah titik-titik pada kotak dengan kata yang tepat!

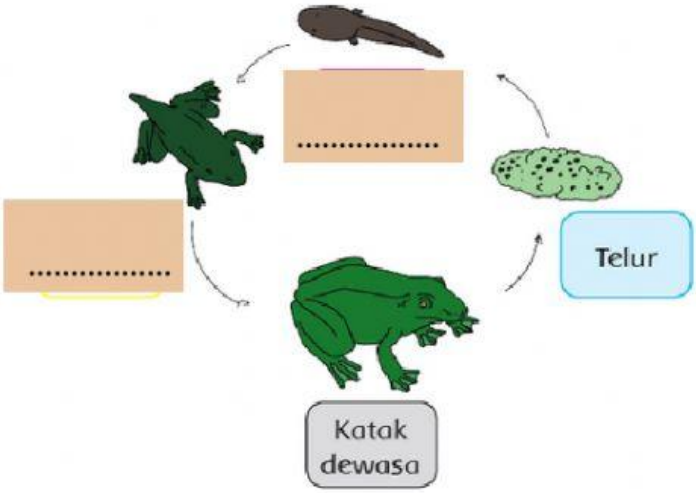

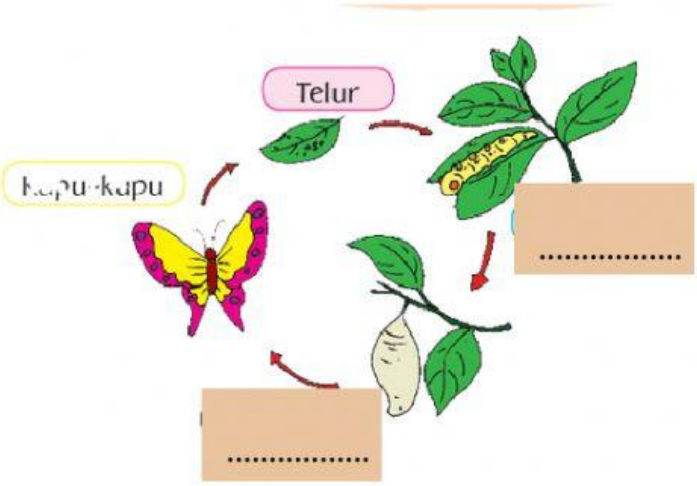

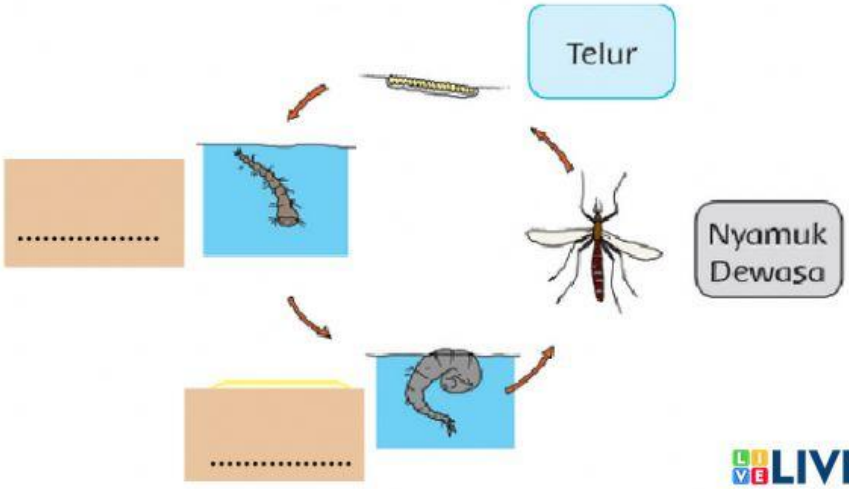

LIVEWORKSHEETS