TUGAS IPA PEMBELAHAN SEL

NAMA :

KELAS :

Perhatikan Video Materi Pembelajaran dibawah ini!

A. Jawablah Pertanyaan di bawah ini dengan Cara Menarik/Menggeser Jawabannya yang ada di dalam Kolom!

mitosis	haploid	meiosis
amitosis	metafase	Profase 1

1. Pembelahan yang dilakukan secara langsung dan tidak melalui tahapan-tahapan pembelahan Disebut _____
2. Pembelahan yang terjadi pada sel-sel kelamin adalah pembelahan _____
3. Pada pembelahan mitosis kromosom berada di bidang ekuator atau sejajar pada bidang

   pembelahan yaitu pada tahap _____
4. Pembelahan yang menghasilkan dua sel anak adalah ciri pembelahan _____
5. Jumlah sel yang setengah dari sel induknya disebut _____
6. Pada pembelahan Meiosis terdapat fase leptoten, zigoten, pakiten, diploten, dan diakinesis yaitu pada tahap _____

B. Hubungkan gambar pembelahan sel mitosis dengan nama tahapan yang sesuai disebelah kanan!

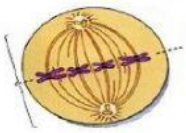

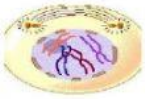

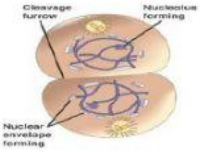

Profase

Metafase

Anafase

Telofase

LIVEWORKSHEETS

C. Pasangkan Tahap Pembelahan Meiosis pada gambar yang sesuai!

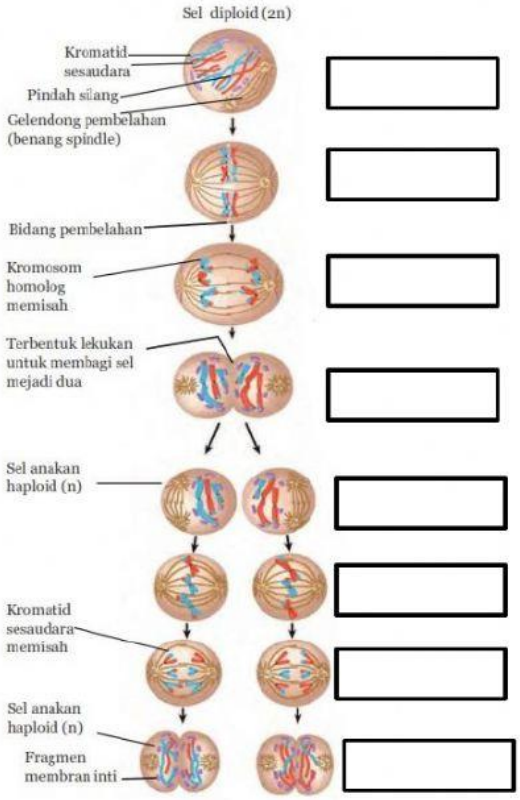

Telofase I

Anafase I

Metafase I

Profase I

Profase II

Metafase II

Anafase II

Telofase II

D. Lengkapilah tabel Perbedaan Pembelahan Mitosis dan Meiosis!

Ciri-ciri	Mitosis	Meiosis
Tempat Pembelahan Sel		
Jumlah sel anak		
Sifat sel anak		
Tujuan		

LIVEWORKSHEETS