+4 actividades

La multiplicación

1. Observa cada grupo de frutas. Luego, completa.

_____ grupos de _____ manzanas.

_____ + 2 = _____

Hay en total _____ manzanas.

_____ grupos de _____ limones.

_____ + 4 = _____

Hay en total _____ limones.



_____ grupos de _____ mangos.

_____ + _____ + 4 + 4 = 16

Hay en total _____ mangos.

2. Identifica cada grupo de objetos. Luego, arrastra en cada caso el grupo correspondiente.

3 grupos de 4 | 4 grupos de 3 | 2 grupos de 5

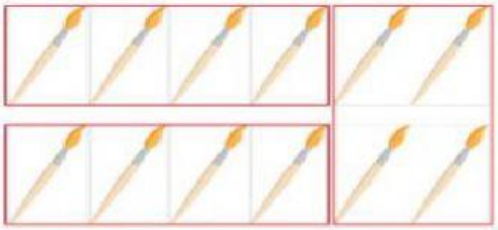



_____ _____

LIVEWORKSHEETS

3. Observa cada grupo de imágenes. Luego, relaciona cada imagen con la expresión correspondiente.

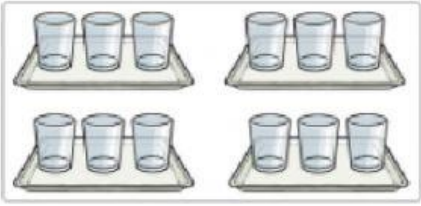

3 grupos de 9

4 grupos de 5



5 grupos de 9

4 grupos de 3

4. Lee cada situación. Luego, selecciona en cada caso la respuesta correcta.

- Tania compró cuatro paquetes de jugo. Si en cada paquete hay tres cajitas de jugo, ¿cuántas cajitas de jugo tendrá?

  ☐ 6 ☐ 12 ☐ 9

- Vanesa tiene tres platos. Hay seis fresas en cada plato. ¿Cuántas fresas tiene en total?

  ☐ 14 ☐ 18 ☐ 7

LIVEWORKSHEETS