No olvides los acentos de las palabras que los llevan

De los siguientes cuerpos geométricos, di cuáles son poliedros (si) y cuáles no (no)

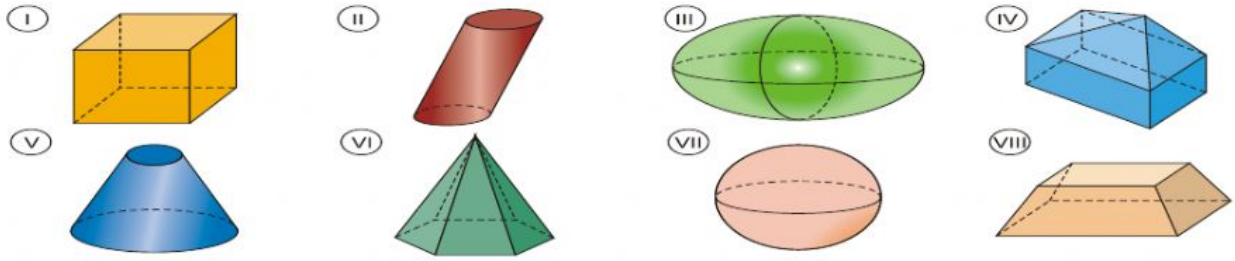

Observa este poliedro y contesta.

¿Cuántas caras tiene?

¿Qué polígonos forman sus caras?

¿Cuántas aristas tiene?

¿Cuántos vértices tiene?

Nombra cada elemento

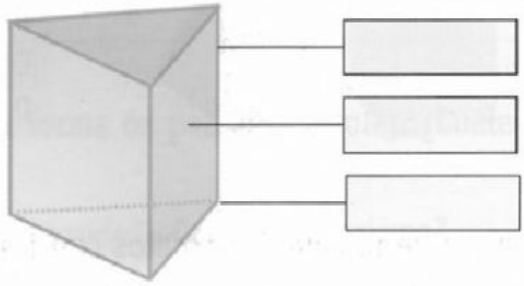

Completa la siguiente tabla:

Polígono regular	Tetraedro				Dodecaedro
Sus caras son:				cuadrados	
Número de caras		8	20		

Observa Los prismas y completa la tabla.

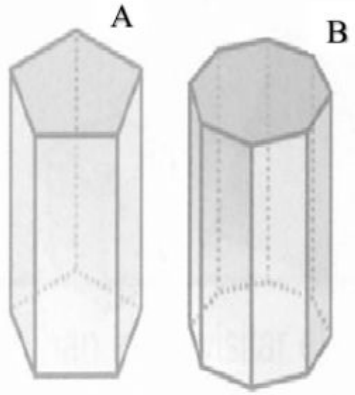

	Nombre del prisma	Polígono de sus bases	Número de caras	Número de aristas
A	P.			
B	P.			

LIVEWORKSHEETS

Completa la tabla:

Nombre de La pirámide	Base	Caras laterales	Vértices	Aristas	Cúspides
	cuadrado				
	heptágono				
P. octogonal					
	hexágono				

Observa las figuras y completa la tabla

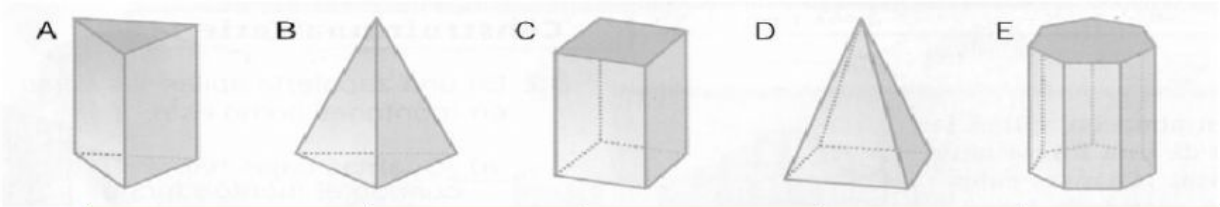

	Polígono de la base	Forma de caras laterales	Nombre del cuerpo	Aristas	Vértices
A					
B					
C					
D					
E					

Señala cuál de las figuras corresponde al desarrollo de un cilindro.

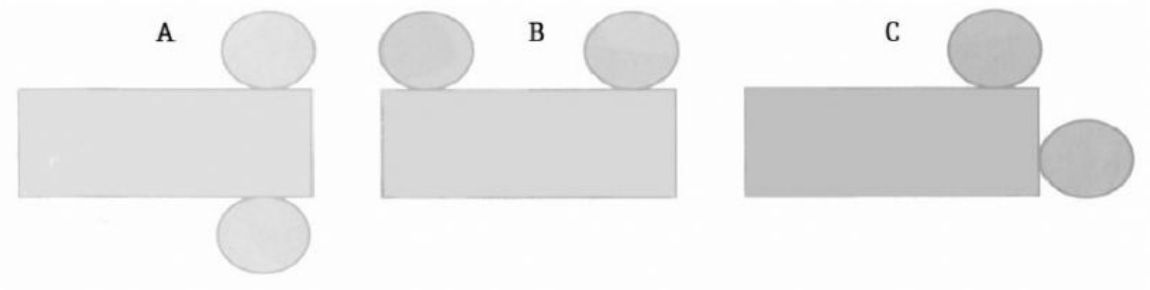

Observa estos cuerpos y señala la opción correcta

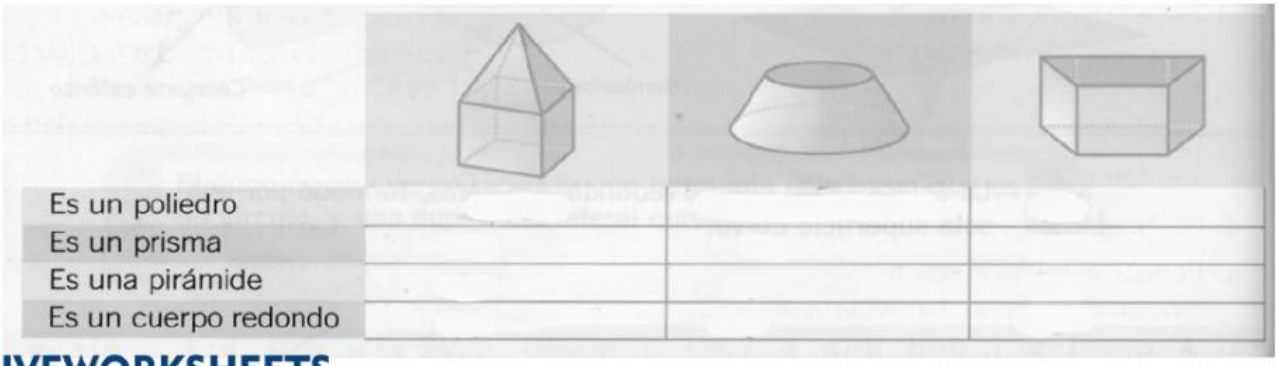

Es un poliedro			
Es un prisma			
Es una pirámide			
Es un cuerpo redondo			

LIVEWORKSHEETS

LIVEWORKSHEETS