MATEMÁTICAS – GUIA # 69– TAREA #10

CIRCULO DE CONOCIMIENTO N° 2: "Funciones lineales"

FECHA: 02 – 06 de agosto de 2021.

Docente: Msc. Angela Váscones **NIVEL EDUCATIVO:** PAI 69 - 75 **DÉCIMO** **Paralelo:** A-B-C

Tema: - Funciones lineales **Subtema:** Función lineal y afín **Jornada**: Matutina

APELLIDOS Y NOMBRES:

Dirección de correo Gmail:_____ **Nº de Celular:**_____

APLICACIÓN DEL CONOCIMIENTO / YACHAYWAN RURAY: Producción-Reproducción.

1. Escribe bajo cada imagen a que tipo de función pertenece:

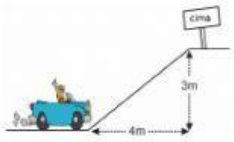



_____ _____ _____

2. Identifica la pendiente de las siguientes graficas:

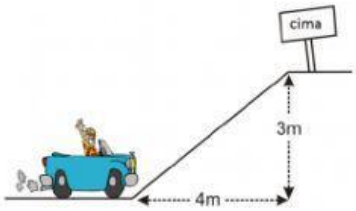

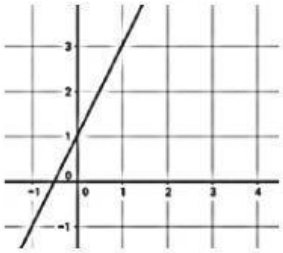

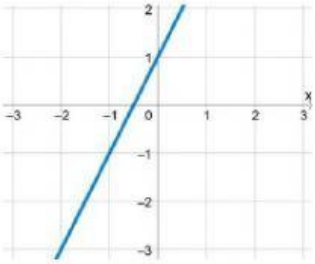

m =_____ m = _____ m= ____

3. Halla la pendiente de la recta que pasa por los puntos:

(21, 4) y (2, 4) m = _____ m= ___

CREACIÓN DEL CONOCIMIENTO / YACHAYWAN WIÑACHIY: Creación-Recreación.
Observa y marca la ecuación a la que pertenece la gráfica:

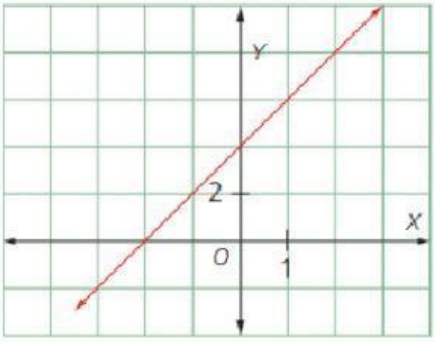

a. $g(x) = -3x + 3$

b. $h(x) = 2x + 4$

c. $j(x) = -8x - 3$

d. $k(x) = -\frac{4}{3}x + 5$

e. $l(x) = 9$

f. $f(x) = 4x - 50$

g. $p(x) = x - 1$

h. $r(x) = 1 - x$

LIVEWORKSHEETS