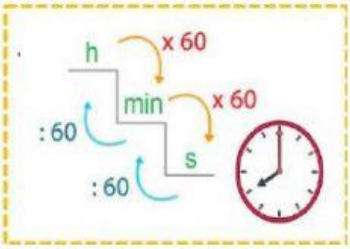

UNIDADES DE TIEMPO

Arrastra los números para completar según lo que equivale

24	60	12	3.600
60	4	365	7

1 hora es igual a		minutos.
1 minuto son		segundos.
1 hora son		segundos.
1 día son		horas.
1 semana son		días.
1 mes son		semanas.
1 año son		meses.
1 año son		días.

Une los enunciados de la columna A con los de la columna B, según corresponda.

A	B
90 Minutos	Media hora
1800 segundos	Dos horas
15 minutos	Un cuarto de hora
120 Minutos	Una hora y media

LIVEWORKSHEETS

CALCULA Y COMPLETA CON CIFRAS SEGÚN CORRESPONDA

- 8 horas= ☐ Minutos
- 3 días= ☐ Horas
- 10 minutos= ☐ Segundos
- 8 años= ☐ Meses
- 2 años= ☐ días

RESUELVE LOS PROBLEMAS

Luciana fue al estreno de una película que duró 135 minutos. La función empezó a las 7 de la noche. ¿Cuántas horas y minutos duró la película? ¿A qué hora termino?

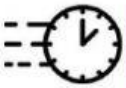

Respuesta: La película duró ☐ horas y ☐ minutos y terminó a las ☐ y ☐ p.m.

Un concierto duró 228 minutos. ¿Cuántas horas y minutos duró?

228 minutos= ☐ horas y ☐ minutos.

LIVEWORKSHEETS

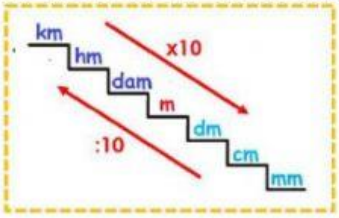

UNIDADES DE LONGITUD

La principal unidad de longitud es el metro=m.

EQUIVALENCIAS

1 Km. = 1.000m.
1 m. = 100 cm.
1 cm.= 10 mm.


metro

cinta métrica

regla

Observa cada objeto y completa la medida

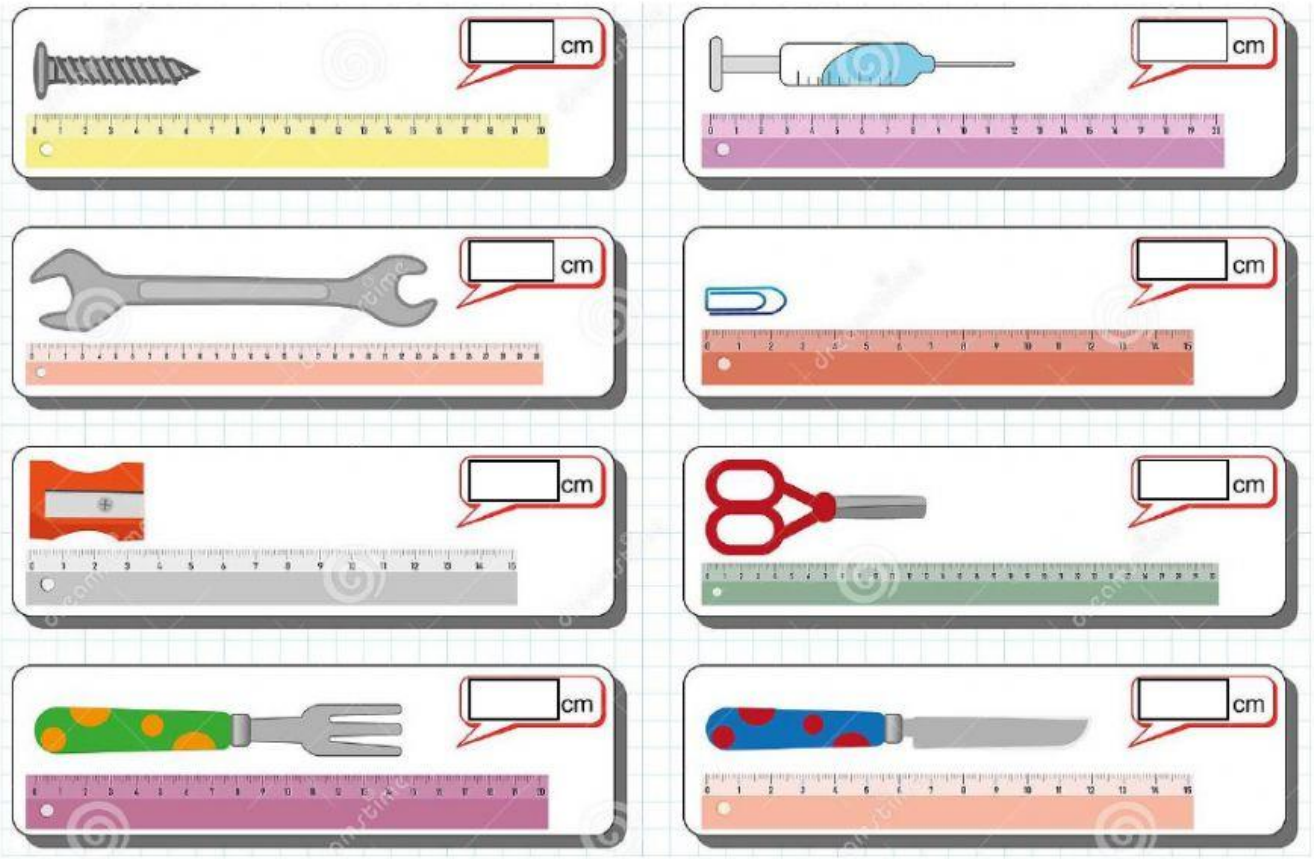

LIVEWORKSHEETS

Completa arrastrando las medidas dadas

50	5	60	7000	5

50 cm= _____ dm

70 hm= _____ m

500 cm= _____ m

5 cm= _____ mm

600 cm= _____ dm

Resuelve los Problemas: Une el problema con la solución

Una cuerda mide 3m y 8dm.
¿Cuánto mide en centímetros?

8.500 m

Para medir una casa tengo 2 elementos.
Regla y Cinta métrica.
¿Cuál me sirve para medir una pared?
¿Cuál se me facilita medir un lápiz?

380 cm

Juan Carlos recorre 5 km todos los días y
Sara recorre 3.500 metros.
¿Cuántos metros recorren entre los dos?

LIVEWORKSHEETS