COLEGIO SANTO DOMINGO BILINGÜE
www.colegiosantodomingo.edu.co

Saber Dominguista No. 01
Third Term - Fourth Grade

Nombre:_____Curso: _____ Fecha: _____
Docente: _____

Criterios

Estimado estudiante. La siguiente prueba se basa en las competencias vistas en clase a partir de su trabajo personal realizado en las mismas. Para ello tenga en cuenta:

- **a)** Se evalúan las competencias de Razonamiento y Argumentación.
- **b)** Tener abierto tu correo institucional.
- **c)** Tener cámara y micrófono encendido durante la prueba.
- **d)** Al finalizar revisa muy bien toda la prueba, luego da click en **"TERMINADO"**
- **e)** Toma un pantallazo o foto del envío y guárdalo en el computador.

1. Resuelve la siguiente situación que involucra perímetro y áreas.

a. Indica qué superficie tiene la siguiente figura en unidades cuadradas.

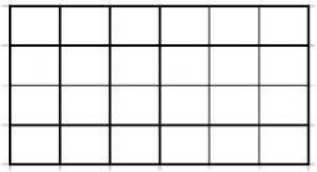

_____ unidades cuadradas

b. Calcula el perímetro y el área de cada uno de los siguientes cuadrados.

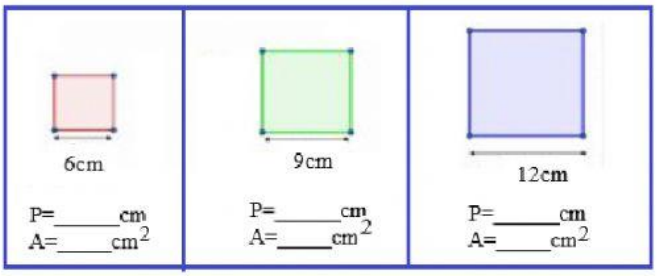

2. Hoy me llegó la cuenta del teléfono. Decía cuanto tenía que pagar por distintos servicios. Eran cuatro servicios:

Primer servicio: $30,75
Segundo servicio: $28,30
Tercer servicio: $44,55
Cuarto servicio: $19,45

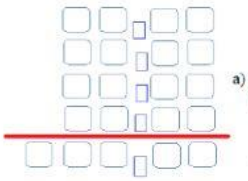

a) ¿Cuánto deberé pagar en total?
Rta: _____

b) Y si la próxima cuenta fuera el triple del total, debería pagar _____

3. El profesor Hugo le plantea un reto a los estudiantes de cuarto grado.

Ellos deben convertir las siguientes fracciones a números decimales y quien lo logre hacer correctamente ganara un premio.

$\frac{4}{5} =$	$\frac{3}{4} =$
$\frac{45}{9} =$	$\frac{7}{5} =$

LIVEWORKSHEETS

4. Ordena de mayor a menor los siguientes números

6,45	6,7	6,24	6,81	6,57	6,11	3,12	3,015	3,005	3,012	3,2	3,001

5. Laura tiene $26,50 y quiere comprar dos libros de $ 13,50 cada uno.

¿Le alcanza? **si___ no___**

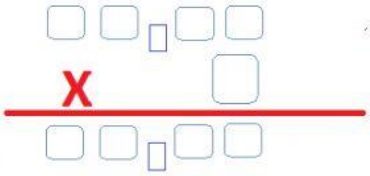

Si no le alcanza, ¿cuánta plata le falta?

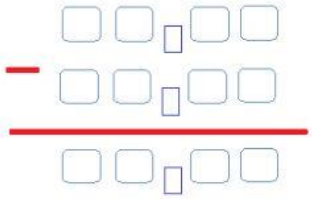

Le falta_____

LIVEWORKSHEETS