# FRACCIONES: LECTURA Y ESCRITURA

**RECUERDA**



La fracción que representa la parte sombreada es:

$\frac{1}{2}$ ← Número de partes sombreadas
← Número de partes iguales de la figura

La fracción $\frac{1}{2}$ se lee: un medio.

**1 Escribe la fracción que representa la parte sombreada.**

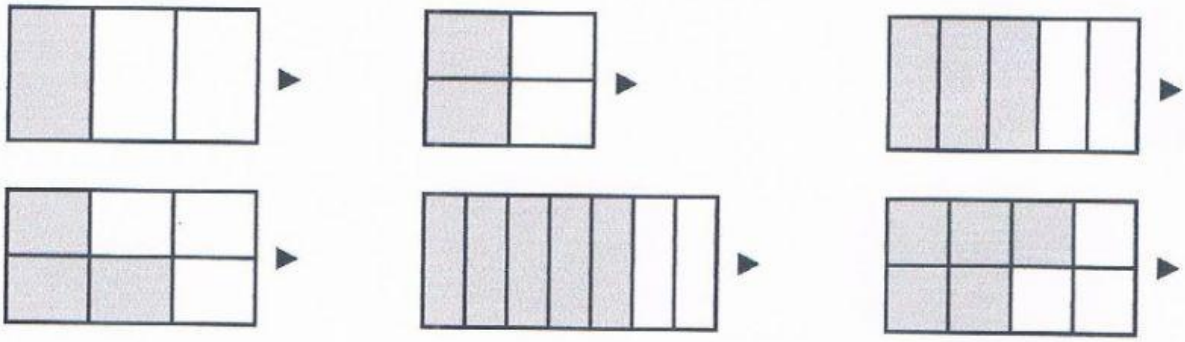

**2 Completa la tabla.**

| Fracción | Lectura | Representación |
|---|---|---|
| $\frac{1}{3}$ | | |
| $\frac{3}{4}$ | | |
| $\frac{3}{5}$ | | |
| | Cinco sextos | |
| | Cinco séptimos | |
| | Ocho novenos | |



LIVEWORKSHEETS

# UNIDADES DECIMALES

**RECUERDA**

1 décima se escribe así:

$\frac{1}{10}$ o 0,1

Fracción Decimal

1 centésima se escribe así:

$\frac{1}{100}$ o 0,01

Fracción Decimal

**1 ¿Cuántas décimas son? Cuenta y escribe la fracción correspondiente.**



☐ décimas ▶ —



☐ décimas ▶ —

☐ décimas ▶ —



☐ décimas ▶ —

**2 ¿Cuántas centésimas son? Cuenta y escribe la fracción correspondiente.**

☐ centésimas ▶ —

☐ centésimas ▶ —

☐ centésimas ▶ —

☐ centésimas ▶ —

**3 Escribe en forma de número decimal.**

RECUERDA
- $\frac{1}{10} = 0,1$
- $\frac{1}{100} = 0,01$

- $\frac{2}{10} =$
- $\frac{4}{10} =$
- $\frac{6}{10} =$
- $\frac{8}{10} =$
- $\frac{3}{100} =$
- $\frac{5}{100} =$
- $\frac{7}{100} =$
- $\frac{9}{100} =$

**4 Escribe en forma decimal.**

- 5 décimas ▶
- 7 décimas ▶
- 4 centésimas ▶



LIVEWORKSHEETS

# NÚMEROS DECIMALES

**RECUERDA**

- Un número decimal tiene dos partes:
  - La parte entera, a la izquierda de la coma.
  - La parte decimal, a la derecha de la coma.
- El número 3,45 se lee: 3 unidades y 45 centésimas.

3,45

Parte entera | Parte decimal

**1 Rodea en cada número.**

ROJO ▸ La parte entera. 2,9 34,6 14,62

AZUL ▸ La parte decimal. 7,59 5,06

**2 Completa la tabla.**

| Número decimal | Lectura |
|---|---|
| 3,6 | |
| 9,67 | |
| 12,4 | |
| 35,93 | |
| | 56 unidades y 15 centésimas |
| | 75 unidades y 9 centésimas |

**3 Lee y relaciona a cada persona con su hucha.**

Julia tiene en su hucha 25 € y 65 céntimos.
Mario tiene 25 € y 19 céntimos.
Susana tiene 52 € y 9 céntimos.
Pablo tiene 52 € y 8 céntimos.

JULIA PABLO MARIO SUSANA



LIVEWORKSHEETS

# COMPARACIÓN DE DECIMALES

**RECUERDA**

Para comparar números decimales, primero compara la parte entera; si es igual, compara las décimas, y si son iguales, compara las centésimas.

**1 En cada pareja, rodea.**

| El número mayor | | El número menor | |
|---|---|---|---|
| • 3,9 4,3 | • 5,2 5,7 | • 8,4 9,6 | • 3,18 3,81 |
| • 10,12 9,17 | • 7,74 7,71 | • 7,58 5,31 | • 9,26 9,28 |

**2 Escribe tres números.**

- Mayores que 8,3.
- Menores que 9,5.
- Mayores que 5,39 y menores que 5,99.

**3 Ordena y utiliza el signo adecuado.**

RECUERDA

< se lee: menor que.

> se lee: mayor que.

De menor a mayor:

- 4,8 2,9 7,2
- 1,56 3,29 1,52

De mayor a menor:

- 2,1 5,9 3,5
- 4,09 4,91 4,90

**4 Lee y contesta.**

Raquel compra una mochila por 12,50 €, Marina una por 12,90 € y Jaime otra más cara que la de Raquel y más barata que la de Marina. ¿Qué precio puede tener la mochila de Jaime? Escribe tres posibles respuestas.

LIVEWORKSHEETS