# 第9课 地球

课本第 153 至 164 页

## UPSR 焦点 4

**试卷一** 圈出正确的答案。

1 什么是地心引力？
A 地球的磁力
B 向着天空的一股拉力
C 向着地心的一股拉力
D 提供生物精力的一股力量

2 哪个现象是由地心引力所形成的？
A

B

C
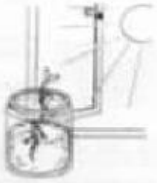
D

3 图 1 显示地球的一种转动。

图 1

哪项有关上述地球的转动的说明是正确的？
A 地球绕着地轴由东向西自转
B 地球绕着地轴由西向东自转
C 地球只在白天绕着地轴自转
D 地球只在夜晚绕着地轴自转

4 哪项有关地球的转动的说明是正确的？
I 地球自转一周大约需 24 小时
II 地球公转一周大约需 $365\frac{1}{4}$ 天
III 地球和太阳一样，只会自转不会公转
IV 地球自转和公转一周所需的时间是相同的
A I 和 II
B I 和 III
C II 和 IV
D III 和 IV

5 图 2 显示地球上的 P 地区和 Q 地区。

图 2

根据图 2，P 地区和 Q 地区的居民最有可能在进行什么活动？

| | P 地区 | Q 地区 |
|---|---|---|
| A | 插秧 | 睡觉 |
| B | 吃早餐 | 睡觉 |
| C | 做晨运 | 吃午餐 |
| D | 吃晚餐 | 在上课 |

6 哪项是由地球的公转形成的现象？
A 一年四季的变化
B 白昼和黑夜的交替
C 太阳在空中的位置变化
D 影子长度和方向的变化



LIVEWORKSHEETS

## 试卷二 在指定的空位填写正确的答案。

下图显示地球在自转的情景。

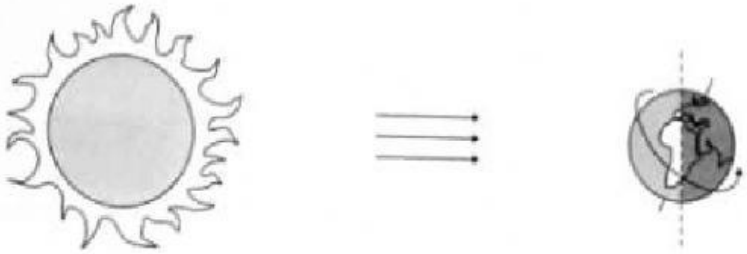

**(a)** 根据上图，地球的自转导致了什么现象？

_____

**(b)** 如果地球不再自转，将会发生什么情况？

_____

_____

**(c)** 除了你在 (a) 项所提及的现象，以下哪种现象也是由地球自转所造成的？画 ✓。

| P现象 | Q现象 | R现象 |
|---|---|---|
|  | |  |
| ☐ | ☐ | ☐ |

**(d)** 如果地球是由东向西自转，我们在地球上所看见太阳的升起和落下会产生怎样的变化？

_____

LIVEWORKSHEETS