LEMBAR KERJA PESERTA DIDIK

Nama Siswa: .....

No Absen : .....

A. Pecahan

Pembilang

$$\frac{2}{3} =$$ **di baca dua per tiga**

Penyebut

B. Membuat Pecahan

1. Bacalah lambang pecahan yang akan di buat dengan seksama
2. Klik kolom biru untuk mementukan pembilang kemudian pilihlah angka yang sesuai
3. Klik kolom kuning untuk mementukan penyebut kemudian pilihlah angka yang sesuai
4. Kerjakanlah semua soal dengan memilih jawaban yang dianggap benar

Tiga per Lima



dua per Tiga



Satu Per Tiga



Satu Per Empat



LIVEWORKSHEETS

C. **Memasangkan Pecahan**

1. Pasangkanlah pecahan dengan gambar yang sesuai dengan nilai pecahan tersebut
2. Tarik garis dari kolom bewarna hijau menuju warna merah
3. Kerjakanlah semua soal yang diberikan

Pecahan		Gambar Pecahan
$\frac{3}{5}$		
$\frac{2}{4}$		
$\frac{1}{5}$		
$\frac{1}{3}$		

LIVEWORKSHEETS