แบบทดสอบ

คำชี้แจง ให้นักเรียนเลือกคำตอบที่ถูกต้องที่สุดเพียงข้อเดียว

1. ข้อใดคือกราฟของฟังก์ชันขั้นบันไดต่อไปนี้ $f(x) = \begin{cases} 4 \ , & 0 < x \le 6 \\ 6 \ , & 6 < x \le 8 \\ 8 \ , & 8 < x \le 10 \end{cases}$

ก.

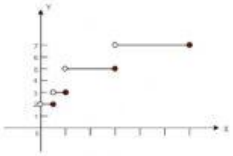

ข.

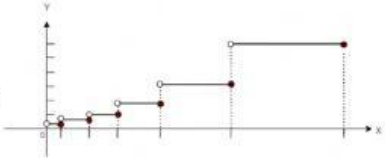

ค.

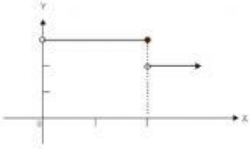

ง.

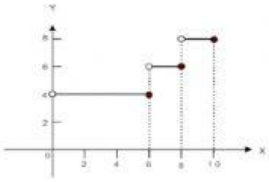

LIVEWORKSHEETS