Colegio Nacional Americano
Matemática 3ro A / B
Prueba corta - Quincena XIV
Nombre: _____

**Instrucciones:** Escribe la fracción de acuerdo al gráfico y en el cuadro selecciona como se lee.

_____

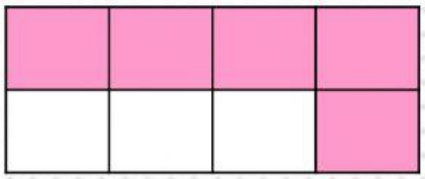

**Instrucciones:** Selecciona la respuesta correcta y escribe como se lee la fracción.

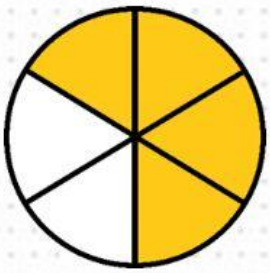

$\frac{6}{4}$ $\frac{4}{6}$ $2\frac{4}{6}$

**Se lee:**

_____

**Instrucciones:** Selecciona falso o verdadero según el caso de comparación de fracciones.

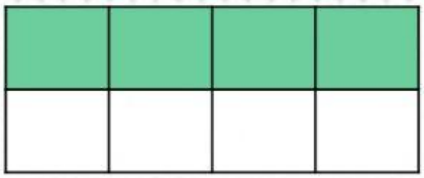

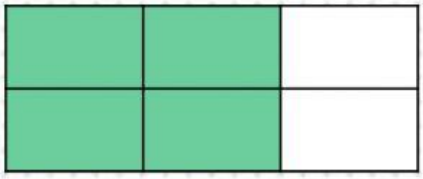

$\frac{4}{8} < \frac{4}{6}$

Verdadero Falso

**Instrucciones:** Escucha el dictado que haré y escríbela en fracción.

_____

LIVEWORKSHEETS