Escuela Pablo Neruda
San Esteban

Historia
Segundo Básico

LOS PUNTOS CARDINALES

Arrastra los puntos cardinales a su lugar correspondiente:

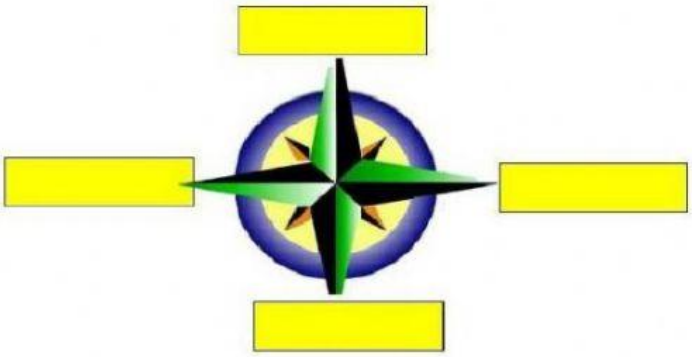

Norte

Sur

Este

Oeste

Observa la imagen y elige la opción correcta a cada información.

- La casa está al
- La playa está al
- El bosque está
- El sol está al

LIVEWORKSHEETS

Escuela Pablo Neruda
San Esteban

Historia
Segundo Básico

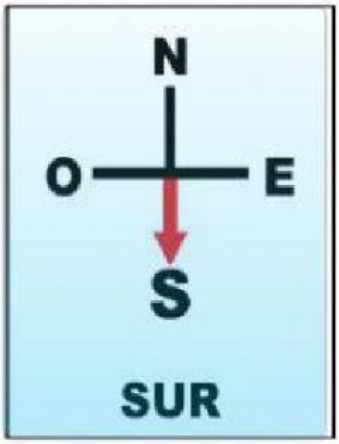

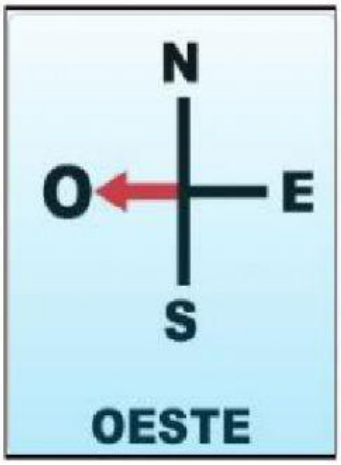

LIVEWORKSHEETS

Escuela Pablo Neruda
San Esteban

Historia
Segundo Básico

Coloca los objetos en el punto cardinal que te indican.

a. El al sur

b. El al oriente

c. La al norte

d. Las al occidente

LIVEWORKSHEETS