LICEO GLOBERTH MIXTO

PRUEBA DE MATEMATICAS : GRADO: SEGUNDO.

1) Resuelve:

318 + 25 =

a. 568
b. 343
c. 523

2) La suma de 357 y 34 es:

a. 381
b. 697
c. 391

3) Resuelve:

45 - 18 =

a. 27
b. 33
c. 63

4) La diferencia entre 92 y 86 es:

a. 5
b. 6
c. 7

5) ¿Qué número falta en el recuadro?

17 + ☐ = 23

a. 14
b. 6
c. 40

6) ¿Qué número falta en el recuadro?

87 - ☐ = 53

a. 34
b. 24
c. 130

LIVEWORKSHEETS

Observa y calcula:

Un es igual a 1 cubito Una es igual a 10 cubitos

Una es igual a 100 cubitos

1) ¿Cuántos cubitos hay en este dibujo?



a. 200
b. 235
c. 208

Observa y calcula:

Un equivale 1 Unidad

Una equivale a 10 Unidades

2) ¿Dónde hay 40 unidades?

a.

b. 

c. 

LIVEWORKSHEETS

LIVEWORKSHEETS