PENYELESAIAN MASALAH

ARAHAN : PILIH JAWAPAN YANG PALING TEPAT.

UPSR KERTAS 1

1. $4\frac{1}{6}$ jam = _____ minit
   A 410
   B 260
   C 250
   D 240

JAWAPAN :

2. 9.125 hari =
   A 216 jam
   B 218 jam
   C 219 jam
   D 547 jam

JAWAPAN :

3. Antara berikut, yang manakah benar?
   A 1.5 tahun = 15 bulan
   B 2.1 dekad = 21 tahun
   C 3.8 abad = 308 dekad
   D 4.07 abad = 470 tahun

JAWAPAN :

4. [ ] minit + $3\frac{2}{5}$ jam = 5 jam
   A 94
   B 96
   C 104
   D 106

JAWAPAN :

5. 8.47 abad + [ ] tahun
   = 10 abad 21 tahun
   A 126
   B 136
   C 174
   D 176

JAWAPAN :

6. 9.25 tahun − $2\frac{1}{3}$ tahun =
   A 7 tahun 1 bulan
   B 7 tahun
   C 6 tahun 11 bulan
   D 6 tahun 5 bulan

JAWAPAN :

7. $13\frac{4}{5}$ dekad − 9.9 dekad =
   A 39 tahun
   B 40 tahun
   C 41 tahun
   D 42 tahun

JAWAPAN :

8. 0.375 hari + 6 hari 15 jam =
   A 6 hari 20 jam
   B 6 hari 21 jam
   C 6 hari 23 jam
   D 7 hari

JAWAPAN :

9. $1\frac{1}{2}$ abad + 34 dekad =
   A 4 abad 7 dekad
   B 4 abad 9 dekad
   C 5 abad 9 dekad
   D 5 abad 10 dekad

JAWAPAN :

10. $3\frac{1}{4}$ tahun + $\frac{1}{2}$ tahun =
    A 39 tahun B 41 bulan
    C 43 bulan D 45 bulan

JAWAPAN :

11. Antara berikut, yang manakah padanan yang betul?

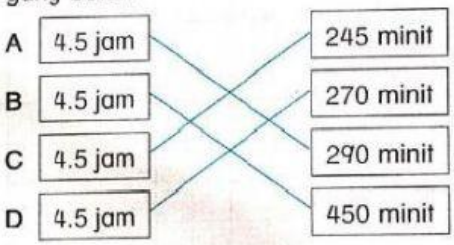

JAWAPAN :

12.

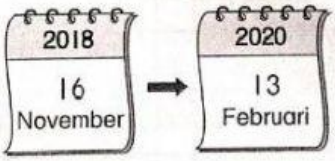

Berapakah tempoh masa antara dua tarikh pada kalendar itu?
   A 465 hari B 455 hari
   C 435 hari D 410 hari

JAWAPAN :

13. Encik Ali sekeluarga bercuti di kampung dari 17 Julai 2020 hingga 8 September 2020. Berapa harikah mereka bercuti di kampung?
   A 52 hari B 53 hari
   C 54 hari D 55 hari

JAWAPAN :

LIVEWORKSHEETS

14. Rajah di bawah menunjukkan waktu mula dan waktu tamat pelayaran Encik Sudir.

Hitung tempoh pelayaran Encik Sudir.

A 4 hari 7 jam
B 4 hari 5 jam
C 3 hari 6 jam
D 3 hari 5 jam

JAWAPAN :

15. Jadual di bawah menunjukkan jangka hayat bagi dua ekor penyu.

Penyu *P*	1.05 abad
Penyu *Q*	$\frac{1}{10}$ abad kurang daripada penyu *P*

Hitung jangka hayat, dalam tahun, bagi penyu *Q*.

A 115
B 105
C 95
D 85

JAWAPAN :

16. Jadual di bawah menunjukkan usia dua buah bangunan bersejarah di Malaysia pada tahun 2021.

Bangunan Sultan Abdul Samad	$1\frac{1}{4}$ abad
Bangunan Kereta Api Tanah Melayu	1.36 abad

Berapakah beza usia antara kedua-dua bangunan itu?

A 16 tahun
B 13 tahun
C 11 tahun
D 10 tahun

JAWAPAN :

17. Suatu pelayaran bermula pada jam 0930, Rabu hingga jam 1630, Jumaat. Hitung tempoh pelayaran itu.

A 2 hari 7 jam
B 2 hari 8 jam
C 3 hari 7 jam
D 3 hari 8 jam

JAWAPAN :

18. Rajah di bawah menunjukkan tarikh mula dan tarikh siap suatu projek pembinaan.

PROJEK PEMBINAAN RUMAH KEDAI

Tarikh mula : 10 September 2021
Tarikh siap : 4 Mac 2022

Hitung tempoh masa, dalam hari, projek pembinaan rumah kedai itu.

A 174 hari
B 175 hari
C 176 hari
D 177 hari

JAWAPAN :

19. Rajah di bawah menunjukkan usia bagi empat utas jam tangan koleksi Azli.

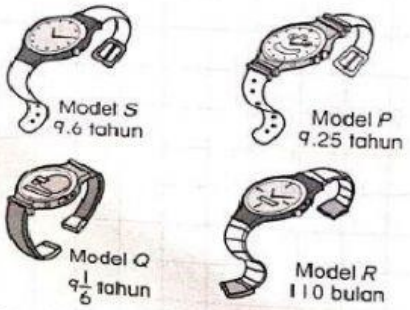

Model jam tangan yang manakah mempunyai usia yang sama?

A *P* dan *Q*
B *P* dan *R*
C *Q* dan *R*
D *Q* dan *S*

JAWAPAN :

20. Rajah di bawah menunjukkan usia dua buah tembikar.

Hitung beza usia antara dua buah tembikar itu.

A 107 tahun
B 98 tahun
C 82 tahun
D 80 tahun

JAWAPAN :

LIVEWORKSHEETS