LKPD: 01

Lembar Kerja Peserta Didik

IPS

KELAS 9

BAB 1 INTERAKSI ANTAR RUANG BENUA ASIA DAN BENUA LAINNYA A. KONDISI GEOGRAFIS BENUA ASIA DAN BENUA LAINNYA ((letak dan luas, iklim, geologi, rupa bumi, tata air, tanah, flora dan fauna) melalui peta rupa bumi)	
Indikator Pencapaian Kompetensi	1. Mendeskripsikan Letak benua Asia dan benua lainnya
	2. Membandingkan luas benua Asia dan benua lainnya
	3. Mengidentifikasi keadaan iklim benua Asia dan benua lainnya

Nama :

Kelas :

Anastasia Ana lewar,S.Pd
Guru IPS Kelas 9/ SMPS Slamet Riyadi Soa

LIVEWORKSHEETS

Unuk mengerjakan tugas ini silakan membaca buku pelajaran IPS 9 atau menonton video berikut!





PENGETAHUAN

A. Letak Benua Asia dan benua lainnya di dunia

- BENUA ASIA

1. Letak astronomis Benua ASIA (Cara kerjanya : mengisi derajat bujur/lintang)

Secara astronomis benua Asia terletak di antara :
….. ˚LU - ….. ˚LS DAN ….. ˚ BT - …… ˚ BT

2. Letak geografis benua Asia (Cara kerjanya : membuat tanda centang)

Batas- batas benua Asia	Bagian Utara	Bagian Selatan	Bagian Timur	Bagian Barat
Selat Bering dan Samudra Pasifik				
Samudra Arktik				
Benua Eropa, Pegunungan Ural, Laut Kaspia, Laut Hitam				
Samudra Hindia				

LIVEWORKSHEETS

- BENUA AFRIKA

1. Letak astronomis Benua Afrika(Cara kerjanya : mengisi derajat bujur/lintang)

Secara astronomis benua Asia terletak di antara : ….. ˚LU - ….. ˚LS DAN ….. ˚ BB - …… ˚ BT

2. Letak geografis benua Afrika (Cara kerjanya : membuat tanda centang)

Batas- batas benua Afrika	Bagian Utara	Bagian Selatan	Bagian Timur	Bagian Barat
Samudra Hindia				
Laut Tengah				
Samudra Atlantik				

- BENUA AMERIKA

1. Letak astronomis Benua Amerika(Cara kerjanya : mengisi derajat bujur/lintang)

Secara astronomis benua Amerika terletak di antara : ….. ˚LU - ….. ˚LS DAN ….. ˚ BT - …… ˚ BB

2. Letak geografis benua Amerika(Cara kerjanya : membuat tanda centang)

Batas- batas benua Amerika	Bagian Utara	Bagian Selatan	Bagian Timur	Bagian Barat
Laut Weddel, Samudra Atlantik, dan Samudra Pasifik				
Samudra Arktik				
Samudra Pasifik				
Samudra Atlantik				

- BENUA EROPA

1. Letak astronomis Benua Eropa(Cara kerjanya : mengisi derajat bujur/lintang)

Secara astronomis benua Eropa terletak di antara : ….. ˚LU - ….. ˚LU DAN ….. ˚ BB - …… ˚ BT

2. Letak geografis benua Eropa(Cara kerjanya : membuat tanda centang)

Batas- batas benua Eropa	Bagian Utara	Bagian Selatan	Bagian Timur	Bagian Barat
Benua Asia				
Laut Tengah				
Samudra Atlantik				
Samudra Arktik				

- BENUA AUSTRALIA

1. Letak astronomis Benua Australia (Cara kerjanya : mengisi derajat bujur/lintang)

Secara astronomis benua Australia terletak di antara : ….. ˚LS - ….. ˚LS DAN ….. ˚ BT - …… ˚ BT

LIVEWORKSHEETS

2. Letak geografis benua Australia(Cara kerjanya : membuat tanda centang)

Batas- batas benua Australia	Bagian Utara	Bagian Selatan	Bagian Timur	Bagian Barat
Samudra Pasifik, Laut Tasman, dan Laut Coral.				
Samudra Hindia.				
Laut Timor, Laut Arafuru, dan Selat Torres.				

B. Luas Benua di dunia

Tariklah kotak nama benua dan luasnya dan tempelkan pada tempat yang disediakan sesuai urutan luasnya		
No	Urutan benua menurut luasnya	Pilihan Jawaban
1		**AFRIKA :** 30.290.000 km2.
2		**AMERIKA :** 42.057.100 km2.
3		**EROPA :** 10.355.000 km2.
4		**ASIA :** 44.000.000 km2
5		**AUSTRALIA :** 8.945.000 km2

C. Keaadaan Iklim benua – benua di dunia

Keadaan Iklim benua – benua di dunia menurut pembagian iklim matahari, dapat diamat pada gambar berikut ini .

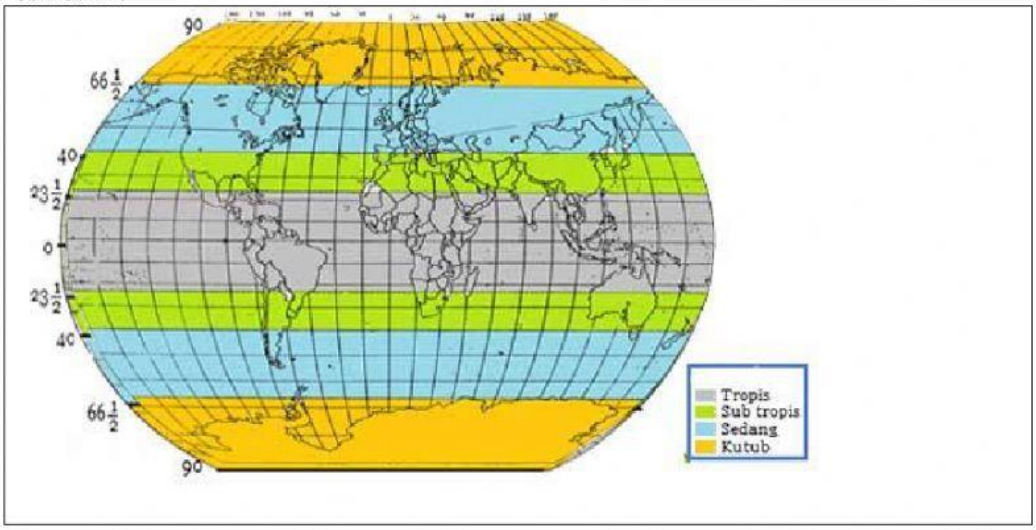

LIVEWORKSHEETS

Perhatikan gambar diatas dan berilah tanda centang pada jenis iklim matahari sesuai nama benua yang ada.

NO	Benua	Jenis Iklim			
		Tropis	Sub Tropis	Sedang	Dingin
1	ASIA				
2	AFRIKA				
3	AMERIKA				
4	AUSTRALIA				
5	EROPA				
6	ANTARTIKA				

KETERAMPILAN

1. Gambar 1.
Buatlah garis yang menghubungkan nomor dengan nama benua yang ada!

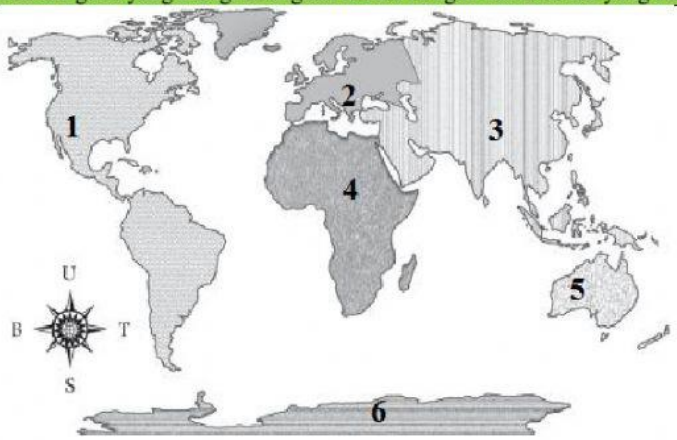

Pilihan Jawaban

- EROPA
- ASIA
- AFRIKA
- AUSTRALIA
- ANTARTIKA
- AMERIKA

2. Gambar 2.
Tariklah kotak nama benua dan tempelkan pada titik- tiktik sesuai pertanyaan yang tersedia!

Pertanyaan

Benua yang seluruh wilayahnya berada di wilayah belahan bumi bagian Utara adalah :

a. Benua …..

b. Benua …..

Benua yang seluruh wilayahnya berada di wilayah belahan bumi bagian Selatan adalah :

a. Benua …..

b. Benua …..

Benua yang wilayahnya berada di wilayah belahan bumi bagian Utara sampai Selatan adalah :

a. Benua …..

b. Benua …..

Pilihan Jawaban

- ASIA
- AFRIKA
- AMERIKA
- AUSTRALIA
- ANTARTIKA
- EROPA

LIVEWORKSHEETS

3. Gambar 3 Tariklah kotak nama benua dan tempelkan pada titik-tiktik sesuai pertanyaan yang tersedia!	Pertanyaan	Pilihan Jawaban
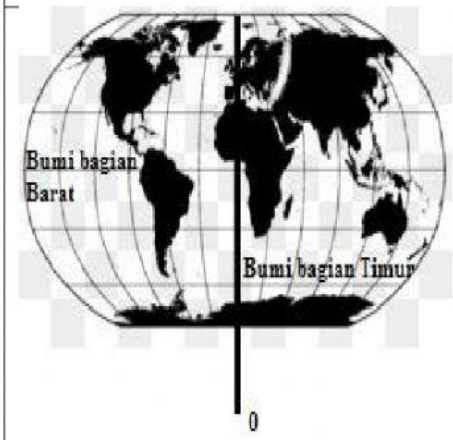	Benua yang seluruh wilayahnya berada di wilayah belahan bumi bagian Timur adalah : Benua ….. Benua ….. Benua yang seluruh wilayahnya berada di wilayah belahan bumi bagian Barat adalah : Benua ….. Benua yang wilayahnya berada di wilayah belahan bumi bagian Timur sampai Barat adalah : Benua ….. Benua ….. Benua …..	ASIA AFRIKA AMERIKA AUSTRALIA ANTARTIKA EROPA

LIVEWORKSHEETS