¿Cuánto aprendimos?

(Prueba diagnóstica)

2do Grado de Primaria

LIVEWORKSHEETS

1 María tiene una caja llena de lápices y también tiene lápices fuera de la caja. Observa.

¿Cuántos lápices en **total** tiene María?

a 4 lápices.

b 7 lápices.

c 11 lápices.

---

2 A **19** quítale **7**. ¿Cuánto queda?

a 2

b 12

c 26

LIVEWORKSHEETS

3 Pedro guardó 6 chapitas en una bolsa y puso otras sobre la mesa. Observa.

¿Cuántas chapitas tiene en **total** Pedro?

a 6 chapitas.

b 8 chapitas.

c 14 chapitas.

LIVEWORKSHEETS

4 Observa las galletas y queques que hay sobre la mesa.



¿Cuál de estas comparaciones es **correcta**?

a La cantidad de galletas **es menor** que la de queques.

b La cantidad de galletas **es mayor** que la de queques.

c La cantidad de galletas **es igual** que la de queques.

LIVEWORKSHEETS

5 Estas niñas entrarán al salón respetando el orden de la fila que muestra la figura.



¿Quién entrará en **tercer lugar**?

a Andrea.

b Beti.

c Celia.

---

6 Micaela llevaba una canasta con 12 huevos. En el camino, se le rompieron algunos huevos. Ahora, le quedan 8 huevos sin romper.
¿Cuántos huevos se le rompieron a Micaela?

a 4 huevos.

b 8 huevos.

c 20 huevos.

LIVEWORKSHEETS

7 Felipe cuenta la cantidad de manzanas , mandarinas  y tunas
que tiene. Observa.

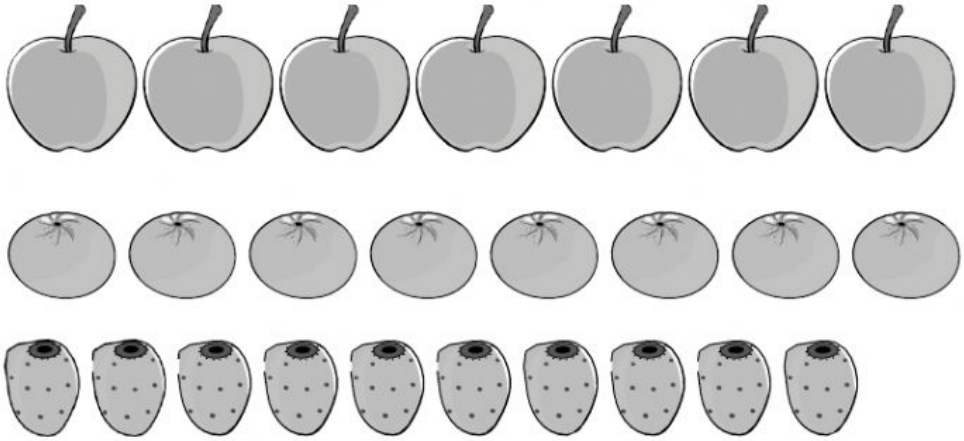

¿Qué fruta tiene Felipe en **mayor cantidad**?

a

b

c

LIVEWORKSHEETS

8 Tania tiene los siguientes lápices.

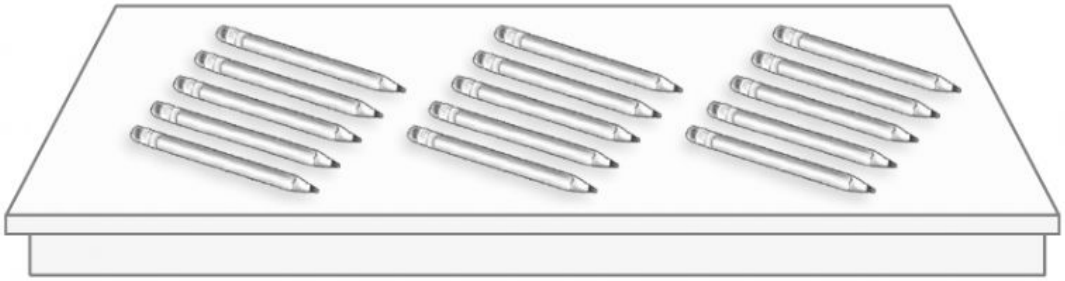

Con la cantidad de lápices que tiene Tania, ¿cuántos **grupos de 10 lápices** puede formar?

a 1 grupo.

b 3 grupos.

c 15 grupos.

LIVEWORKSHEETS

9 Observa en el calendario el mes de enero de 2020.

Carlos fue a visitar a su abuelita. Llegó muy temprano el 14 de enero y se quedó 5 días.

¿Hasta qué día Carlos estuvo en la casa de su abuelita?

a Lunes.

b Martes.

c Sábado.

LIVEWORKSHEETS

(10) Dina tiene estos cubos.

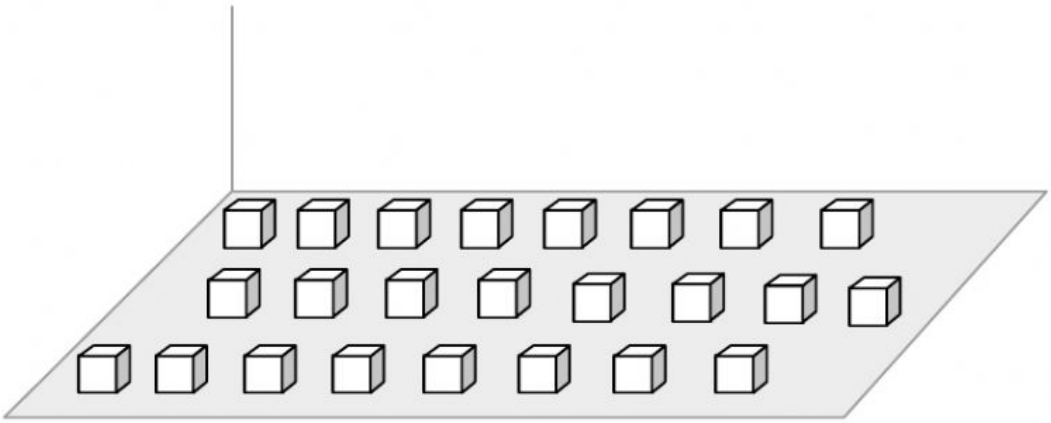

Ella quiere armar **torres de 10 cubos** cada una.

¿Cuántas torres puede armar Dina en total?

_____ torres de 10 cubos.

---

(11) Fernando coloca tarjetas con números siguiendo un patrón. Observa.

8	10	12	14	16	18	

Escribe el número que debe ir en la última tarjeta.

LIVEWORKSHEETS