نشاط في الرياضيات
الفصل السادس عشر: الكسور

الكفاية: يتعرف الكسور ($\frac{١}{٢}$، $\frac{١}{٣}$، $\frac{١}{٤}$) ويمثلها.

س١:أحدد الأشكال المقسمة إلى أجزاء متطابقة فيما يلي:

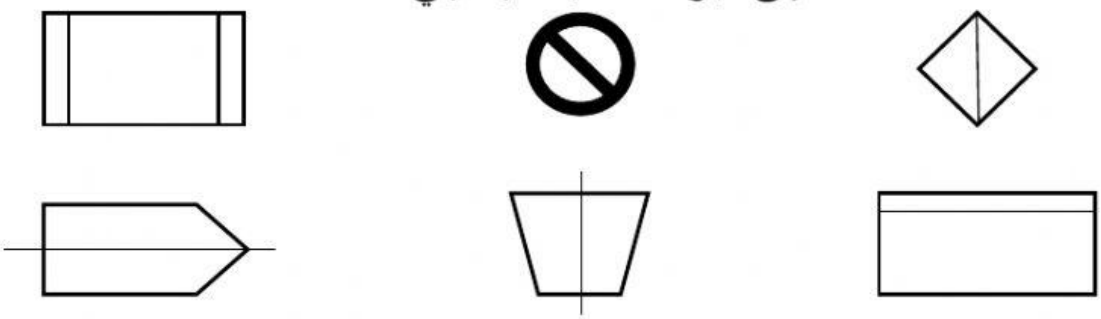

س٢: أحدد الكسر الصحيح فيما يلي :

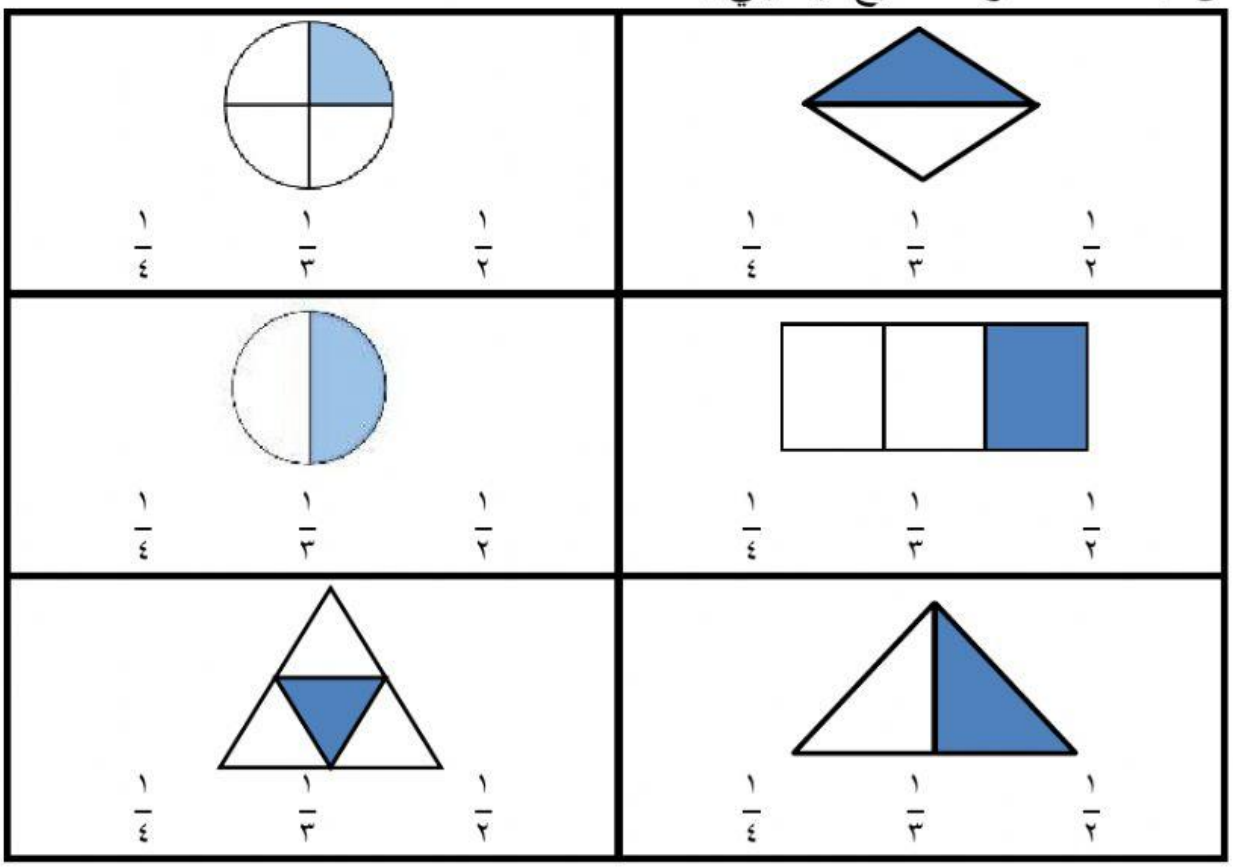

LIVEWORKSHEETS

س٣: أحدد الكسر الذي يمثل الأجزاء الملونة في المجموعات التالية:

	$\frac{١}{٢}$	$\frac{١}{٣}$	$\frac{١}{٤}$
	$\frac{١}{٢}$	$\frac{١}{٣}$	$\frac{١}{٤}$
	$\frac{١}{٢}$	$\frac{١}{٣}$	$\frac{١}{٤}$

الكفاية: يتعرف استراتيجيات لحل مسائل رياضية وحياتية.

س٤: أرسم صورة لأوجد حل المسألة فيما يلي:

- اشترى الأب قالبان من البيتزا، الأول له و لزوجته و الثاني لصغاره الأربعة، فإلى كم قسم سيقسم القالبان؟

بيتزا الأم و الأب	بيتزا الصغار الأربعة
..... جزء	..... أجزاء

@TEACHER_ZZAINAB_BH

LIVEWORKSHEETS