LATIHAN SOAL PERTEMUAN KE-1

Kerjakan di buku portopolio dan selesaikan dengan menggunakan cara penyelesaiannya. Kemudian serahkan lampiran foto hasil pekerjaan kalian di Google Form.

PILIHAN GANDA

1. Di bawah ini yang merupakan bilangan bulat adalah ...
   a. {2, 3, 5, 7, ... }
   b. {... , -2, -1, 0, 1, 2, ... }
   c. {1, 3, 5, 7, ... }
   d. {0, 1, 2, 3, ... }
2. Hasil dari $-15 + (-12 : 3)$ adalah ...
   a. -19
   b. -11
   c. -9
   d. 9
3. Lambang * berarti "kalikan bilangan pertama dengan 6, kemudian hasilnya dibagikan dengan bilangan kedua". Nilai dari 4 * 3 adalah ...
   a. 11
   b. 5
   c. 8
   d. 3
4. Urutkan bilangan-bilangan berikut: $-121, 25, -13, -49, 10, 36$ lalu pilihlah jawaban yang sesuai dengan letakkan di garis bilangan ...

a.

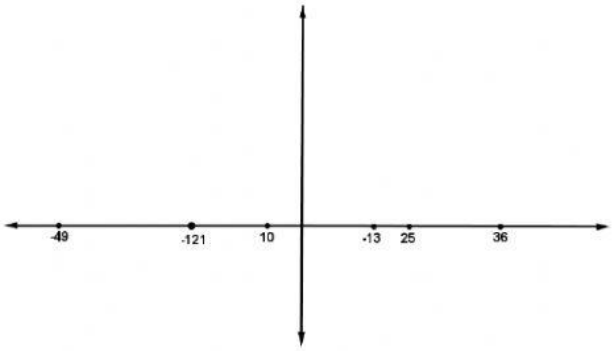

b.

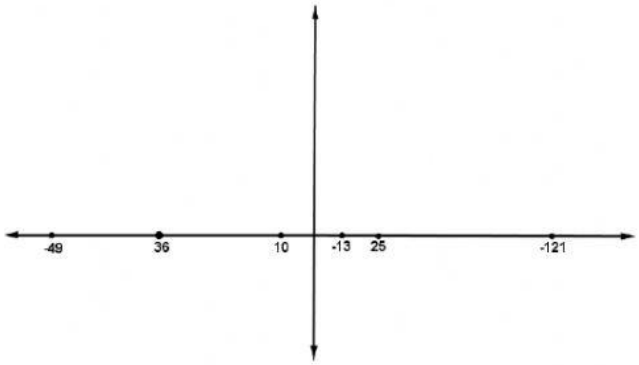

c.

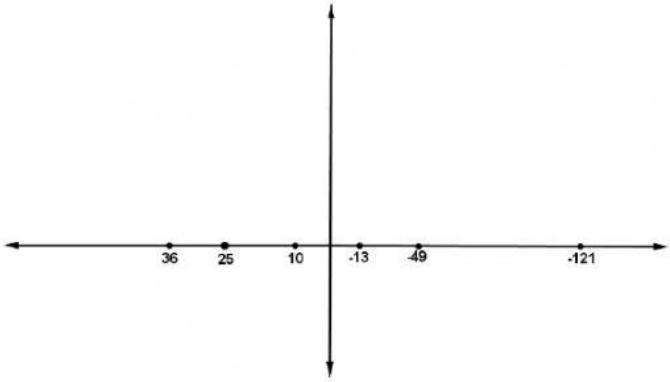

LIVEWORKSHEETS

d. 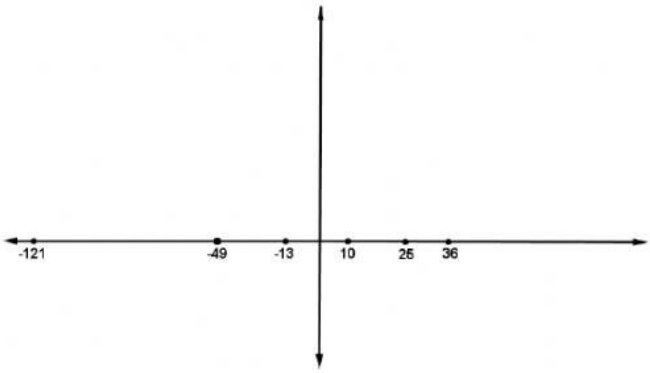

MENJODOHKAN

1. Untuk menjahit satu karung beras diperlukan benang sepanjang 5 m, maka untuk menjahit 120 karung diperlukan benang sepanjang ... m.	a. 31
2. Jika $p = -3, q = -7,$ dan $r = 5,$ maka nilai dari $(3p - r) : q$ adalah ...	b. 600
3. Suhu di suatu ruangan pendingin adalah -7^0C. Suhu di dalam ruangan 24^0C. Selisih suhu ruangan pendingin dengan suhu ruangan adalah ... ^{0}C.	c. 2

URAIAN

1. Dalam suatu perlombaan, pedoman penskoran yang ditetapkan juri adalah jawaban yang benar diberi nilai 4, jawaban yang salah diberi nilai -2, dan soal yang tidak dijawab diberi nilai 0. Jumlah soal yang diujikan ada 10 soal, tentukan skor dari Ani, Adit dan Dwi, jika :
   a. Dwi menjawab 8 soal benar dan tidak menjawab 2 soal. Berapakah skor Dwi?
   b. Ani menjawab 5 soal benar dan 1 soal salah. Berapakah skor Ani?
   c. Adit menjawab 4 soal benar dan 3 soal salah. Berapakah skor Adit?
   d. Batas skor minimum peserta untuk bisa masuk babak selanjutnya sama dengan 25, siapakah yang bisa masuk ke babak selanjutnya?

☺ SELAMAT MENGERJAKAN DAN TETAP JAGA KESEHATAN KALIAN ☺

LIVEWORKSHEETS