KRISTAL CERAH DAYCARE EDUCATION
小晶晶安亲教育
4年纪数学评审 试卷（一）

1 小时

姓名：　　分数：_____ / 40

班级：　　家长签名：

这份试卷共有 40 题。全部题目必须作答。

1) 将七万二千零一写成数字。

A. 70 021

B. 70 121

C. 72 201

D. 72 001

2) $5\frac{3}{8}$ =

A. $\frac{16}{4}$

B. $\frac{29}{8}$

C. $\frac{43}{4}$

D. $\frac{43}{8}$

3) 把 RM4469.45 的令吉近似值是？

A. RM4468

B. RM4469

C. RM4470

D. RM4570

4) 把 $\frac{2}{10}$ 化为百分比。

A. 20%

B. 40%

C. 60%

D. 80%

5) $14 - 3\frac{46}{1000}$ =

A. 10.54

B. 10.954

C. 11.046

D. 11.46

6) 7.624 ÷4 =

A. $\frac{196}{1000}$

B. $1\frac{96}{1000}$

C. $1\frac{906}{1000}$

D. $1\frac{960}{1000}$

7) 以下哪项是不正确的？

A. 5 小时 = 300 分钟

B. $\frac{1}{2}$ 个年代 = 5 年

C. $\frac{5}{6}$ 天 = 20 小时

D. 3 年 = 1098 天

8)下图由同样大小的圆所组成。

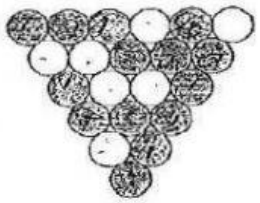

空白部分占全图的几分之几？

A. $\frac{1}{3}$

B. $\frac{2}{5}$

C. $\frac{7}{21}$

D. $\frac{14}{21}$

LIVEWORKSHEETS

9) 3 天 14 小时 等于多少小时？

A. 86 小时

B. 62 小时

C. 58 小时

D. 42 小时

10) $\frac{2}{5} + \frac{1}{2} - \frac{3}{10} =$

A. $\frac{1}{10}$

B. $\frac{3}{10}$

C. $\frac{3}{5}$

D. $\frac{4}{5}$

11) $Q + 1\frac{9}{100} - 2.19 = 6.4$

Q 的值是多少？

A. 7.5

B. 6.11

C. 5.3

D. 3.12

12) 下图显示四张顺序排列的数目卡。

0.15	Y	48%	0.6

找出 Y 的值。

A. 0.07

B. 0.49

C. 30%

D. 3%

13) 55 873 + _____ = 79 966

A. 20 355

B. 23 345

C. 24 093

D. 25 839

14) 这是一个分成几个相等部分的圆。

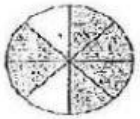

以下哪个分数与涂黑部分所占的分数的值相等？

A. $\frac{1}{2}$

B. $\frac{2}{3}$

C. $\frac{3}{4}$

D. $\frac{4}{6}$

15) 叔叔有 10 箱苹果。每箱有三打数量的苹果。他卖出一半的苹果，剩下多少苹果？

A. 432

B. 360

C. 180

D. 150

16) 一个箩筐装了 112 个木瓜，其中有 44 个被虫子蛀了。好的木瓜占全部木瓜的几分之几？

A. $\frac{29}{30}$

B. $\frac{17}{28}$

C. $\frac{15}{26}$

D. $\frac{7}{16}$

17) 弟弟每个月将 RM147.50 存入扑满。八个月后弟弟共储蓄了多少钱？

A. RM 785.50

B. RM 885

C. RM 1180

D. RM 1475

LIVEWORKSHEETS

18）下图显示两张大小相同的卡片。
每张卡片分成大小相同的部分。

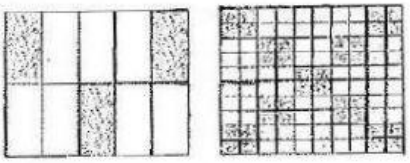

把这两张卡片涂黑的部分所代表的小数的和数写成百分比。

A. 66%
B. 63%
C. 39%
D. 36%

19）以下是两个容器里的水的体积。

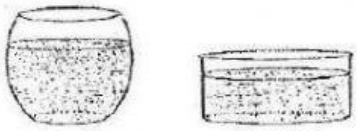

把这两个容器里的水倒入一个大箱子里。
这个大箱子的体积是这两个容器的四倍。
以 ℓ 为单位，装满这个箱子里水的体积是多少？

A. 0.88
B. 0.908
C. 4.54
D. 18.16



20）上图显示 4 杯橙汁所需要的橙数量。
10 杯橙汁需要多少个橙？

A. 8
B. 18
C. 20
D. 24

21）一个篮球的成本 RM3，售价是 RM8。
如果一盒有 12 个篮球，每卖一盒篮球可赚多少钱？

A. RM96
B. RM80
C. RM60
D. RM50

22）这是一个果园里果树的种类，山竹占的部分没有显示出来。

果树	山竹	红毛丹	龙眼
部分		0.25	28%

果园里有 100 棵果树。山竹占的百分比是多少？

A. 37%
B. 38%
C. 47%
D. 53%

23）下图显示黄慧的储蓄。



一本小说的价格是 RM6.80，黄慧用储蓄的钱买了五本小说，她还剩下多少钱？

A. RM 77
B. RM 36.20
C. RM12.70
D. RM 9

LIVEWORKSHEETS

24）千惠有 10 129 枚邮票，他把其中的 7084 枚收集在集邮簿里，剩下的邮票平均分给弟弟和 4 名朋友。该如何计算 他们每人所得的邮票数量？

A. （10 129 - 7084）÷ 4

B. （10 129 - 7084 ）÷ 5

C. $\frac{10129 + 7084}{4}$

D. $\frac{10129 \times 4}{5}$

25）一袋糖果里有 $\frac{2}{9}$ 是巧克力味，$\frac{1}{3}$ 是草莓味，剩下的是柠檬味。柠檬味的糖果占了几分之几？

A. $\frac{1}{9}$

B. $\frac{4}{9}$

C. $\frac{2}{3}$

D. $\frac{5}{9}$

26）下图显示 3 种水果的数量。

8 个　　24 个

西瓜的数量占全部水果的 50%，
找出西瓜的数量。

A. 16

B. 32

C. 64

D. 82

27）三名学生完成一幅画的时间。小罗的时间没有显示出来。

学生	时间
小罗	
亚文	3 个星期 4 天
志祥	9 个星期 3 天

3 个学生所完成的时间共是 20 个星期 1 天。小罗完成的时间是多少时间？

A. 2 个星期 2 天

B. 3 个星期 4 天

C. 5 个星期 6 天

D. 7 个星期 1 天

28）家明的年薪有 RM30 000，嘉华的年薪比家明少出 RM3720。
计算嘉华的年薪。

A. RM 26 280

B. RM 28 140

C. RM 56 280

D. RM 63 720

29）下图显示 2 本字典的重量。

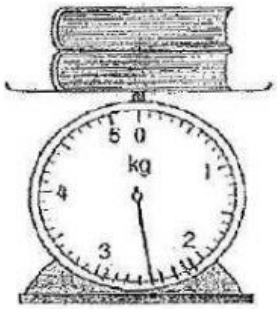

12 本同样的字典的重量是多少 kg?

A. 5

B. 15

C. 25

D. 30

LIVEWORKSHEETS

30）聚美建筑公司共用了 14 年 4 个月完成 4 幢高楼。完成每幢高楼的建筑工程的时间是相同的。该建筑公司用了多少年和月建好一幢高楼？

A. 2 年 3 个月
B. 2 年 7 个月
C. 3 年 3 个月
D. 3 年 7 个月

31）坤成超市举办了赠券优惠活动，凡是购买价值 RM40 以上的物品将获得 3 张赠券。阿姨购买了 RM199，可以获得多少张赠券？

A. 9
B. 12
C. 15
D. 18

32）下表显示康康的明明的年龄。

康康	13 岁 2 个月
明明	11 岁 8 个月

他们两人的年龄相差多少？

A. 1 岁 4 个月
B. 1 岁 6 个月
C. 1 岁 7 个月
D. 2 岁 10 个月

33）下图显示一个百格图。



姐姐要涂黑百格图的 63%，她须再涂黑多少个格子？

A. 24
B. 26
C. 37
D. 39

34）公共厕所的清洁工人发现，28 卷的手纸足够供应一个星期的使用量。6 月份须准备多少卷的手纸？

A. 120
B. 150
C. 168
D. 240

35）姐姐和弟弟的平均年龄是 14 岁 4 个月，姐姐的年龄是 17 岁 8 个月，弟弟的年龄是多少？

A. 9
B. 10
C. 11
D. 12

36）下图显示一白糖的质量。



12.22 kg

糖厂的工人把 7 包白糖重新包装成 10 包。每包白糖的质量是多少 kg？

A. 122.2
B. 85.54
C. 8.554
D. 1.222

37）某小贩每天的收入是 RM100，如果在七月和八月他每天都工作，那么这两个月他的收入一共是多少？

A. RM 3100
B. RM 6000
C. RM 6100
D. RM 6200

LIVEWORKSHEETS

38）下图显示坤成幼儿园上课与放学的时间。

上课　　放学



坤成幼儿园的休息时间是 30 分钟。
找出该校真正上课的时间。

A. 3 小时 10 分钟
B. 3 小时 20 分钟
C. 3 小时 30 分钟
D. 4 小时

39) 凯里有 $\frac{2}{3}$ m 的绸带，他用了 $\frac{5}{12}$ m 的绸带，然后买了 $\frac{5}{6}$ m 的绸带。凯里剩下几分之几的绸带？

A. $\frac{11}{12}$

B. 1

C. $1\frac{1}{12}$

D. $1\frac{1}{6}$

40）李太太家里要请客而准备的食物。

食物	质量
炒米粉	5.72 kg
糯米饭	炒米粉的 3 倍

李太太共准备了多少 kg 的食物招待客人？

A. 17.16
B. 22.88
C. 27.16
D. 32.88

LIVEWORKSHEETS