1. **Completa este cuadro.**

Número	C	D	U	Descomposición	Cómo se lee
749					
	3	9	5		
				500 + 80 + 2	
					Ciento setenta y seis
905					

2. **Ordena estos números de mayor a menor.**

344 789 199 798 506 560 900

_____>_____>_____>_____>_____>_____>_____

3. **Resuelve estas operaciones.**

3 5 7	8 9 4	5 3 2	6 0 2
+ 4 9 6	+ 7 5	- 4 1 9	- 5 2 0

4. **Marca la botella donde cabe más.**



LIVEWORKSHEETS

5. Une con flechas según corresponda.

2×8	8
4×2	10
8×3	16
2×5	24

6. Resuelve los siguientes problemas.

Un granjero ha vendido 240 ovejas. Si áun le quedan 182, ¿cuántas ovejas había al principio?

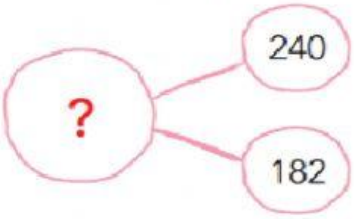

Ha venido ____ ovejas.

Le quedan ____ ovejas.

▶ Había ____ ovejas al principio.

Olga ha utilizado 185 piezas para construir un helicóptero. Si aún le quedan 32, ¿cuántas piezas tenía al principio?

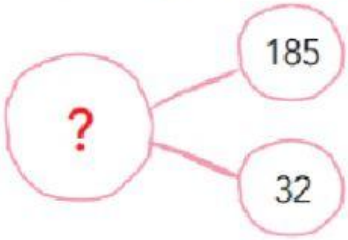

Ha utilizado ____ piezas.

Le quedan ____ piezas.

▶ Tenía ____ piezas al principio.

LIVEWORKSHEETS