COLEGIO ALEMÁN FEDERICO FROEBEL
COCHABAMBA

CAMPO: VIDA TIERRA Y TERRITORIO
ÁREA: CIENCIAS NATURALES
PARCIAL N°1 DEL 2DO TRIMESTRE

NOMBRE Y APELLIDO: NOTA: 35 PUNTOS
CURSO:

1.- Arresta el nombre de cada órgano del sistema digestivo.

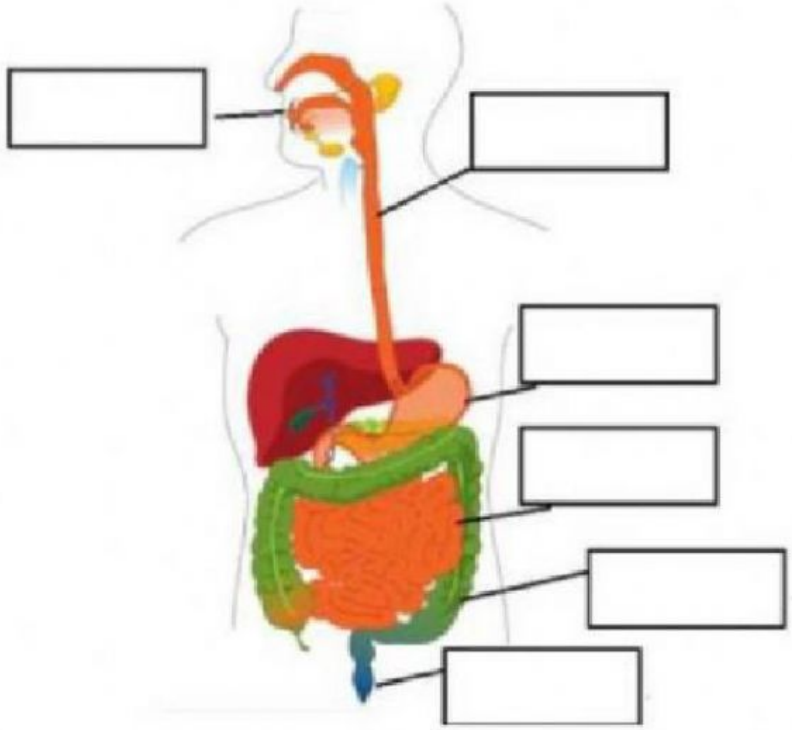

Intestino grueso

Boca

Estómago

Esófago

Recto y ano

Intestino delgado

II.- Escribe el nombre de los órganos

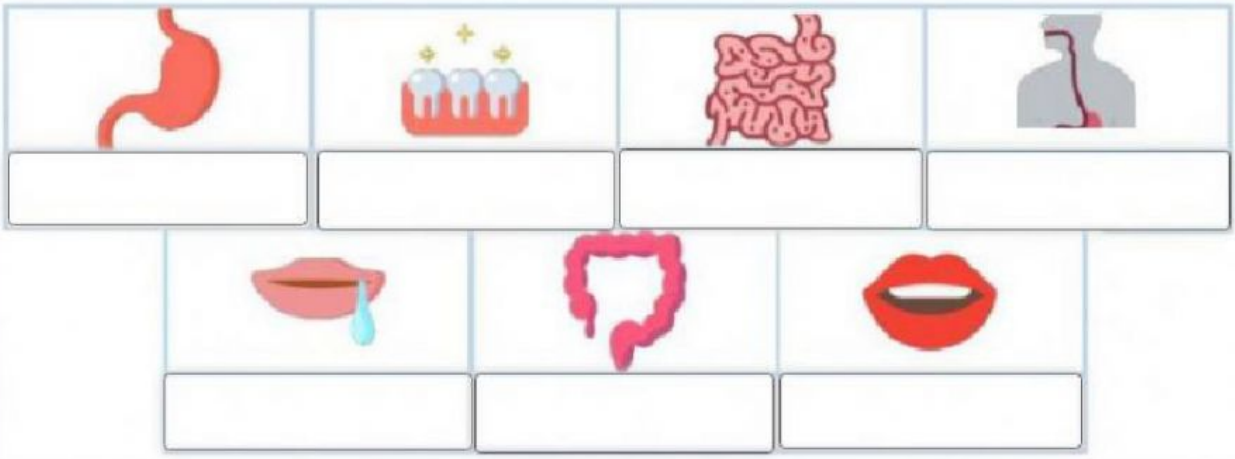

dientes – intestino grueso – boca – saliva –
intestino delgado – estómago – esófago

LIVEWORKSHEETS

III.- Encuentra las palabras en la siguiente sopa de letras.

N	V	S	D	D	I	G	E	S	T	I	Ó	N	W
N	M	B	O	L	R	G	H	F	Q	E	S	M	P
Z	E	P	N	U	T	R	I	E	N	T	E	S	O
A	A	B	B	D	E	S	E	C	H	O	S	D	D
L	N	J	O	I	X	E	A	N	I	B	O	C	A
I	O	Z	L	V	Y	X	J	R	J	D	J	K	Q
M	V	D	O	E	N	E	R	G	Í	A	T	B	L
E	E	E	S	Ó	F	A	G	O	V	O	R	C	Y
N	Q	M	G	K	S	A	L	I	V	A	X	S	O
T	J	I	N	T	E	S	T	I	N	O	S	G	S
O	V	R	T	R	E	C	T	O	A	D	X	K	T
S	E	S	T	Ó	M	A	G	O	J	A	O	T	H
Y	Y	M	A	S	T	I	C	A	R	A	K	Y	K
X	G	U	Z	D	I	E	N	T	E	S	L	I	J

BOCA
BOLO
RECTO
ANO
ALIMENTOS
DESECHOS
DIGESTIÓN
ENERGÍA
NUTRIENTES
INTESTINOS
ESÓFAGO
ESTÓMAGO
DIENTES
SALIVA
MASTICAR

IV.- Selecciona verdadero o falso para cada afirmación.

1.- El cuerpo necesita energía para funcionar.

Verdadero | Falso

2.- Boca, estómago e intestinos forman parte del sistema digestivo.

Verdadero | Falso

3.- En el intestino grueso se absorben los nutrientes de los alimentos.

Verdadero | Falso

4.- La sangre lleva los nutrientes de los alimentos a todo el cuerpo.

Verdadero | Falso

5.- Por la boca se desechan los alimentos que no son absorbidos

Verdadero | Falso

LIVEWORKSHEETS

Ubica donde corresponda las partes del sistema respiratorio

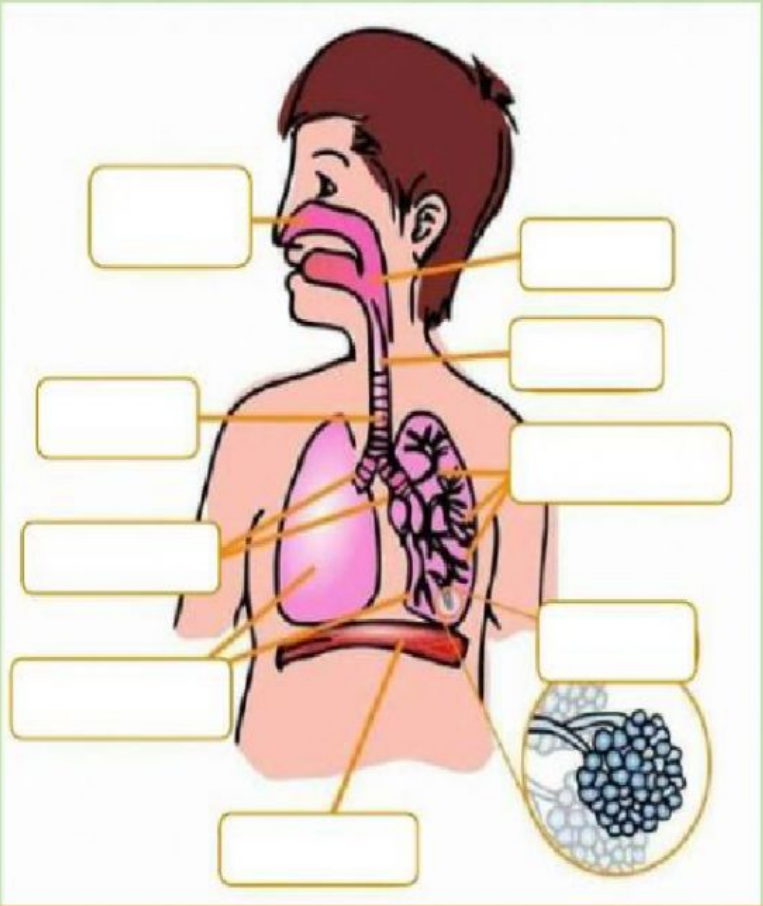

Laringe

Faringe

Bronquiolos

Alvéolos

Tráquea

Bronquios

Fosas nasales.

Pulmones

Diafragma

Seleccione la respuesta correcta.

1- El sistema respiratorio está formado por:

a- Las vías respiratorias y los pulmones.

b- Los pulmones y las fosas nasales.

c- Las vías respiratorias y el hígado.

2- Son los dos movimientos que realizan los pulmones en el proceso de la respiración.

a- Oxígeno y Dióxido de carbono.

b- Inhalar y exhalar.

c- Energía y nutrición.

LIVEWORKSHEETS

3- Elija el enunciado correcto.

a- En la respiración se intercambia oxígeno y gas carbónico con el ambiente.

b- En la espiración los pulmones se agrandan.

c- Los pulmones están en el abdomen.

d- En la inspiración los pulmones se agrandan.

4- Elija los órganos que NO pertenecen al sistema respiratorio.

Laringe	Estómago	Tráquea	Apéndice	Alvéolos

5- Haz Clik en las acciones que indican el cuidado del sistema respiratorio.

6- Completa el crucigrama con la información del recuadro, hazlo en minúsculas.

a- El aire ingresa por la -----

b- Pasa por la----

c- Luego por la -----

d- Después por la ------

e- Y encuentra dos ramificaciones llamadas ----

f- Finalmente llega a los -----

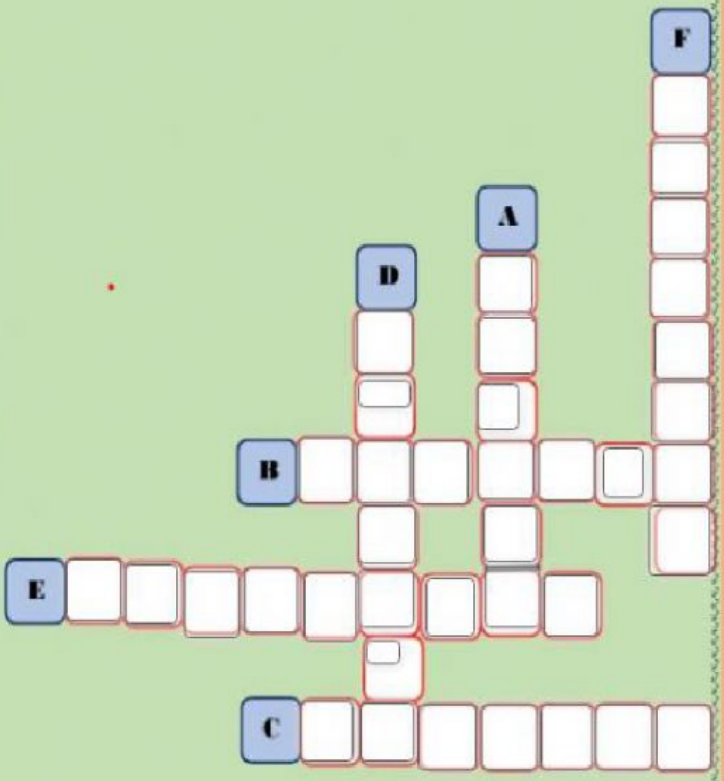

LIVEWORKSHEETS